Определение дробей Визуальное Имя:

Определите под какой буквой находится правильный ответ.

1) Какая из представленных ниже закрашенных фигур соответствует $^5/_8$?

A.
B.
C.
D.

2) Какая из представленных ниже закрашенных фигур соответствует $^2/_6$?

A. 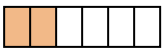
B. 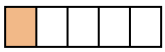
C. 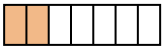
D. 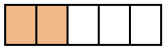

3) Какая из представленных ниже закрашенных фигур соответствует $^3/_7$?

A.
B.
C.
D.

4) Какая из представленных ниже закрашенных фигур соответствует $^3/_{10}$?

A.
B.
C.
D. 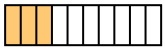

5) Какая из представленных ниже закрашенных фигур соответствует $^8/_{10}$?

A.
B.
C.
D.

6) Какая из представленных ниже закрашенных фигур соответствует $^4/_6$?

A.
B.
C.
D.

7) Какая из представленных ниже закрашенных фигур соответствует $^2/_5$?

A.
B.
C.
D.

8) Какая из представленных ниже закрашенных фигур соответствует $^3/_5$?

A.
B.
C.
D.

9) Какая из представленных ниже закрашенных фигур соответствует $^4/_{10}$?

A. B. C. D.

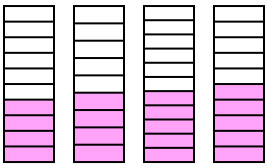

10) Какая из представленных ниже закрашенных фигур соответствует $^5/_7$?

A. B. C. D.

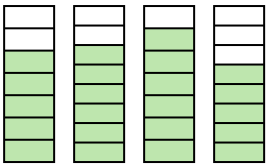

Ответы

1. _____
2. _____
3. _____
4. _____
5. _____
6. _____
7. _____
8. _____
9. _____
10. _____

1-10	90	80	70	60	50	40	30	20	10	0

Определение дробей Визуальное

Имя: **Ключ к правильным ответам**

Определите под какой буквой находится правильный ответ.

1) Какая из представленных ниже закрашенных фигур соответствует $^5/_8$?

A.
B.
C.
D.

2) Какая из представленных ниже закрашенных фигур соответствует $^2/_6$?

A. 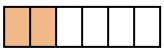
B. 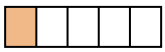
C. 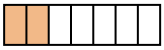
D. 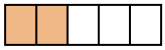

3) Какая из представленных ниже закрашенных фигур соответствует $^3/_7$?

A.
B.
C.
D.

4) Какая из представленных ниже закрашенных фигур соответствует $^3/_{10}$?

A.
B.
C.
D. 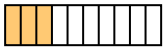

5) Какая из представленных ниже закрашенных фигур соответствует $^8/_{10}$?

A.
B.
C.
D.

6) Какая из представленных ниже закрашенных фигур соответствует $^4/_6$?

A.
B.
C.
D.

7) Какая из представленных ниже закрашенных фигур соответствует $^2/_5$?

A.
B.
C.
D.

8) Какая из представленных ниже закрашенных фигур соответствует $^3/_5$?

A.
B.
C.
D.

9) Какая из представленных ниже закрашенных фигур соответствует $^4/_{10}$?

A. B. C. D.

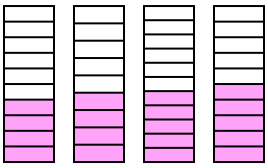

10) Какая из представленных ниже закрашенных фигур соответствует $^5/_7$?

A. B. C. D.

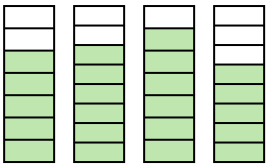

Ответы

1. C
2. A
3. D
4. D
5. A
6. A
7. B
8. D
9. A
10. A