Визуальное деление Имя:

Используйте фигуры, чтобы получить ответ на вопрос.

об) Сколько групп по 6 вы можете выделить из 18 данных фигур?

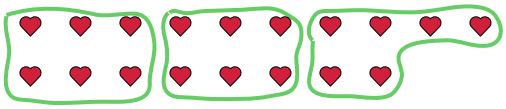

1) Сколько групп по 8 вы можете выделить из 16 данных фигур?

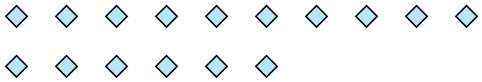

2) Сколько групп по 6 вы можете выделить из 36 данных фигур?



3) Сколько групп по 5 вы можете выделить из 25 данных фигур?

4) Сколько групп по 5 вы можете выделить из 15 данных фигур?

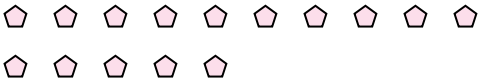

5) Сколько групп по 3 вы можете выделить из 6 данных фигур?

6) Сколько групп по 4 вы можете выделить из 40 данных фигур?

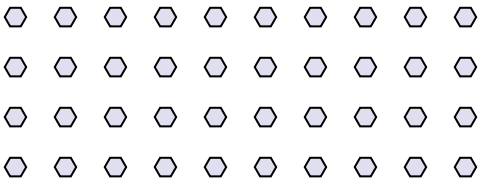

7) Сколько групп по 2 вы можете выделить из 16 данных фигур?

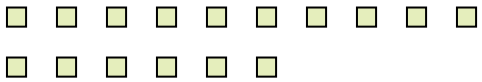

8) Сколько групп по 6 вы можете выделить из 30 данных фигур?



9) Сколько групп по 7 вы можете выделить из 21 данных фигур?



10) Сколько групп по 8 вы можете выделить из 24 данных фигур?

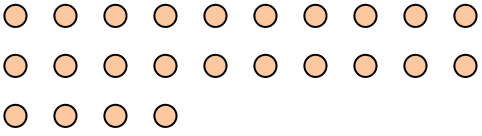

11) Сколько групп по 2 вы можете выделить из 22 данных фигур?



Ответы

об. 3

1. _____

2. _____

3. _____

4. _____

5. _____

6. _____

7. _____

8. _____

9. _____

10. _____

11. _____

1-10	91	82	73	64	55	45	36	27	18	9
11	0									

Используйте фигуры, чтобы получить ответ на вопрос.

об) Сколько групп по 6 вы можете выделить из 18 данных фигур?

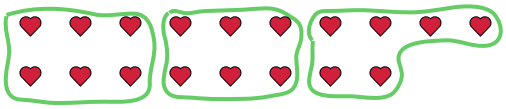

1) Сколько групп по 8 вы можете выделить из 16 данных фигур?

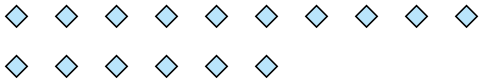

2) Сколько групп по 6 вы можете выделить из 36 данных фигур?



3) Сколько групп по 5 вы можете выделить из 25 данных фигур?

4) Сколько групп по 5 вы можете выделить из 15 данных фигур?

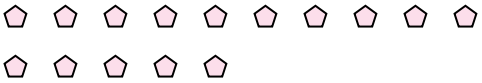

5) Сколько групп по 3 вы можете выделить из 6 данных фигур?

6) Сколько групп по 4 вы можете выделить из 40 данных фигур?

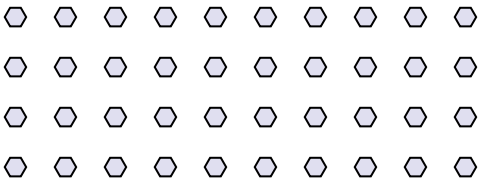

7) Сколько групп по 2 вы можете выделить из 16 данных фигур?

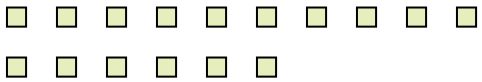

8) Сколько групп по 6 вы можете выделить из 30 данных фигур?



9) Сколько групп по 7 вы можете выделить из 21 данных фигур?



10) Сколько групп по 8 вы можете выделить из 24 данных фигур?

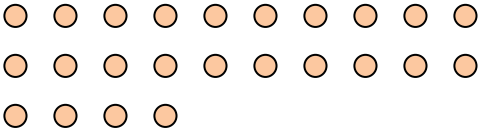

11) Сколько групп по 2 вы можете выделить из 22 данных фигур?



Ответы

об.	3
1.	2
2.	6
3.	5
4.	3
5.	2
6.	10
7.	8
8.	5
9.	3
10.	3
11.	11

1-10	91	82	73	64	55	45	36	27	18	9
11	0									