Визуальное деление Имя:

Используйте фигуры, чтобы получить ответ на вопрос.

об) Сколько групп по 6 вы можете выделить из 18 данных фигур?

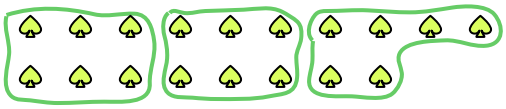

1) Сколько групп по 5 вы можете выделить из 40 данных фигур?

2) Сколько групп по 7 вы можете выделить из 21 данных фигур?



3) Сколько групп по 6 вы можете выделить из 12 данных фигур?

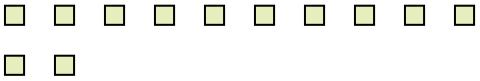

4) Сколько групп по 3 вы можете выделить из 24 данных фигур?



5) Сколько групп по 2 вы можете выделить из 4 данных фигур?

6) Сколько групп по 5 вы можете выделить из 20 данных фигур?

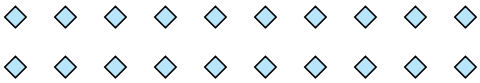

7) Сколько групп по 9 вы можете выделить из 18 данных фигур?

8) Сколько групп по 9 вы можете выделить из 36 данных фигур?



9) Сколько групп по 2 вы можете выделить из 32 данных фигур?

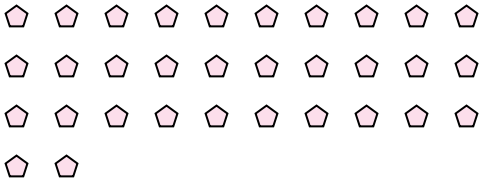

10) Сколько групп по 2 вы можете выделить из 28 данных фигур?

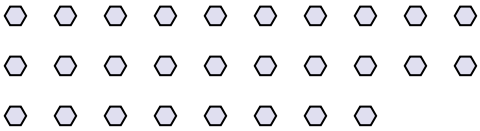

11) Сколько групп по 8 вы можете выделить из 24 данных фигур?

Ответы

об. 3

1. _____

2. _____

3. _____

4. _____

5. _____

6. _____

7. _____

8. _____

9. _____

10. _____

11. _____

1-10	91	82	73	64	55	45	36	27	18	9
11	0									

Визуальное деление

Имя: Ключ к правильным ответам

Используйте фигуры, чтобы получить ответ на вопрос.

об) Сколько групп по 6 вы можете выделить из 18 данных фигур?

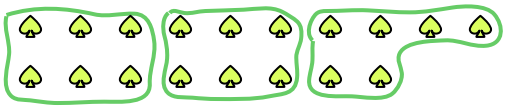

1) Сколько групп по 5 вы можете выделить из 40 данных фигур?

2) Сколько групп по 7 вы можете выделить из 21 данных фигур?



3) Сколько групп по 6 вы можете выделить из 12 данных фигур?

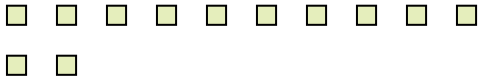

4) Сколько групп по 3 вы можете выделить из 24 данных фигур?



5) Сколько групп по 2 вы можете выделить из 4 данных фигур?

6) Сколько групп по 5 вы можете выделить из 20 данных фигур?

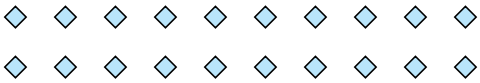

7) Сколько групп по 9 вы можете выделить из 18 данных фигур?

8) Сколько групп по 9 вы можете выделить из 36 данных фигур?



9) Сколько групп по 2 вы можете выделить из 32 данных фигур?

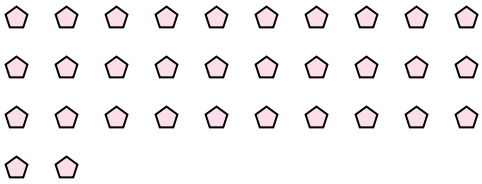

10) Сколько групп по 2 вы можете выделить из 28 данных фигур?

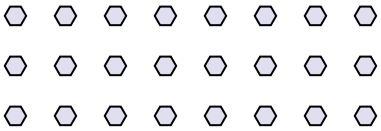

11) Сколько групп по 8 вы можете выделить из 24 данных фигур?

Ответы

об.	3
1.	8
2.	3
3.	2
4.	8
5.	2
6.	4
7.	2
8.	4
9.	16
10.	14
11.	3

1-10	91	82	73	64	55	45	36	27	18	9
11	0									