Визуальное деление Имя:

Используйте фигуры, чтобы получить ответ на вопрос.

об) Сколько групп по 6 вы можете выделить из 18 данных фигур?

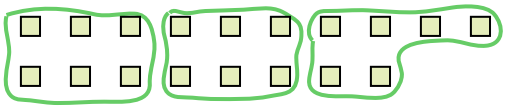

1) Сколько групп по 3 вы можете выделить из 30 данных фигур?



2) Сколько групп по 4 вы можете выделить из 28 данных фигур?



3) Сколько групп по 2 вы можете выделить из 40 данных фигур?



4) Сколько групп по 4 вы можете выделить из 32 данных фигур?

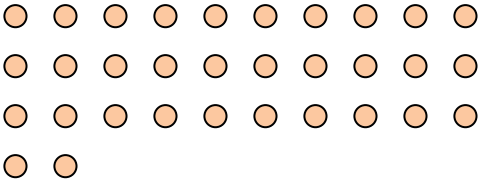

5) Сколько групп по 9 вы можете выделить из 27 данных фигур?

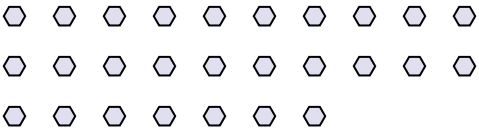

6) Сколько групп по 6 вы можете выделить из 36 данных фигур?

7) Сколько групп по 3 вы можете выделить из 36 данных фигур?

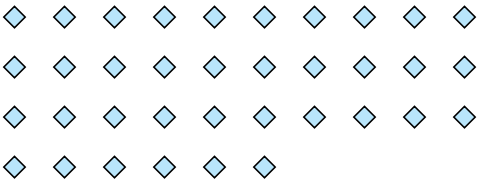

8) Сколько групп по 6 вы можете выделить из 36 данных фигур?



9) Сколько групп по 4 вы можете выделить из 36 данных фигур?

10) Сколько групп по 2 вы можете выделить из 38 данных фигур?

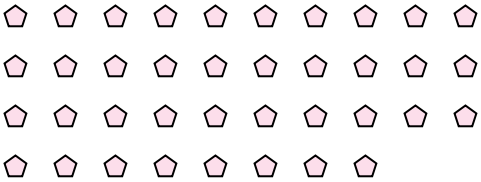

11) Сколько групп по 7 вы можете выделить из 14 данных фигур?

Ответы

об. 3

1. _____

2. _____

3. _____

4. _____

5. _____

6. _____

7. _____

8. _____

9. _____

10. _____

11. _____

1-10	91	82	73	64	55	45	36	27	18	9
11	0									

Визуальное деление

Имя: Ключ к правильным ответам

Используйте фигуры, чтобы получить ответ на вопрос.

об) Сколько групп по 6 вы можете выделить из 18 данных фигур?

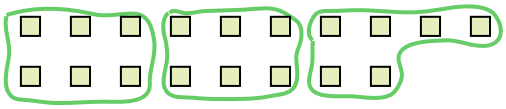

1) Сколько групп по 3 вы можете выделить из 30 данных фигур?



2) Сколько групп по 4 вы можете выделить из 28 данных фигур?



3) Сколько групп по 2 вы можете выделить из 40 данных фигур?



4) Сколько групп по 4 вы можете выделить из 32 данных фигур?

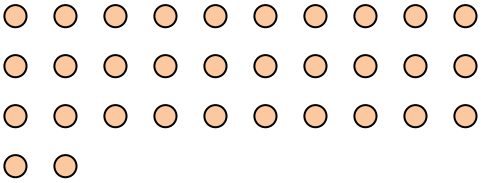

5) Сколько групп по 9 вы можете выделить из 27 данных фигур?

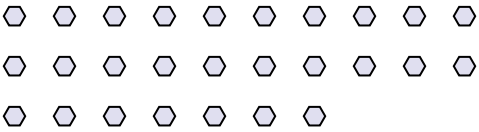

6) Сколько групп по 6 вы можете выделить из 36 данных фигур?

7) Сколько групп по 3 вы можете выделить из 36 данных фигур?

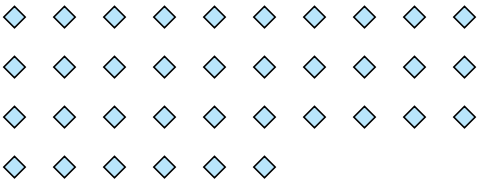

8) Сколько групп по 6 вы можете выделить из 36 данных фигур?



9) Сколько групп по 4 вы можете выделить из 36 данных фигур?

10) Сколько групп по 2 вы можете выделить из 38 данных фигур?

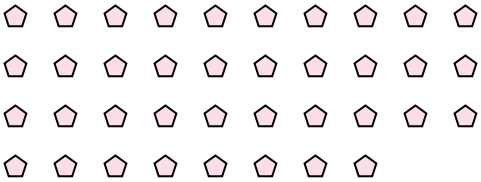

11) Сколько групп по 7 вы можете выделить из 14 данных фигур?

Ответы

об.	3
1.	10
2.	7
3.	20
4.	8
5.	3
6.	6
7.	12
8.	6
9.	9
10.	19
11.	2

1-10	91	82	73	64	55	45	36	27	18	9
11	0									