Десятичные дроби на числовой прямой Имя:

Используйте числовую прямую для ответа на вопрос.

1)

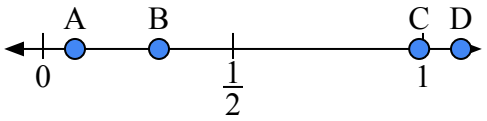

a) Какая буква наилучшим образом отражает значение 1,1?

b) Какая буква наилучшим образом отражает значение 0,99?

2)

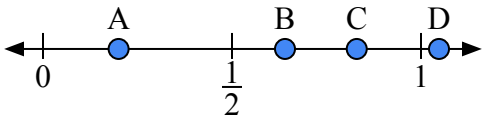

a) Какая буква наилучшим образом отражает значение 0,2?

b) Какая буква наилучшим образом отражает значение 0,83?

3)

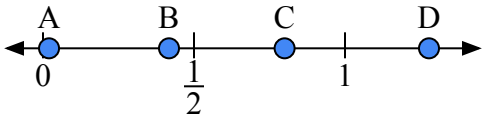

a) Какая буква наилучшим образом отражает значение 0,8?

b) Какая буква наилучшим образом отражает значение 0,02?

4)

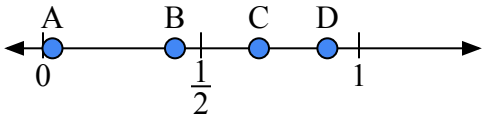

a) Какая буква наилучшим образом отражает значение 0,9?

b) Какая буква наилучшим образом отражает значение 0,03?

5)

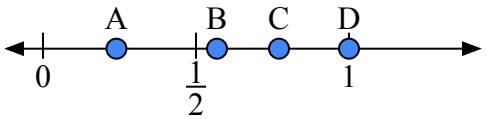

a) Какая буква наилучшим образом отражает значение 1,0?

b) Какая буква наилучшим образом отражает значение 0,24?

6)

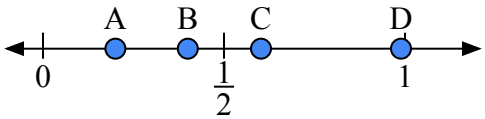

a) Какая буква наилучшим образом отражает значение 0,4?

b) Какая буква наилучшим образом отражает значение 0,20?

7)

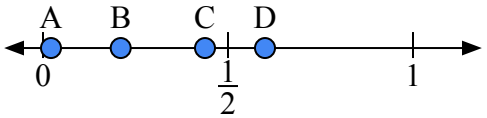

a) Какая буква наилучшим образом отражает значение 0,60?

b) Какая буква наилучшим образом отражает значение 0,21?

8)

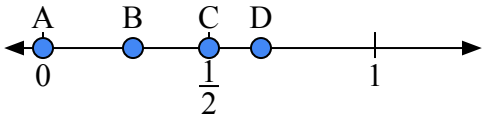

a) Какая буква наилучшим образом отражает значение 0,00?

b) Какая буква наилучшим образом отражает значение 0,50?

Ответы

1. ____ ____
2. ____ ____
3. ____ ____
4. ____ ____
5. ____ ____
6. ____ ____
7. ____ ____
8. ____ ____

1-8	88	75	63	50	38	25	13	0

Десятичные дроби на числовой прямой Имя: **Ключ к правильным ответам**

Используйте числовую прямую для ответа на вопрос.

1)

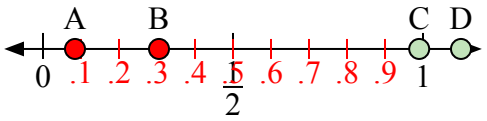

a) Какая буква наилучшим образом отражает значение 1,1?

b) Какая буква наилучшим образом отражает значение 0,99?

2)

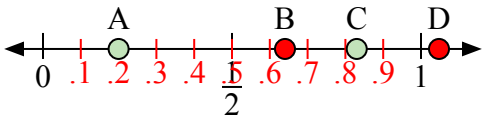

a) Какая буква наилучшим образом отражает значение 0,2?

b) Какая буква наилучшим образом отражает значение 0,83?

3)

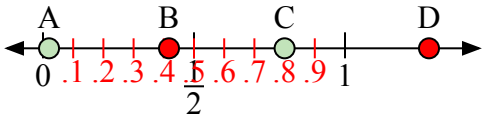

a) Какая буква наилучшим образом отражает значение 0,8?

b) Какая буква наилучшим образом отражает значение 0,02?

4)

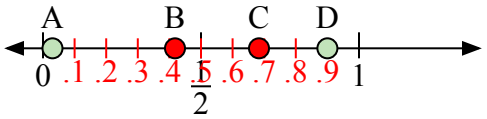

a) Какая буква наилучшим образом отражает значение 0,9?

b) Какая буква наилучшим образом отражает значение 0,03?

5)

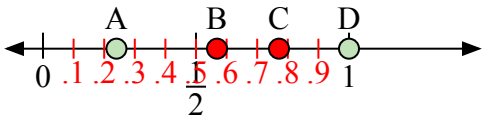

a) Какая буква наилучшим образом отражает значение 1,0?

b) Какая буква наилучшим образом отражает значение 0,24?

6)

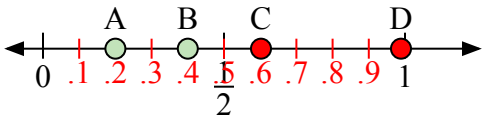

a) Какая буква наилучшим образом отражает значение 0,4?

b) Какая буква наилучшим образом отражает значение 0,20?

7)

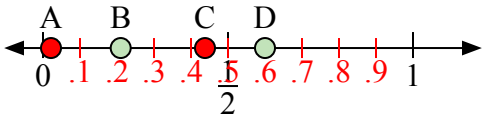

a) Какая буква наилучшим образом отражает значение 0,60?

b) Какая буква наилучшим образом отражает значение 0,21?

8)

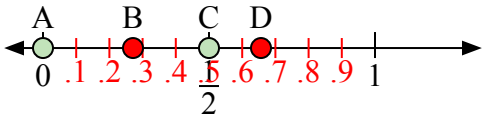

a) Какая буква наилучшим образом отражает значение 0,00?

b) Какая буква наилучшим образом отражает значение 0,50?

Ответы

1.	D	C
2.	A	C
3.	C	A
4.	D	A
5.	D	A
6.	B	A
7.	D	B
8.	A	C

1-8	88	75	63	50	38	25	13	0