Десятичные дроби на числовой прямой Имя:

Используйте числовую прямую для ответа на вопрос.

1)

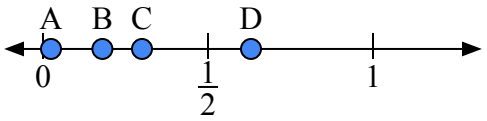

a) Какая буква наилучшим образом отражает значение 0,3?

b) Какая буква наилучшим образом отражает значение 0,18?

2)

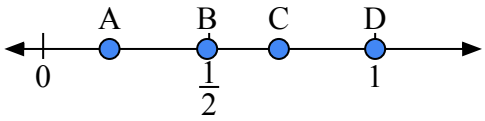

a) Какая буква наилучшим образом отражает значение 0,2?

b) Какая буква наилучшим образом отражает значение 0,71?

3)

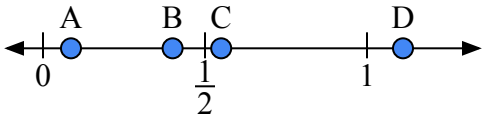

a) Какая буква наилучшим образом отражает значение 0,4?

b) Какая буква наилучшим образом отражает значение 0,55?

4)

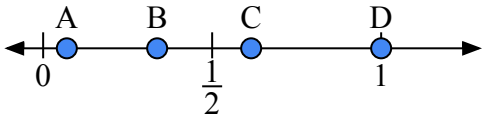

a) Какая буква наилучшим образом отражает значение 1,0?

b) Какая буква наилучшим образом отражает значение 0,07?

5)

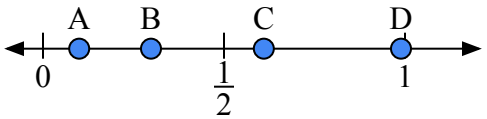

a) Какая буква наилучшим образом отражает значение 0,10?

b) Какая буква наилучшим образом отражает значение 0,61?

6)

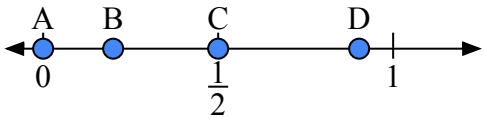

a) Какая буква наилучшим образом отражает значение 0,00?

b) Какая буква наилучшим образом отражает значение 0,50?

7)

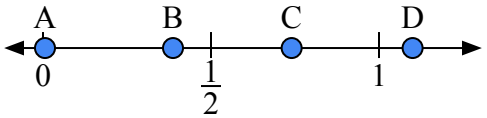

a) Какая буква наилучшим образом отражает значение 1,10?

b) Какая буква наилучшим образом отражает значение 0,74?

8)

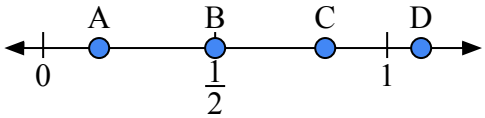

a) Какая буква наилучшим образом отражает значение 0,5?

b) Какая буква наилучшим образом отражает значение 0,82?

Ответы

1. ____ ____
2. ____ ____
3. ____ ____
4. ____ ____
5. ____ ____
6. ____ ____
7. ____ ____
8. ____ ____

1-8	88	75	63	50	38	25	13	0

Используйте числовую прямую для ответа на вопрос.

1)

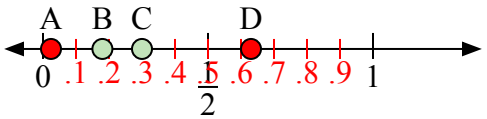

a) Какая буква наилучшим образом отражает значение 0,3?

b) Какая буква наилучшим образом отражает значение 0,18?

2)

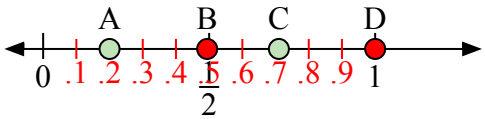

a) Какая буква наилучшим образом отражает значение 0,2?

b) Какая буква наилучшим образом отражает значение 0,71?

3)

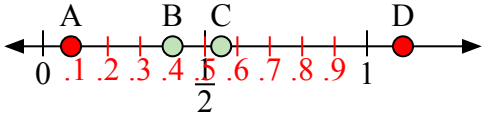

a) Какая буква наилучшим образом отражает значение 0,4?

b) Какая буква наилучшим образом отражает значение 0,55?

4)

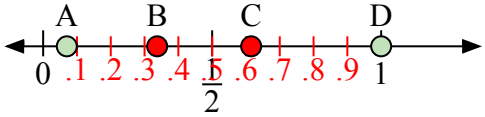

a) Какая буква наилучшим образом отражает значение 1,0?

b) Какая буква наилучшим образом отражает значение 0,07?

5)

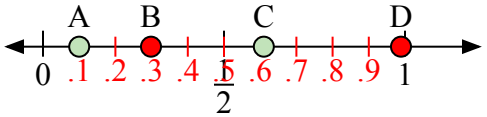

a) Какая буква наилучшим образом отражает значение 0,10?

b) Какая буква наилучшим образом отражает значение 0,61?

6)

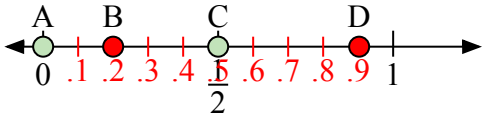

a) Какая буква наилучшим образом отражает значение 0,00?

b) Какая буква наилучшим образом отражает значение 0,50?

7)

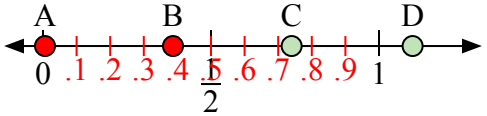

a) Какая буква наилучшим образом отражает значение 1,10?

b) Какая буква наилучшим образом отражает значение 0,74?

8)

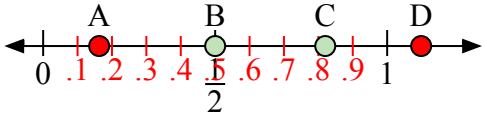

a) Какая буква наилучшим образом отражает значение 0,5?

b) Какая буква наилучшим образом отражает значение 0,82?

Ответы

1.	C	B
2.	A	C
3.	B	C
4.	D	A
5.	A	C
6.	A	C
7.	D	C
8.	B	C

1-8	88	75	63	50	38	25	13	0

Используйте числовую прямую для ответа на вопрос.

1)

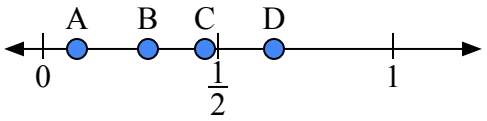

a) Какая буква наилучшим образом отражает значение 0,3?

b) Какая буква наилучшим образом отражает значение 0,66?

2)

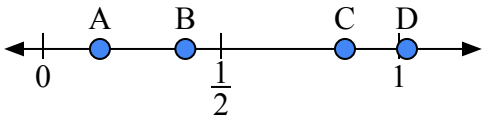

a) Какая буква наилучшим образом отражает значение 0,4?

b) Какая буква наилучшим образом отражает значение 0,16?

3)

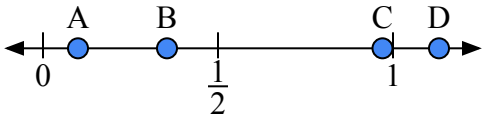

a) Какая буква наилучшим образом отражает значение 0,10?

b) Какая буква наилучшим образом отражает значение 0,97?

4)

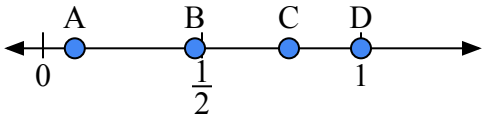

a) Какая буква наилучшим образом отражает значение 1,0?

b) Какая буква наилучшим образом отражает значение 0,10?

5)

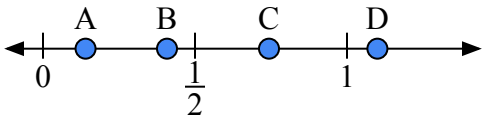

a) Какая буква наилучшим образом отражает значение 1,10?

b) Какая буква наилучшим образом отражает значение 0,14?

6)

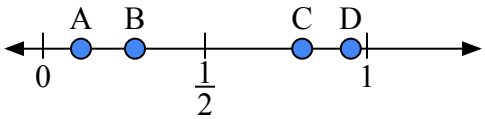

a) Какая буква наилучшим образом отражает значение 0,80?

b) Какая буква наилучшим образом отражает значение 0,95?

7)

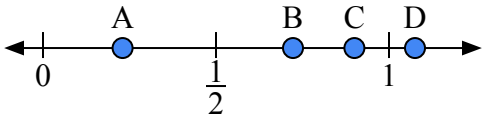

a) Какая буква наилучшим образом отражает значение 0,9?

b) Какая буква наилучшим образом отражает значение 0,23?

8)

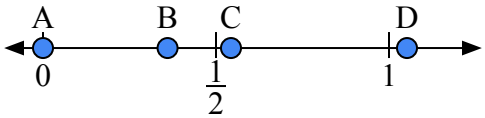

a) Какая буква наилучшим образом отражает значение 0,00?

b) Какая буква наилучшим образом отражает значение 0,36?

Ответы

1. ____ ____
2. ____ ____
3. ____ ____
4. ____ ____
5. ____ ____
6. ____ ____
7. ____ ____
8. ____ ____

1-8	88	75	63	50	38	25	13	0

Используйте числовую прямую для ответа на вопрос.

1)

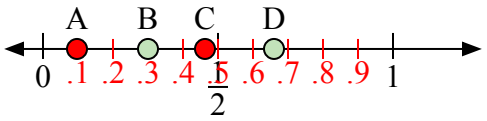

a) Какая буква наилучшим образом отражает значение 0,3?

b) Какая буква наилучшим образом отражает значение 0,66?

2)

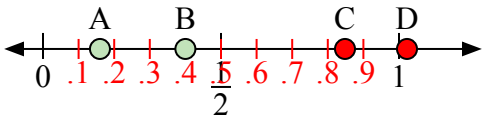

a) Какая буква наилучшим образом отражает значение 0,4?

b) Какая буква наилучшим образом отражает значение 0,16?

3)

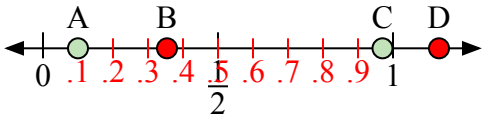

a) Какая буква наилучшим образом отражает значение 0,10?

b) Какая буква наилучшим образом отражает значение 0,97?

4)

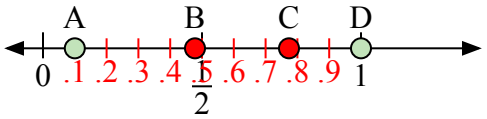

a) Какая буква наилучшим образом отражает значение 1,0?

b) Какая буква наилучшим образом отражает значение 0,10?

5)

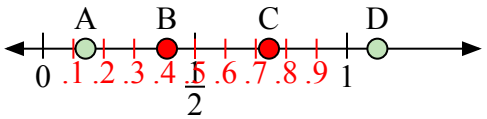

a) Какая буква наилучшим образом отражает значение 1,10?

b) Какая буква наилучшим образом отражает значение 0,14?

6)

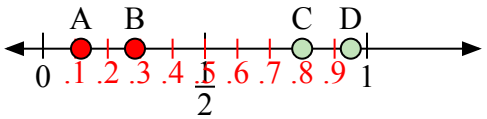

a) Какая буква наилучшим образом отражает значение 0,80?

b) Какая буква наилучшим образом отражает значение 0,95?

7)

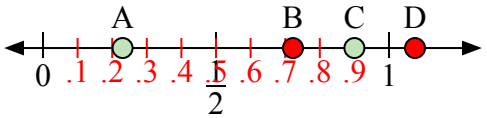

a) Какая буква наилучшим образом отражает значение 0,9?

b) Какая буква наилучшим образом отражает значение 0,23?

8)

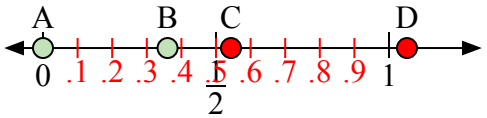

a) Какая буква наилучшим образом отражает значение 0,00?

b) Какая буква наилучшим образом отражает значение 0,36?

Ответы

1.	B	D
2.	B	A
3.	A	C
4.	D	A
5.	D	A
6.	C	D
7.	C	A
8.	A	B

1-8	88	75	63	50	38	25	13	0

Используйте числовую прямую для ответа на вопрос.

1)

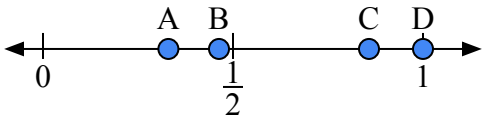

a) Какая буква наилучшим образом отражает значение 1,0?

b) Какая буква наилучшим образом отражает значение 0,33?

2)

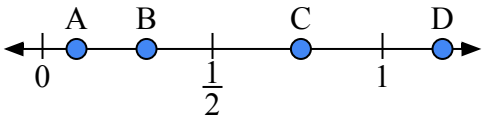

a) Какая буква наилучшим образом отражает значение 0,10?

b) Какая буква наилучшим образом отражает значение 0,76?

3)

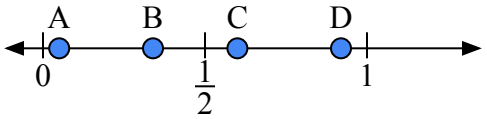

a) Какая буква наилучшим образом отражает значение 0,60?

b) Какая буква наилучшим образом отражает значение 0,05?

4)

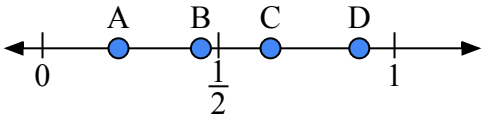

a) Какая буква наилучшим образом отражает значение 0,90?

b) Какая буква наилучшим образом отражает значение 0,45?

5)

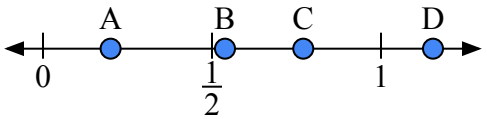

a) Какая буква наилучшим образом отражает значение 0,2?

b) Какая буква наилучшим образом отражает значение 0,77?

6)

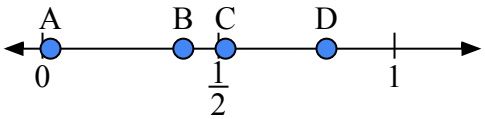

a) Какая буква наилучшим образом отражает значение 0,40?

b) Какая буква наилучшим образом отражает значение 0,52?

7)

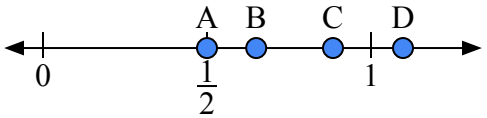

a) Какая буква наилучшим образом отражает значение 0,5?

b) Какая буква наилучшим образом отражает значение 0,65?

8)

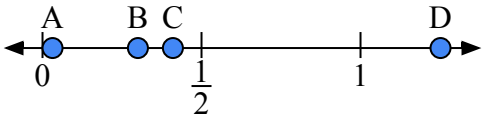

a) Какая буква наилучшим образом отражает значение 0,30?

b) Какая буква наилучшим образом отражает значение 0,41?

Ответы

1. ____ ____
2. ____ ____
3. ____ ____
4. ____ ____
5. ____ ____
6. ____ ____
7. ____ ____
8. ____ ____

1-8	88	75	63	50	38	25	13	0

Используйте числовую прямую для ответа на вопрос.

1)

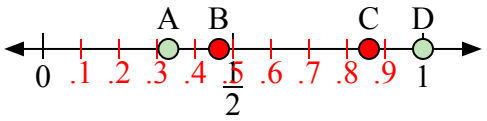

a) Какая буква наилучшим образом отражает значение 1,0?

b) Какая буква наилучшим образом отражает значение 0,33?

2)

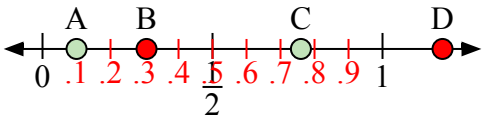

a) Какая буква наилучшим образом отражает значение 0,10?

b) Какая буква наилучшим образом отражает значение 0,76?

3)

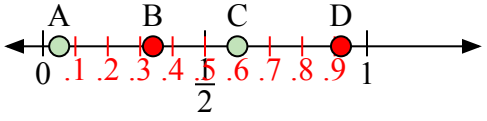

a) Какая буква наилучшим образом отражает значение 0,60?

b) Какая буква наилучшим образом отражает значение 0,05?

4)

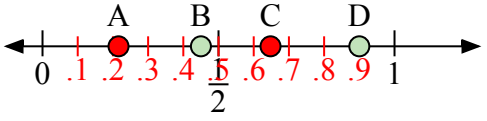

a) Какая буква наилучшим образом отражает значение 0,90?

b) Какая буква наилучшим образом отражает значение 0,45?

5)

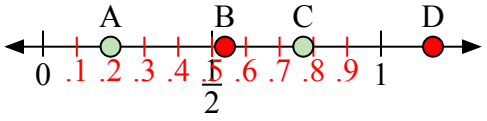

a) Какая буква наилучшим образом отражает значение 0,2?

b) Какая буква наилучшим образом отражает значение 0,77?

6)

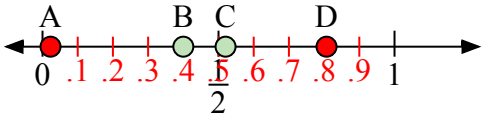

a) Какая буква наилучшим образом отражает значение 0,40?

b) Какая буква наилучшим образом отражает значение 0,52?

7)

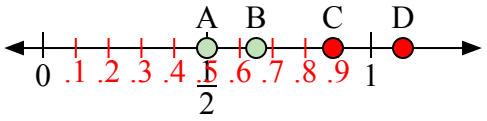

a) Какая буква наилучшим образом отражает значение 0,5?

b) Какая буква наилучшим образом отражает значение 0,65?

8)

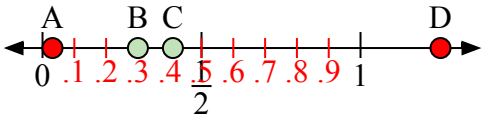

a) Какая буква наилучшим образом отражает значение 0,30?

b) Какая буква наилучшим образом отражает значение 0,41?

Ответы

1.	D	A
2.	A	C
3.	C	A
4.	D	B
5.	A	C
6.	B	C
7.	A	B
8.	B	C

1-8	88	75	63	50	38	25	13	0

Десятичные дроби на числовой прямой Имя:

Используйте числовую прямую для ответа на вопрос.

1)

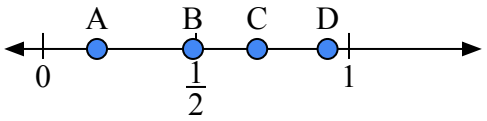

a) Какая буква наилучшим образом отражает значение 0,7?

b) Какая буква наилучшим образом отражает значение 0,93?

2)

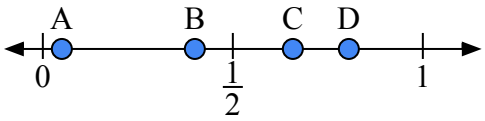

a) Какая буква наилучшим образом отражает значение 0,40?

b) Какая буква наилучшим образом отражает значение 0,05?

3)

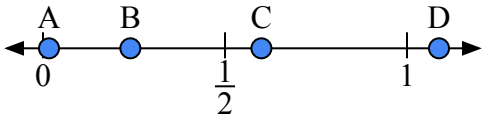

a) Какая буква наилучшим образом отражает значение 0,60?

b) Какая буква наилучшим образом отражает значение 0,24?

4)

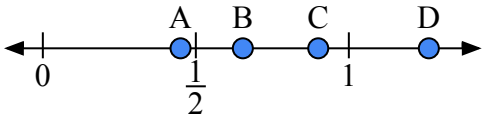

a) Какая буква наилучшим образом отражает значение 0,90?

b) Какая буква наилучшим образом отражает значение 0,45?

5)

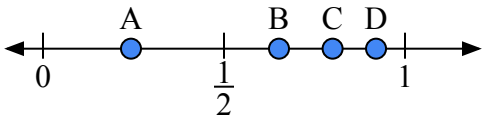

a) Какая буква наилучшим образом отражает значение 0,8?

b) Какая буква наилучшим образом отражает значение 0,92?

6)

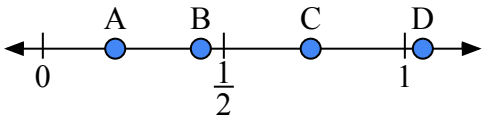

a) Какая буква наилучшим образом отражает значение 0,20?

b) Какая буква наилучшим образом отражает значение 0,74?

7)

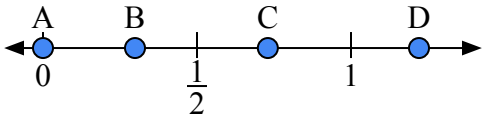

a) Какая буква наилучшим образом отражает значение 0,00?

b) Какая буква наилучшим образом отражает значение 0,73?

8)

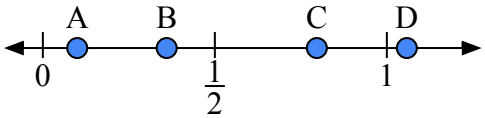

a) Какая буква наилучшим образом отражает значение 0,1?

b) Какая буква наилучшим образом отражает значение 0,36?

Ответы

1. ____ ____
2. ____ ____
3. ____ ____
4. ____ ____
5. ____ ____
6. ____ ____
7. ____ ____
8. ____ ____

1-8	88	75	63	50	38	25	13	0

Используйте числовую прямую для ответа на вопрос.

1)

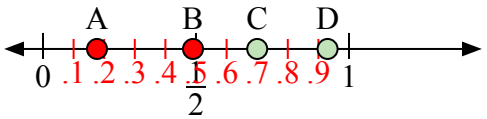

a) Какая буква наилучшим образом отражает значение 0,7?

b) Какая буква наилучшим образом отражает значение 0,93?

2)

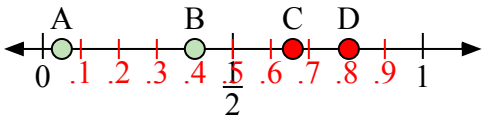

a) Какая буква наилучшим образом отражает значение 0,40?

b) Какая буква наилучшим образом отражает значение 0,05?

3)

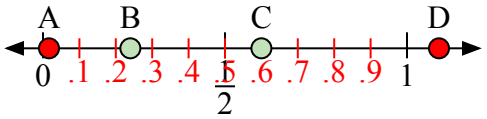

a) Какая буква наилучшим образом отражает значение 0,60?

b) Какая буква наилучшим образом отражает значение 0,24?

4)

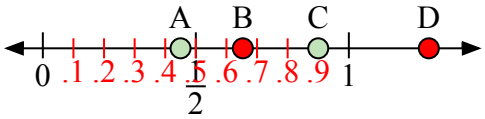

a) Какая буква наилучшим образом отражает значение 0,90?

b) Какая буква наилучшим образом отражает значение 0,45?

5)

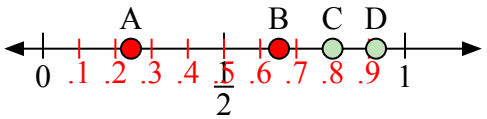

a) Какая буква наилучшим образом отражает значение 0,8?

b) Какая буква наилучшим образом отражает значение 0,92?

6)

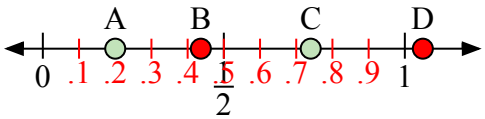

a) Какая буква наилучшим образом отражает значение 0,20?

b) Какая буква наилучшим образом отражает значение 0,74?

7)

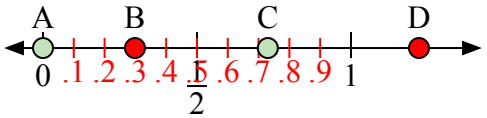

a) Какая буква наилучшим образом отражает значение 0,00?

b) Какая буква наилучшим образом отражает значение 0,73?

8)

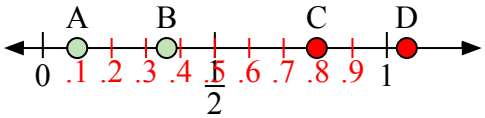

a) Какая буква наилучшим образом отражает значение 0,1?

b) Какая буква наилучшим образом отражает значение 0,36?

Ответы

1.	C	D
2.	B	A
3.	C	B
4.	C	A
5.	C	D
6.	A	C
7.	A	C
8.	A	B

1-8	88	75	63	50	38	25	13	0

Используйте числовую прямую для ответа на вопрос.

1)

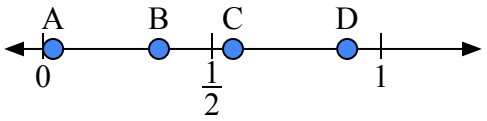

a) Какая буква наилучшим образом отражает значение 0,9?

b) Какая буква наилучшим образом отражает значение 0,03?

2)

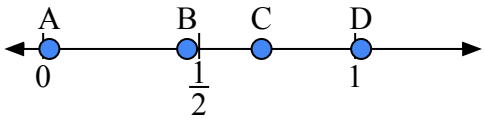

a) Какая буква наилучшим образом отражает значение 0,7?

b) Какая буква наилучшим образом отражает значение 0,02?

3)

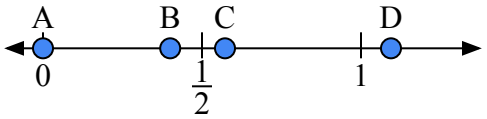

a) Какая буква наилучшим образом отражает значение 0,00?

b) Какая буква наилучшим образом отражает значение 0,40?

4)

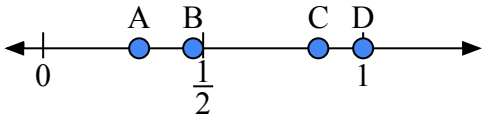

a) Какая буква наилучшим образом отражает значение 1,0?

b) Какая буква наилучшим образом отражает значение 0,86?

5)

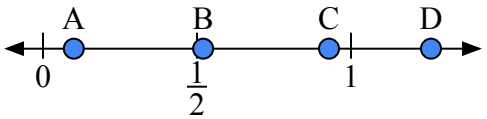

a) Какая буква наилучшим образом отражает значение 0,10?

b) Какая буква наилучшим образом отражает значение 0,52?

6)

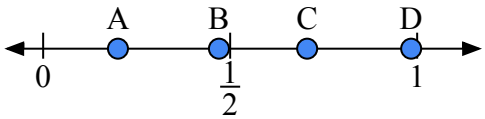

a) Какая буква наилучшим образом отражает значение 0,2?

b) Какая буква наилучшим образом отражает значение 0,47?

7)

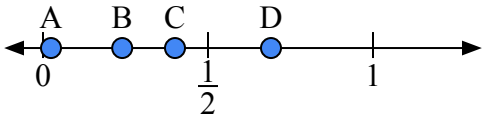

a) Какая буква наилучшим образом отражает значение 0,4?

b) Какая буква наилучшим образом отражает значение 0,24?

8)

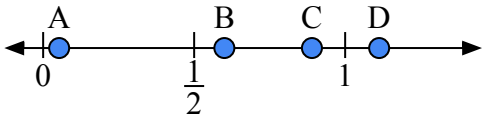

a) Какая буква наилучшим образом отражает значение 0,60?

b) Какая буква наилучшим образом отражает значение 0,89?

Ответы

1. ____ ____
2. ____ ____
3. ____ ____
4. ____ ____
5. ____ ____
6. ____ ____
7. ____ ____
8. ____ ____

1-8	88	75	63	50	38	25	13	0

Используйте числовую прямую для ответа на вопрос.

1)

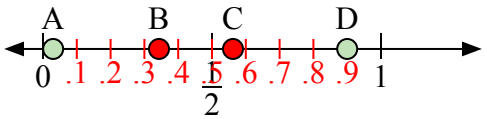

a) Какая буква наилучшим образом отражает значение 0,9?

b) Какая буква наилучшим образом отражает значение 0,03?

2)

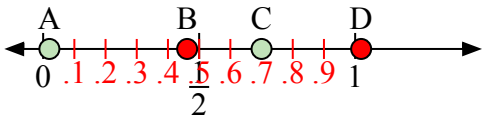

a) Какая буква наилучшим образом отражает значение 0,7?

b) Какая буква наилучшим образом отражает значение 0,02?

3)

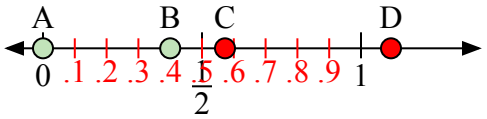

a) Какая буква наилучшим образом отражает значение 0,00?

b) Какая буква наилучшим образом отражает значение 0,40?

4)

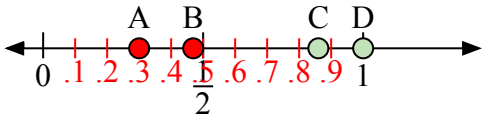

a) Какая буква наилучшим образом отражает значение 1,0?

b) Какая буква наилучшим образом отражает значение 0,86?

5)

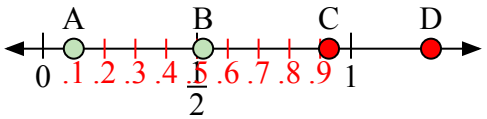

a) Какая буква наилучшим образом отражает значение 0,10?

b) Какая буква наилучшим образом отражает значение 0,52?

6)

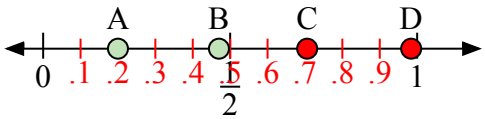

a) Какая буква наилучшим образом отражает значение 0,2?

b) Какая буква наилучшим образом отражает значение 0,47?

7)

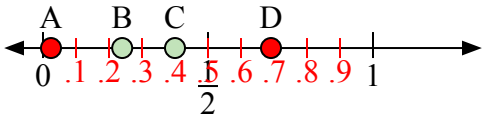

a) Какая буква наилучшим образом отражает значение 0,4?

b) Какая буква наилучшим образом отражает значение 0,24?

8)

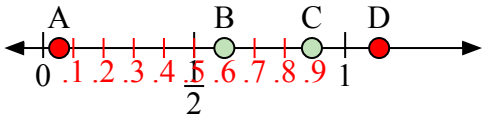

a) Какая буква наилучшим образом отражает значение 0,60?

b) Какая буква наилучшим образом отражает значение 0,89?

Ответы

1.	D	A
2.	C	A
3.	A	B
4.	D	C
5.	A	B
6.	A	B
7.	C	B
8.	B	C

1-8	88	75	63	50	38	25	13	0

Используйте числовую прямую для ответа на вопрос.

1)

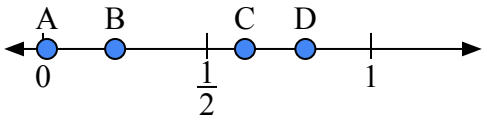

a) Какая буква наилучшим образом отражает значение 0,80?

b) Какая буква наилучшим образом отражает значение 0,22?

2)

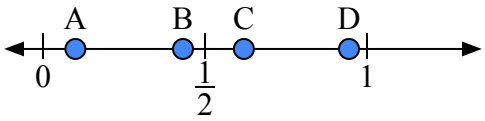

a) Какая буква наилучшим образом отражает значение 0,1?

b) Какая буква наилучшим образом отражает значение 0,62?

3)

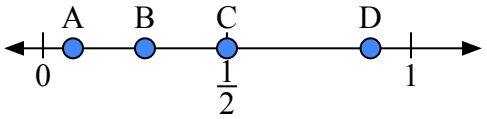

a) Какая буква наилучшим образом отражает значение 0,5?

b) Какая буква наилучшим образом отражает значение 0,89?

4)

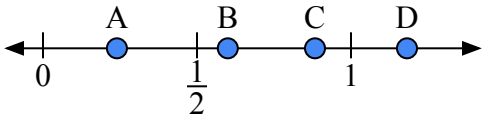

a) Какая буква наилучшим образом отражает значение 0,6?

b) Какая буква наилучшим образом отражает значение 0,24?

5)

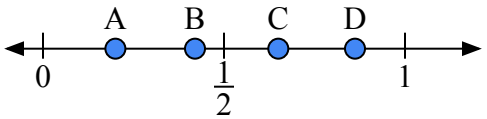

a) Какая буква наилучшим образом отражает значение 0,20?

b) Какая буква наилучшим образом отражает значение 0,65?

6)

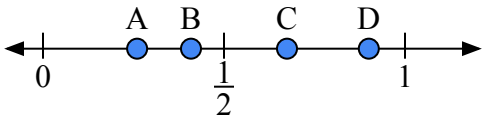

a) Какая буква наилучшим образом отражает значение 0,90?

b) Какая буква наилучшим образом отражает значение 0,26?

7)

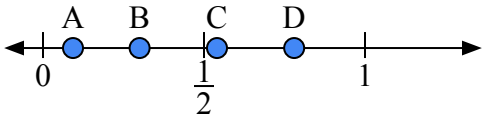

a) Какая буква наилучшим образом отражает значение 0,3?

b) Какая буква наилучшим образом отражает значение 0,78?

8)

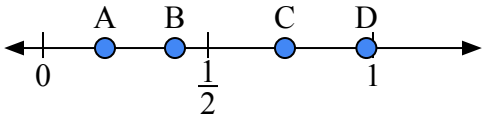

a) Какая буква наилучшим образом отражает значение 0,40?

b) Какая буква наилучшим образом отражает значение 0,98?

Ответы

1. ____ ____
2. ____ ____
3. ____ ____
4. ____ ____
5. ____ ____
6. ____ ____
7. ____ ____
8. ____ ____

1-8	88	75	63	50	38	25	13	0

Используйте числовую прямую для ответа на вопрос.

1)

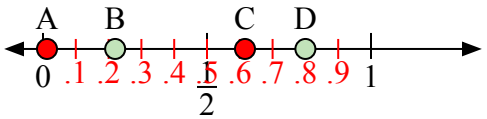

a) Какая буква наилучшим образом отражает значение 0,80?

b) Какая буква наилучшим образом отражает значение 0,22?

2)

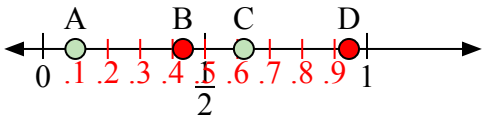

a) Какая буква наилучшим образом отражает значение 0,1?

b) Какая буква наилучшим образом отражает значение 0,62?

3)

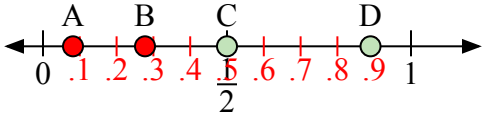

a) Какая буква наилучшим образом отражает значение 0,5?

b) Какая буква наилучшим образом отражает значение 0,89?

4)

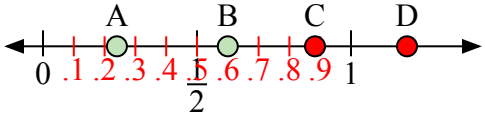

a) Какая буква наилучшим образом отражает значение 0,6?

b) Какая буква наилучшим образом отражает значение 0,24?

5)

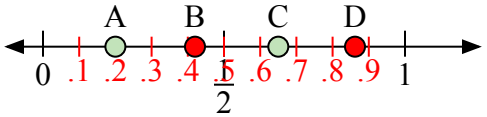

a) Какая буква наилучшим образом отражает значение 0,20?

b) Какая буква наилучшим образом отражает значение 0,65?

6)

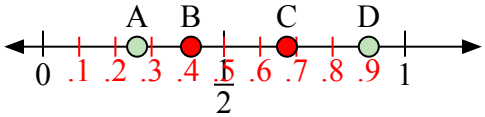

a) Какая буква наилучшим образом отражает значение 0,90?

b) Какая буква наилучшим образом отражает значение 0,26?

7)

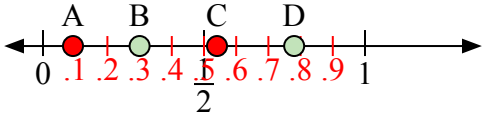

a) Какая буква наилучшим образом отражает значение 0,3?

b) Какая буква наилучшим образом отражает значение 0,78?

8)

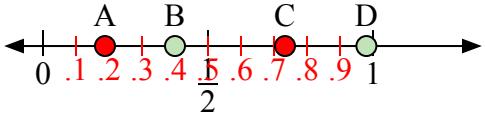

a) Какая буква наилучшим образом отражает значение 0,40?

b) Какая буква наилучшим образом отражает значение 0,98?

Ответы

1.	D	B
2.	A	C
3.	C	D
4.	B	A
5.	A	C
6.	D	A
7.	B	D
8.	B	D

1-8	88	75	63	50	38	25	13	0

Десятичные дроби на числовой прямой Имя:

Используйте числовую прямую для ответа на вопрос.

1)

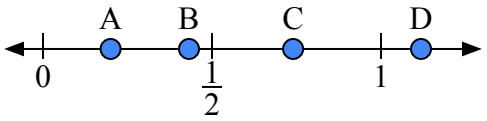

a) Какая буква наилучшим образом отражает значение 0,20?

b) Какая буква наилучшим образом отражает значение 0,74?

2)

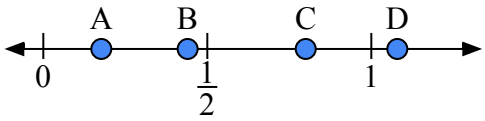

a) Какая буква наилучшим образом отражает значение 0,8?

b) Какая буква наилучшим образом отражает значение 0,44?

3)

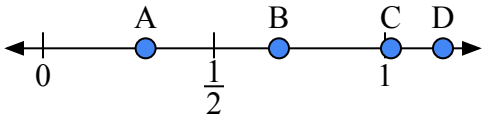

a) Какая буква наилучшим образом отражает значение 0,30?

b) Какая буква наилучшим образом отражает значение 0,69?

4)

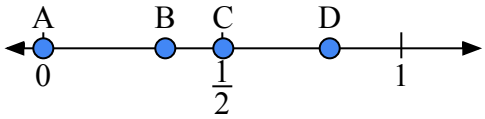

a) Какая буква наилучшим образом отражает значение 0,0?

b) Какая буква наилучшим образом отражает значение 0,80?

5)

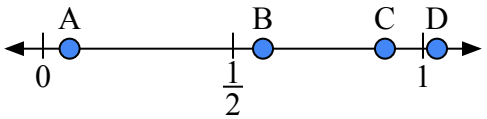

a) Какая буква наилучшим образом отражает значение 0,90?

b) Какая буква наилучшим образом отражает значение 0,07?

6)

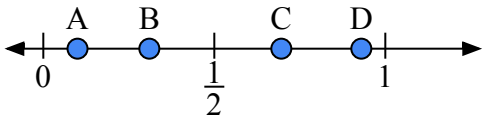

a) Какая буква наилучшим образом отражает значение 0,10?

b) Какая буква наилучшим образом отражает значение 0,31?

7)

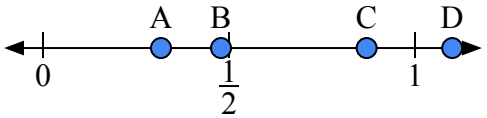

a) Какая буква наилучшим образом отражает значение 1,10?

b) Какая буква наилучшим образом отражает значение 0,87?

8)

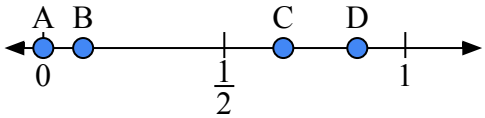

a) Какая буква наилучшим образом отражает значение 0,00?

b) Какая буква наилучшим образом отражает значение 0,11?

Ответы

1. ____ ____
2. ____ ____
3. ____ ____
4. ____ ____
5. ____ ____
6. ____ ____
7. ____ ____
8. ____ ____

1-8	88	75	63	50	38	25	13	0

Используйте числовую прямую для ответа на вопрос.

1)

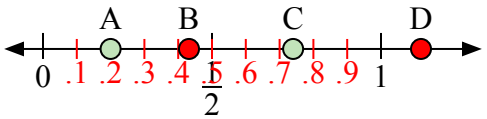

a) Какая буква наилучшим образом отражает значение 0,20?

b) Какая буква наилучшим образом отражает значение 0,74?

2)

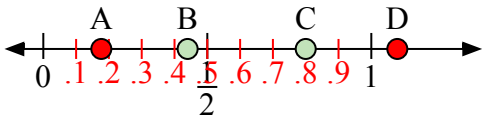

a) Какая буква наилучшим образом отражает значение 0,8?

b) Какая буква наилучшим образом отражает значение 0,44?

3)

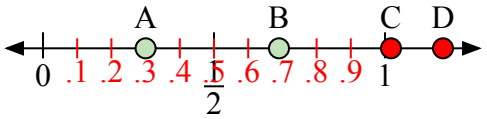

a) Какая буква наилучшим образом отражает значение 0,30?

b) Какая буква наилучшим образом отражает значение 0,69?

4)

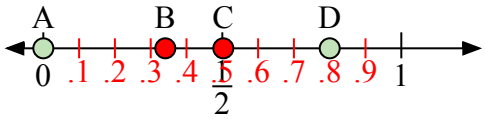

a) Какая буква наилучшим образом отражает значение 0,0?

b) Какая буква наилучшим образом отражает значение 0,80?

5)

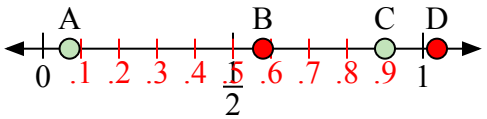

a) Какая буква наилучшим образом отражает значение 0,90?

b) Какая буква наилучшим образом отражает значение 0,07?

6)

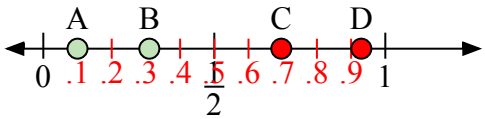

a) Какая буква наилучшим образом отражает значение 0,10?

b) Какая буква наилучшим образом отражает значение 0,31?

7)

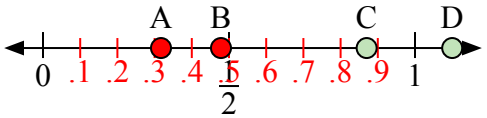

a) Какая буква наилучшим образом отражает значение 1,10?

b) Какая буква наилучшим образом отражает значение 0,87?

8)

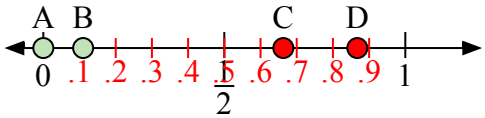

a) Какая буква наилучшим образом отражает значение 0,00?

b) Какая буква наилучшим образом отражает значение 0,11?

Ответы

1.	A	C
2.	C	B
3.	A	B
4.	A	D
5.	C	A
6.	A	B
7.	D	C
8.	A	B

1-8	88	75	63	50	38	25	13	0

Используйте числовую прямую для ответа на вопрос.

1)

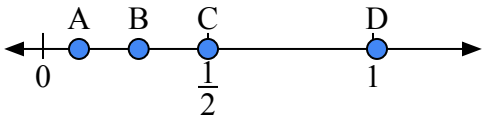

a) Какая буква наилучшим образом отражает значение 0,5?

b) Какая буква наилучшим образом отражает значение 0,29?

2)

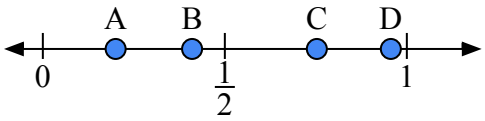

a) Какая буква наилучшим образом отражает значение 0,20?

b) Какая буква наилучшим образом отражает значение 0,41?

3)

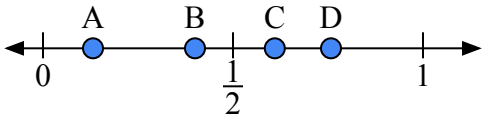

a) Какая буква наилучшим образом отражает значение 0,40?

b) Какая буква наилучшим образом отражает значение 0,61?

4)

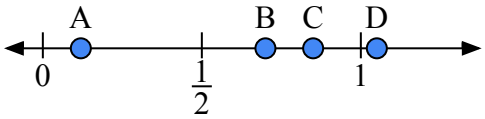

a) Какая буква наилучшим образом отражает значение 0,70?

b) Какая буква наилучшим образом отражает значение 0,85?

5)

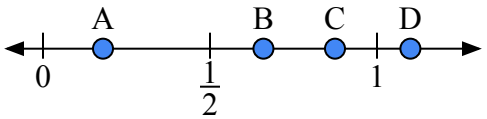

a) Какая буква наилучшим образом отражает значение 1,1?

b) Какая буква наилучшим образом отражает значение 0,66?

6)

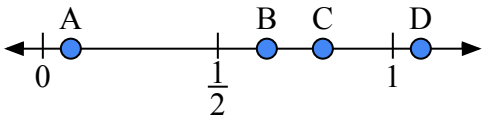

a) Какая буква наилучшим образом отражает значение 0,8?

b) Какая буква наилучшим образом отражает значение 0,08?

7)

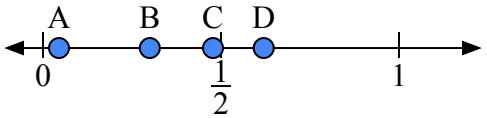

a) Какая буква наилучшим образом отражает значение 0,30?

b) Какая буква наилучшим образом отражает значение 0,62?

8)

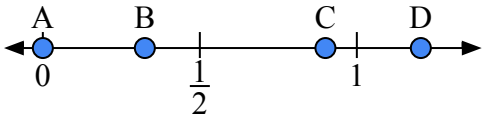

a) Какая буква наилучшим образом отражает значение 0,00?

b) Какая буква наилучшим образом отражает значение 0,90?

Ответы

1. ____ ____
2. ____ ____
3. ____ ____
4. ____ ____
5. ____ ____
6. ____ ____
7. ____ ____
8. ____ ____

1-8	88	75	63	50	38	25	13	0

Используйте числовую прямую для ответа на вопрос.

1)

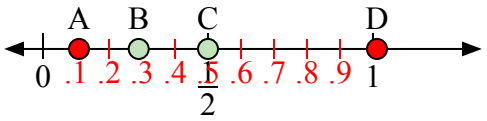

a) Какая буква наилучшим образом отражает значение 0,5?

b) Какая буква наилучшим образом отражает значение 0,29?

2)

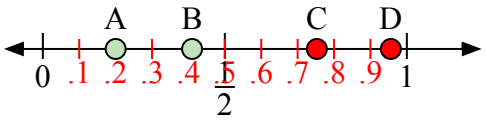

a) Какая буква наилучшим образом отражает значение 0,20?

b) Какая буква наилучшим образом отражает значение 0,41?

3)

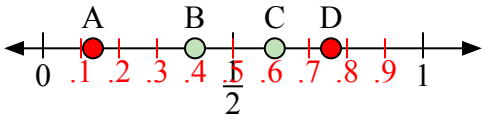

a) Какая буква наилучшим образом отражает значение 0,40?

b) Какая буква наилучшим образом отражает значение 0,61?

4)

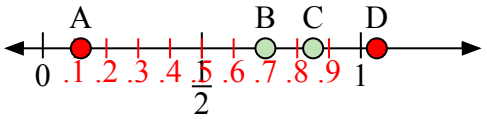

a) Какая буква наилучшим образом отражает значение 0,70?

b) Какая буква наилучшим образом отражает значение 0,85?

5)

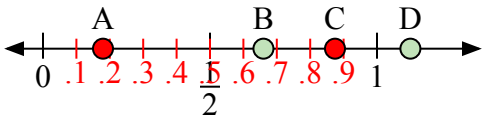

a) Какая буква наилучшим образом отражает значение 1,1?

b) Какая буква наилучшим образом отражает значение 0,66?

6)

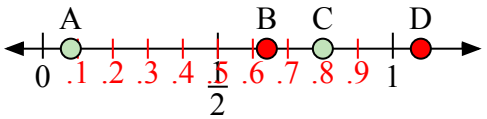

a) Какая буква наилучшим образом отражает значение 0,8?

b) Какая буква наилучшим образом отражает значение 0,08?

7)

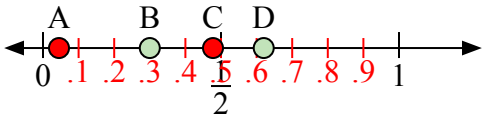

a) Какая буква наилучшим образом отражает значение 0,30?

b) Какая буква наилучшим образом отражает значение 0,62?

8)

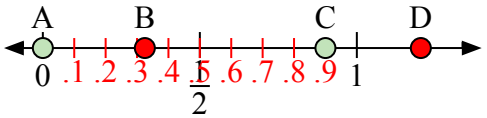

a) Какая буква наилучшим образом отражает значение 0,00?

b) Какая буква наилучшим образом отражает значение 0,90?

Ответы

1.	C	B
2.	A	B
3.	B	C
4.	B	C
5.	D	B
6.	C	A
7.	B	D
8.	A	C

1-8	88	75	63	50	38	25	13	0

Десятичные дроби на числовой прямой Имя:

Используйте числовую прямую для ответа на вопрос.

1)

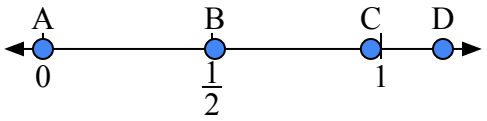

a) Какая буква наилучшим образом отражает значение 0,00?

b) Какая буква наилучшим образом отражает значение 0,97?

2)

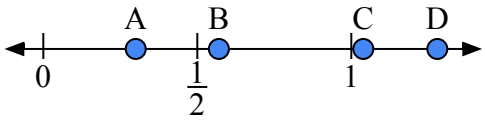

a) Какая буква наилучшим образом отражает значение 0,30?

b) Какая буква наилучшим образом отражает значение 0,57?

3)

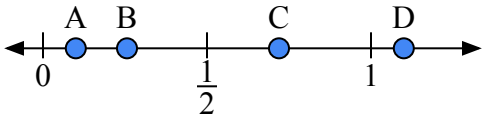

a) Какая буква наилучшим образом отражает значение 1,10?

b) Какая буква наилучшим образом отражает значение 0,10?

4)

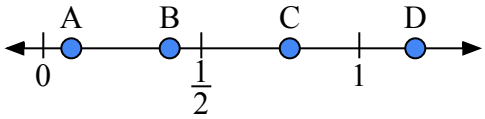

a) Какая буква наилучшим образом отражает значение 0,4?

b) Какая буква наилучшим образом отражает значение 0,78?

5)

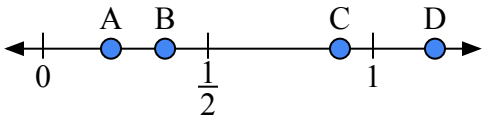

a) Какая буква наилучшим образом отражает значение 0,90?

b) Какая буква наилучшим образом отражает значение 0,37?

6)

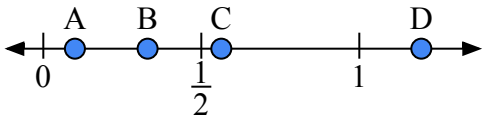

a) Какая буква наилучшим образом отражает значение 0,1?

b) Какая буква наилучшим образом отражает значение 0,33?

7)

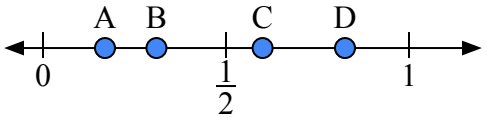

a) Какая буква наилучшим образом отражает значение 0,6?

b) Какая буква наилучшим образом отражает значение 0,31?

8)

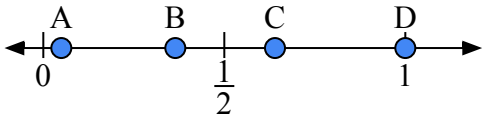

a) Какая буква наилучшим образом отражает значение 1,0?

b) Какая буква наилучшим образом отражает значение 0,64?

Ответы

1. ____ ____
2. ____ ____
3. ____ ____
4. ____ ____
5. ____ ____
6. ____ ____
7. ____ ____
8. ____ ____

1-8	88	75	63	50	38	25	13	0

Используйте числовую прямую для ответа на вопрос.

1)

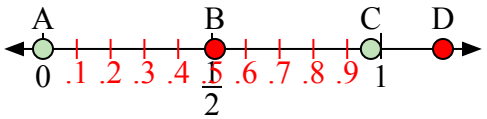

a) Какая буква наилучшим образом отражает значение 0,00?

b) Какая буква наилучшим образом отражает значение 0,97?

2)

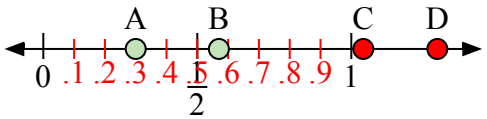

a) Какая буква наилучшим образом отражает значение 0,30?

b) Какая буква наилучшим образом отражает значение 0,57?

3)

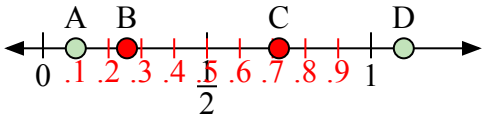

a) Какая буква наилучшим образом отражает значение 1,10?

b) Какая буква наилучшим образом отражает значение 0,10?

4)

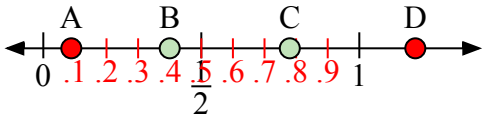

a) Какая буква наилучшим образом отражает значение 0,4?

b) Какая буква наилучшим образом отражает значение 0,78?

5)

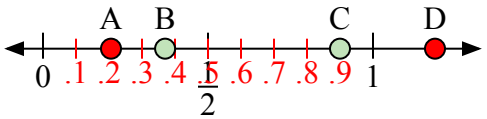

a) Какая буква наилучшим образом отражает значение 0,90?

b) Какая буква наилучшим образом отражает значение 0,37?

6)

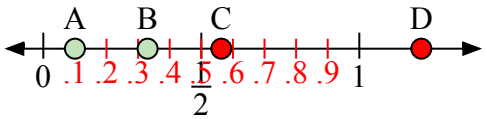

a) Какая буква наилучшим образом отражает значение 0,1?

b) Какая буква наилучшим образом отражает значение 0,33?

7)

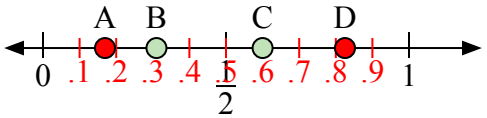

a) Какая буква наилучшим образом отражает значение 0,6?

b) Какая буква наилучшим образом отражает значение 0,31?

8)

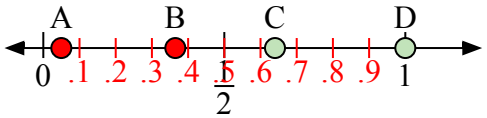

a) Какая буква наилучшим образом отражает значение 1,0?

b) Какая буква наилучшим образом отражает значение 0,64?

Ответы

1.	A	C
2.	A	B
3.	D	A
4.	B	C
5.	C	B
6.	A	B
7.	C	B
8.	D	C

1-8	88	75	63	50	38	25	13	0

Десятичные дроби на числовой прямой Имя:

Используйте числовую прямую для ответа на вопрос.

1)

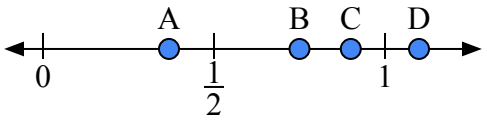

a) Какая буква наилучшим образом отражает значение 0,90?

b) Какая буква наилучшим образом отражает значение 0,75?

2)

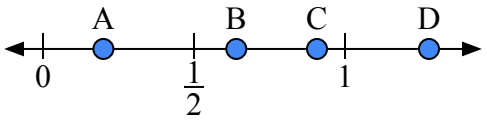

a) Какая буква наилучшим образом отражает значение 0,2?

b) Какая буква наилучшим образом отражает значение 0,64?

3)

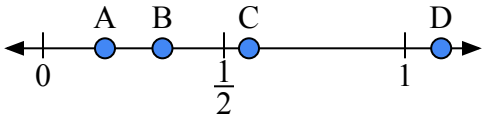

a) Какая буква наилучшим образом отражает значение 1,10?

b) Какая буква наилучшим образом отражает значение 0,33?

4)

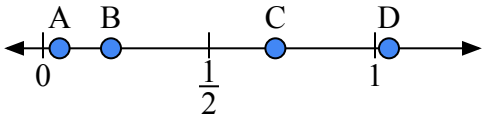

a) Какая буква наилучшим образом отражает значение 0,70?

b) Какая буква наилучшим образом отражает значение 0,05?

5)

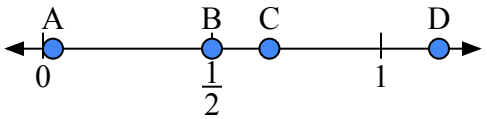

a) Какая буква наилучшим образом отражает значение 0,50?

b) Какая буква наилучшим образом отражает значение 0,67?

6)

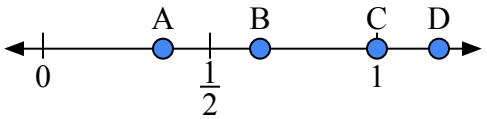

a) Какая буква наилучшим образом отражает значение 1,00?

b) Какая буква наилучшим образом отражает значение 0,65?

7)

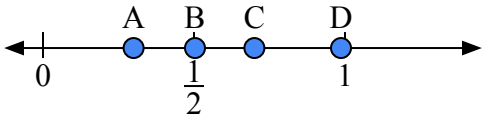

a) Какая буква наилучшим образом отражает значение 0,3?

b) Какая буква наилучшим образом отражает значение 0,70?

8)

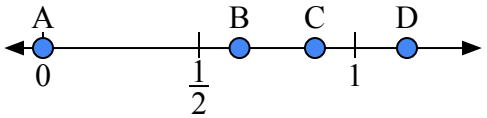

a) Какая буква наилучшим образом отражает значение 0,00?

b) Какая буква наилучшим образом отражает значение 0,63?

Ответы

1. ____ ____
2. ____ ____
3. ____ ____
4. ____ ____
5. ____ ____
6. ____ ____
7. ____ ____
8. ____ ____

1-8	88	75	63	50	38	25	13	0

Используйте числовую прямую для ответа на вопрос.

1)

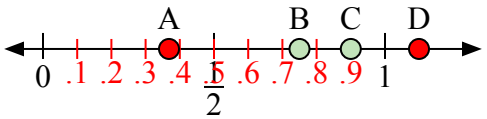

a) Какая буква наилучшим образом отражает значение 0,90?

b) Какая буква наилучшим образом отражает значение 0,75?

2)

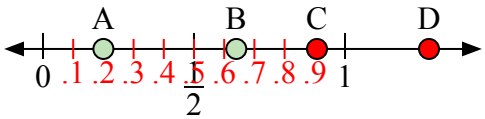

a) Какая буква наилучшим образом отражает значение 0,2?

b) Какая буква наилучшим образом отражает значение 0,64?

3)

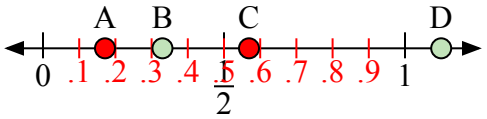

a) Какая буква наилучшим образом отражает значение 1,10?

b) Какая буква наилучшим образом отражает значение 0,33?

4)

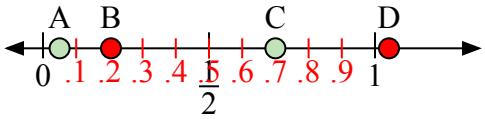

a) Какая буква наилучшим образом отражает значение 0,70?

b) Какая буква наилучшим образом отражает значение 0,05?

5)

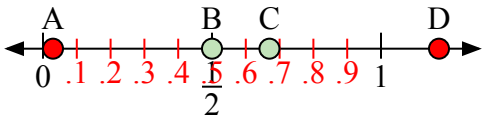

a) Какая буква наилучшим образом отражает значение 0,50?

b) Какая буква наилучшим образом отражает значение 0,67?

6)

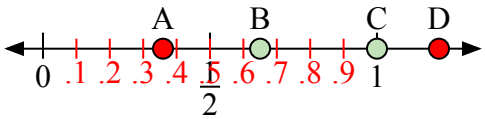

a) Какая буква наилучшим образом отражает значение 1,00?

b) Какая буква наилучшим образом отражает значение 0,65?

7)

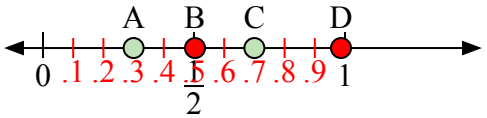

a) Какая буква наилучшим образом отражает значение 0,3?

b) Какая буква наилучшим образом отражает значение 0,70?

8)

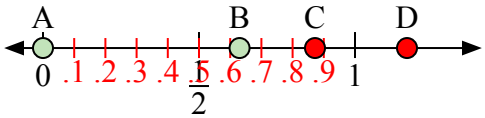

a) Какая буква наилучшим образом отражает значение 0,00?

b) Какая буква наилучшим образом отражает значение 0,63?

Ответы

1.	C	B
2.	A	B
3.	D	B
4.	C	A
5.	B	C
6.	C	B
7.	A	C
8.	A	B

1-8	88	75	63	50	38	25	13	0