Сложение до одного Имя:

Определите, под какой буквой находится правильный ответ.

1) Что нужно прибавить в решетке 10 × 10, которая представляет десятичную дробь, чтобы после прибавления 0,75, ответ получился 1,00?

A 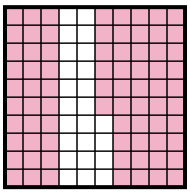 B 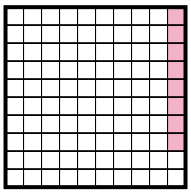 C 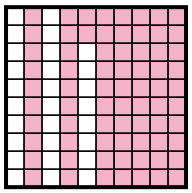 D 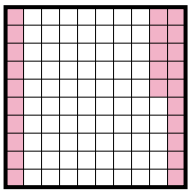

2) Что нужно прибавить в решетке 10 × 10, которая представляет десятичную дробь, чтобы после прибавления 0,67, ответ получился 1,00?

A  B 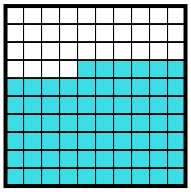 C  D 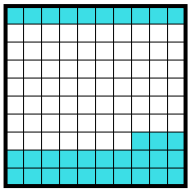

3) Что нужно прибавить в решетке 10 × 10, которая представляет десятичную дробь, чтобы после прибавления 0,97, ответ получился 1,00?

A  B 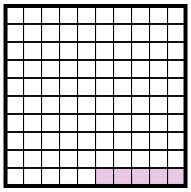 C  D 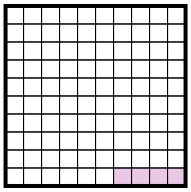

4) Что нужно прибавить в решетке 10 × 1, которая представляет десятичную дробь, чтобы после прибавления 0,1, ответ получился 1,00?

A  B C  D

5) Что нужно прибавить в решетке 10 × 1, которая представляет десятичную дробь, чтобы после прибавления 0,2, ответ получился 1,00?

A 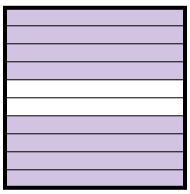 B  C  D 

6) Что нужно прибавить в решетке 10 × 1, которая представляет десятичную дробь, чтобы после прибавления 0,6, ответ получился 1,00?

A  B  C  D 

Ответы

1. _____
2. _____
3. _____
4. _____
5. _____
6. _____

1-6	83	67	50	33	17	0

Определите, под какой буквой находится правильный ответ.

1) Что нужно прибавить в решетке 10 × 10, которая представляет десятичную дробь, чтобы после прибавления 0,75, ответ получился 1,00?

A 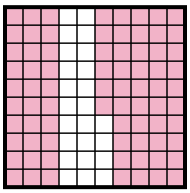 B 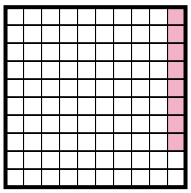 C 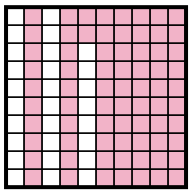 D 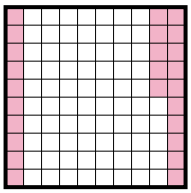

2) Что нужно прибавить в решетке 10 × 10, которая представляет десятичную дробь, чтобы после прибавления 0,67, ответ получился 1,00?

A  B 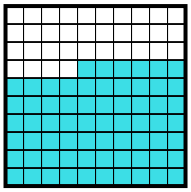 C  D 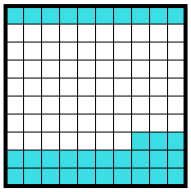

3) Что нужно прибавить в решетке 10 × 10, которая представляет десятичную дробь, чтобы после прибавления 0,97, ответ получился 1,00?

A  B 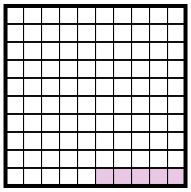 C  D 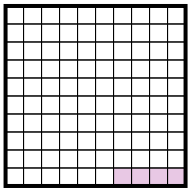

4) Что нужно прибавить в решетке 10 × 1, которая представляет десятичную дробь, чтобы после прибавления 0,1, ответ получился 1,00?

A  B C  D

5) Что нужно прибавить в решетке 10 × 1, которая представляет десятичную дробь, чтобы после прибавления 0,2, ответ получился 1,00?

A 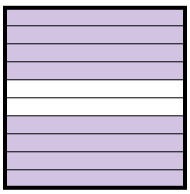 B  C  D 

6) Что нужно прибавить в решетке 10 × 1, которая представляет десятичную дробь, чтобы после прибавления 0,6, ответ получился 1,00?

A  B  C  D 

Ответы

1. D
2. D
3. C
4. C
5. A
6. C

1-6	83	67	50	33	17	0

Определите, под какой буквой находится правильный ответ.

1) Что нужно прибавить в решетке 10 × 10, которая представляет десятичную дробь, чтобы после прибавления 0,04, ответ получился 1,00?

A 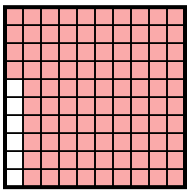 B 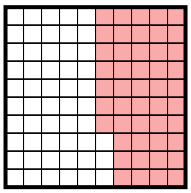 C 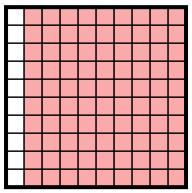 D 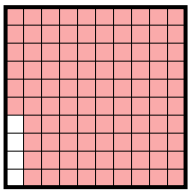

2) Что нужно прибавить в решетке 10 × 1, которая представляет десятичную дробь, чтобы после прибавления 0,5, ответ получился 1,00?

A 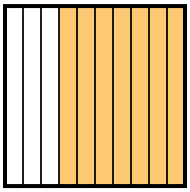 B 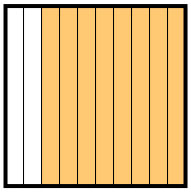 C 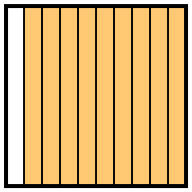 D 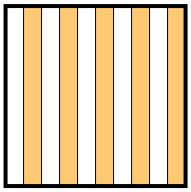

3) Что нужно прибавить в решетке 10 × 10, которая представляет десятичную дробь, чтобы после прибавления 0,88, ответ получился 1,00?

A 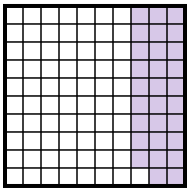 B 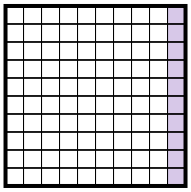 C 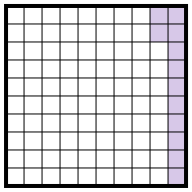 D 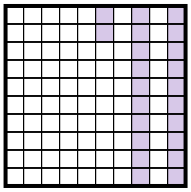

4) Что нужно прибавить в решетке 10 × 1, которая представляет десятичную дробь, чтобы после прибавления 0,6, ответ получился 1,00?

A  B  C D

5) Что нужно прибавить в решетке 10 × 10, которая представляет десятичную дробь, чтобы после прибавления 0,96, ответ получился 1,00?

A  B  C  D 

6) Что нужно прибавить в решетке 10 × 1, которая представляет десятичную дробь, чтобы после прибавления 0,3, ответ получился 1,00?

A 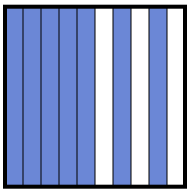 B  C 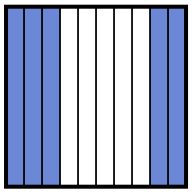 D 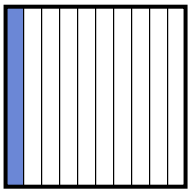

Ответы

1. _____
2. _____
3. _____
4. _____
5. _____
6. _____

1-6	83	67	50	33	17	0

Определите, под какой буквой находится правильный ответ.

1) Что нужно прибавить в решетке 10 × 10, которая представляет десятичную дробь, чтобы после прибавления 0,04, ответ получился 1,00?

A 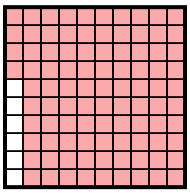 B 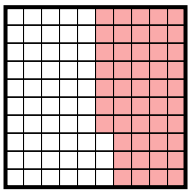 C 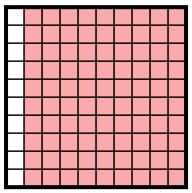 D 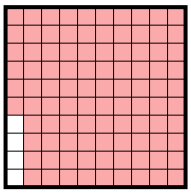

2) Что нужно прибавить в решетке 10 × 1, которая представляет десятичную дробь, чтобы после прибавления 0,5, ответ получился 1,00?

A 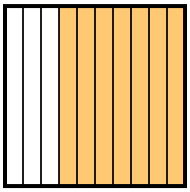 B 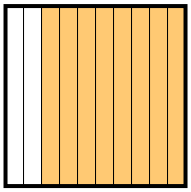 C 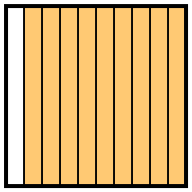 D 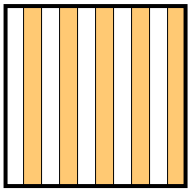

3) Что нужно прибавить в решетке 10 × 10, которая представляет десятичную дробь, чтобы после прибавления 0,88, ответ получился 1,00?

A 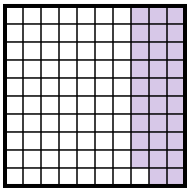 B 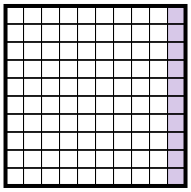 C 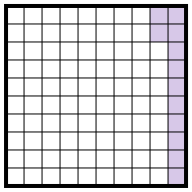 D 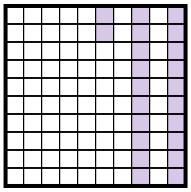

4) Что нужно прибавить в решетке 10 × 1, которая представляет десятичную дробь, чтобы после прибавления 0,6, ответ получился 1,00?

A  B  C D

5) Что нужно прибавить в решетке 10 × 10, которая представляет десятичную дробь, чтобы после прибавления 0,96, ответ получился 1,00?

A  B  C  D 

6) Что нужно прибавить в решетке 10 × 1, которая представляет десятичную дробь, чтобы после прибавления 0,3, ответ получился 1,00?

A 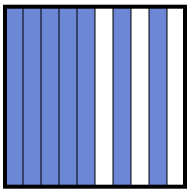 B  C 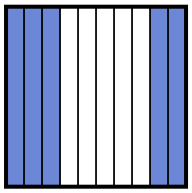 D 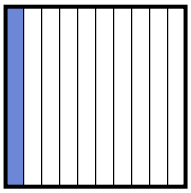

Ответы

1. D
2. D
3. C
4. D
5. C
6. A

1-6	83	67	50	33	17	0

Определите, под какой буквой находится правильный ответ.

1) Что нужно прибавить в решетке 10 × 10, которая представляет десятичную дробь, чтобы после прибавления 0,48, ответ получился 1,00?

A 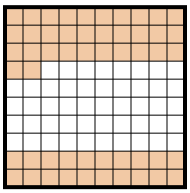 B 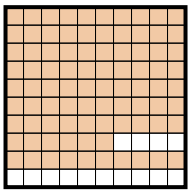 C 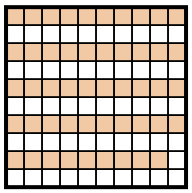 D 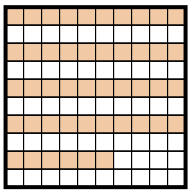

2) Что нужно прибавить в решетке 10 × 1, которая представляет десятичную дробь, чтобы после прибавления 0,5, ответ получился 1,00?

A 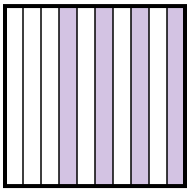 B 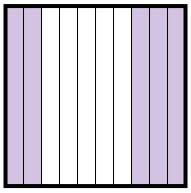 C 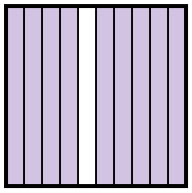 D 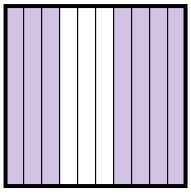

3) Что нужно прибавить в решетке 10 × 10, которая представляет десятичную дробь, чтобы после прибавления 0,5, ответ получился 1,00?

A 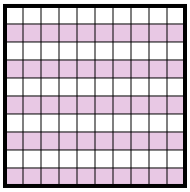 B 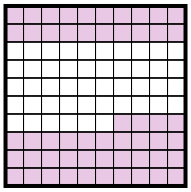 C  D 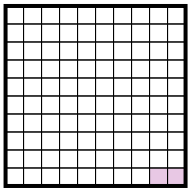

4) Что нужно прибавить в решетке 10 × 1, которая представляет десятичную дробь, чтобы после прибавления 0,8, ответ получился 1,00?

A 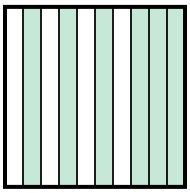 B 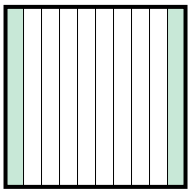 C 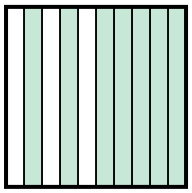 D 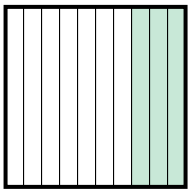

5) Что нужно прибавить в решетке 10 × 1, которая представляет десятичную дробь, чтобы после прибавления 0,6, ответ получился 1,00?

A  B 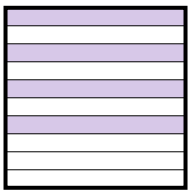 C 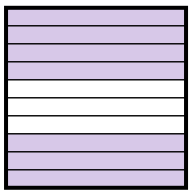 D 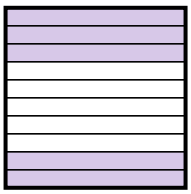

6) Что нужно прибавить в решетке 10 × 10, которая представляет десятичную дробь, чтобы после прибавления 0,1, ответ получился 1,00?

A  B  C  D 

Ответы

1. _____
2. _____
3. _____
4. _____
5. _____
6. _____

1-6	83	67	50	33	17	0

Определите, под какой буквой находится правильный ответ.

1) Что нужно прибавить в решетке 10 × 10, которая представляет десятичную дробь, чтобы после прибавления 0,48, ответ получился 1,00?

A 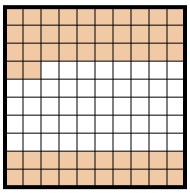 B 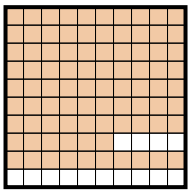 C 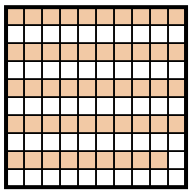 D 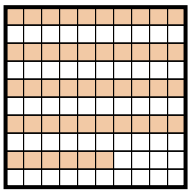

2) Что нужно прибавить в решетке 10 × 1, которая представляет десятичную дробь, чтобы после прибавления 0,5, ответ получился 1,00?

A 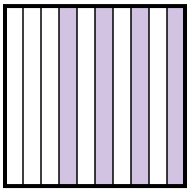 B 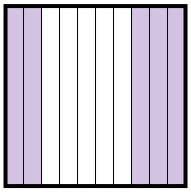 C 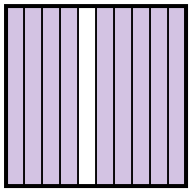 D 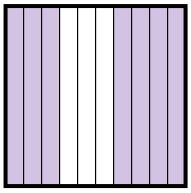

3) Что нужно прибавить в решетке 10 × 10, которая представляет десятичную дробь, чтобы после прибавления 0,5, ответ получился 1,00?

A 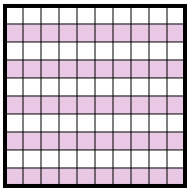 B 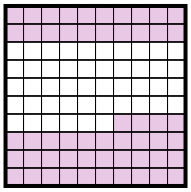 C  D 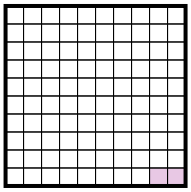

4) Что нужно прибавить в решетке 10 × 1, которая представляет десятичную дробь, чтобы после прибавления 0,8, ответ получился 1,00?

A 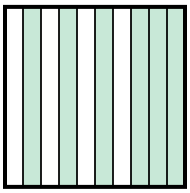 B 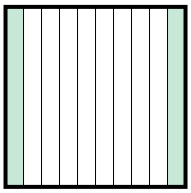 C 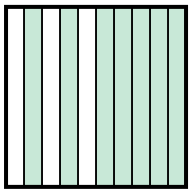 D 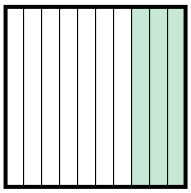

5) Что нужно прибавить в решетке 10 × 1, которая представляет десятичную дробь, чтобы после прибавления 0,6, ответ получился 1,00?

A  B 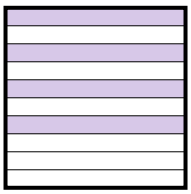 C 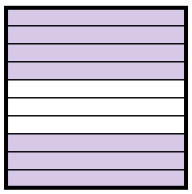 D 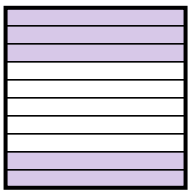

6) Что нужно прибавить в решетке 10 × 10, которая представляет десятичную дробь, чтобы после прибавления 0,1, ответ получился 1,00?

A  B  C  D 

Ответы

1. A
2. B
3. A
4. B
5. B
6. A

1-6	83	67	50	33	17	0

Определите, под какой буквой находится правильный ответ.

1) Что нужно прибавить в решетке 10 × 10, которая представляет десятичную дробь, чтобы после прибавления 0,74, ответ получился 1,00?

A  B  C  D 

2) Что нужно прибавить в решетке 10 × 1, которая представляет десятичную дробь, чтобы после прибавления 0,1, ответ получился 1,00?

A B  C  D 

3) Что нужно прибавить в решетке 10 × 1, которая представляет десятичную дробь, чтобы после прибавления 0,5, ответ получился 1,00?

A 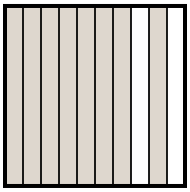 B 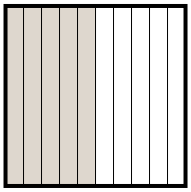 C  D 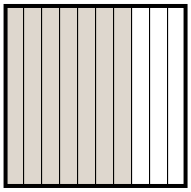

4) Что нужно прибавить в решетке 10 × 10, которая представляет десятичную дробь, чтобы после прибавления 0,77, ответ получился 1,00?

A 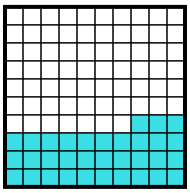 B 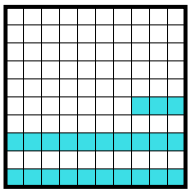 C 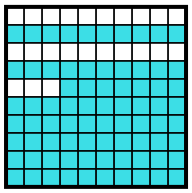 D 

5) Что нужно прибавить в решетке 10 × 1, которая представляет десятичную дробь, чтобы после прибавления 0,7, ответ получился 1,00?

A 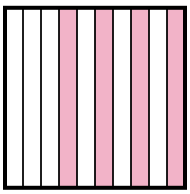 B 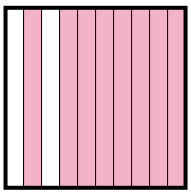 C 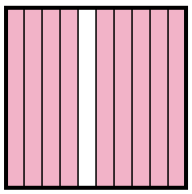 D 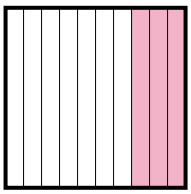

6) Что нужно прибавить в решетке 10 × 1, которая представляет десятичную дробь, чтобы после прибавления 0,6, ответ получился 1,00?

A  B  C  D 

Ответы

1. _____
2. _____
3. _____
4. _____
5. _____
6. _____

1-6	83	67	50	33	17	0

Определите, под какой буквой находится правильный ответ.

1) Что нужно прибавить в решетке 10 × 10, которая представляет десятичную дробь, чтобы после прибавления 0,74, ответ получился 1,00?

A 
B 
C 
D 

2) Что нужно прибавить в решетке 10 × 1, которая представляет десятичную дробь, чтобы после прибавления 0,1, ответ получился 1,00?

A
B 
C 
D 

3) Что нужно прибавить в решетке 10 × 1, которая представляет десятичную дробь, чтобы после прибавления 0,5, ответ получился 1,00?

A 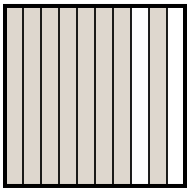
B 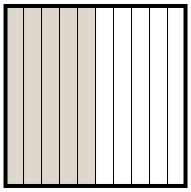
C 
D 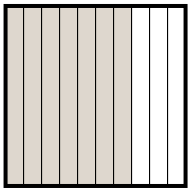

4) Что нужно прибавить в решетке 10 × 10, которая представляет десятичную дробь, чтобы после прибавления 0,77, ответ получился 1,00?

A 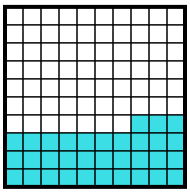
B 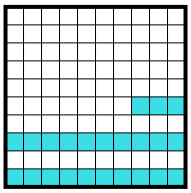
C 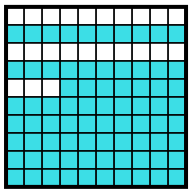
D 

5) Что нужно прибавить в решетке 10 × 1, которая представляет десятичную дробь, чтобы после прибавления 0,7, ответ получился 1,00?

A 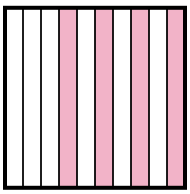
B 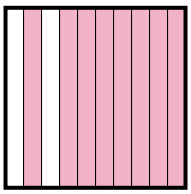
C 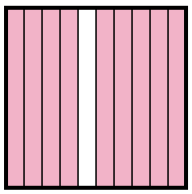
D 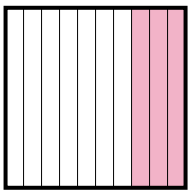

6) Что нужно прибавить в решетке 10 × 1, которая представляет десятичную дробь, чтобы после прибавления 0,6, ответ получился 1,00?

A 
B 
C 
D 

Ответы

1. A
2. B
3. B
4. B
5. D
6. C

1-6	83	67	50	33	17	0

Определите, под какой буквой находится правильный ответ.

1) Что нужно прибавить в решетке 10 × 1, которая представляет десятичную дробь, чтобы после прибавления 0,2, ответ получился 1,00?

A B C  D

2) Что нужно прибавить в решетке 10 × 10, которая представляет десятичную дробь, чтобы после прибавления 0,27, ответ получился 1,00?

A 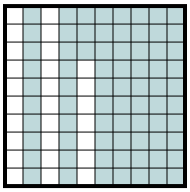 B 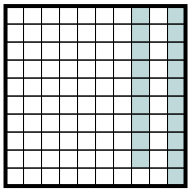 C 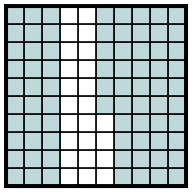 D 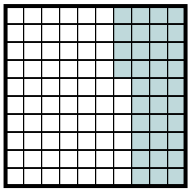

3) Что нужно прибавить в решетке 10 × 10, которая представляет десятичную дробь, чтобы после прибавления 0,06, ответ получился 1,00?

A 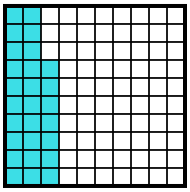 B 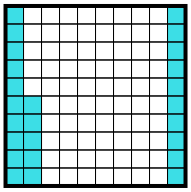 C 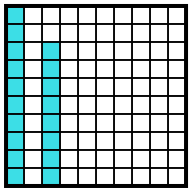 D 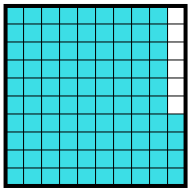

4) Что нужно прибавить в решетке 10 × 1, которая представляет десятичную дробь, чтобы после прибавления 0,6, ответ получился 1,00?

A 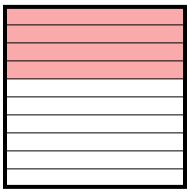 B C  D 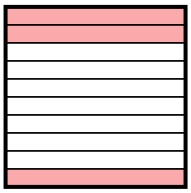

5) Что нужно прибавить в решетке 10 × 10, которая представляет десятичную дробь, чтобы после прибавления 0,95, ответ получился 1,00?

A 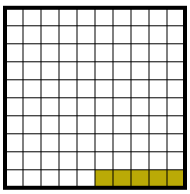 B 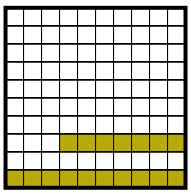 C 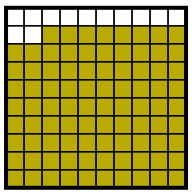 D 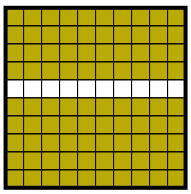

6) Что нужно прибавить в решетке 10 × 10, которая представляет десятичную дробь, чтобы после прибавления 0,89, ответ получился 1,00?

A 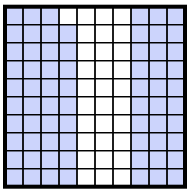 B 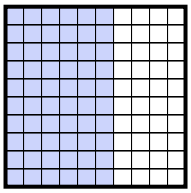 C 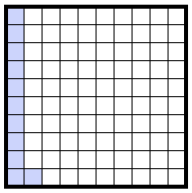 D 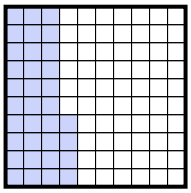

Ответы

1. _____
2. _____
3. _____
4. _____
5. _____
6. _____

1-6	83	67	50	33	17	0

Определите, под какой буквой находится правильный ответ.

1) Что нужно прибавить в решетке 10 × 1, которая представляет десятичную дробь, чтобы после прибавления 0,2, ответ получился 1,00?

A B C  D

2) Что нужно прибавить в решетке 10 × 10, которая представляет десятичную дробь, чтобы после прибавления 0,27, ответ получился 1,00?

A 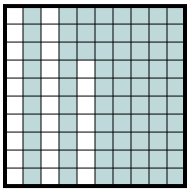 B 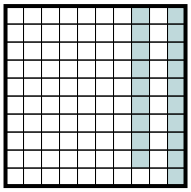 C 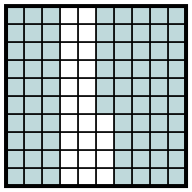 D 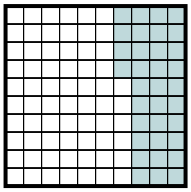

3) Что нужно прибавить в решетке 10 × 10, которая представляет десятичную дробь, чтобы после прибавления 0,06, ответ получился 1,00?

A 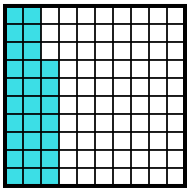 B 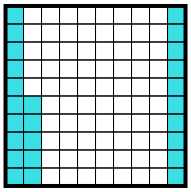 C 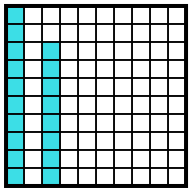 D 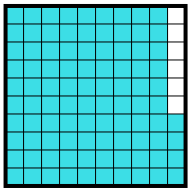

4) Что нужно прибавить в решетке 10 × 1, которая представляет десятичную дробь, чтобы после прибавления 0,6, ответ получился 1,00?

A 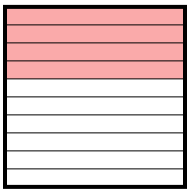 B C  D 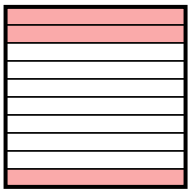

5) Что нужно прибавить в решетке 10 × 10, которая представляет десятичную дробь, чтобы после прибавления 0,95, ответ получился 1,00?

A 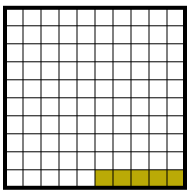 B 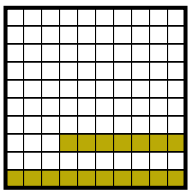 C 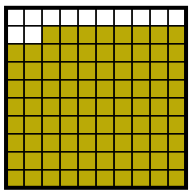 D 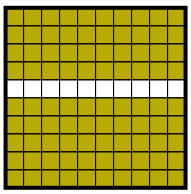

6) Что нужно прибавить в решетке 10 × 10, которая представляет десятичную дробь, чтобы после прибавления 0,89, ответ получился 1,00?

A 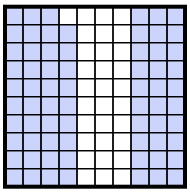 B 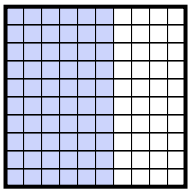 C 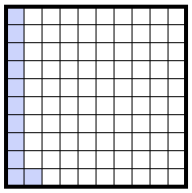 D 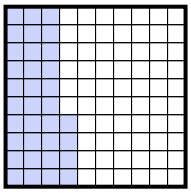

Ответы

1. C
2. A
3. D
4. A
5. A
6. C

1-6	83	67	50	33	17	0

Определите, под какой буквой находится правильный ответ.

1) Что нужно прибавить в решетке 10 × 1, которая представляет десятичную дробь, чтобы после прибавления 0,9, ответ получился 1,00?

A  B C  D 

2) Что нужно прибавить в решетке 10 × 10, которая представляет десятичную дробь, чтобы после прибавления 0,21, ответ получился 1,00?

A  B 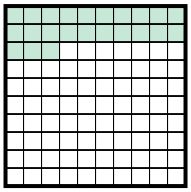 C  D 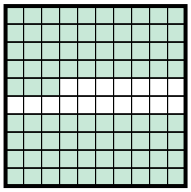

3) Что нужно прибавить в решетке 10 × 10, которая представляет десятичную дробь, чтобы после прибавления 0,87, ответ получился 1,00?

A  B 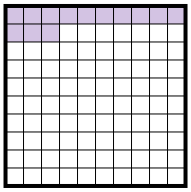 C  D 

4) Что нужно прибавить в решетке 10 × 10, которая представляет десятичную дробь, чтобы после прибавления 0,86, ответ получился 1,00?

A 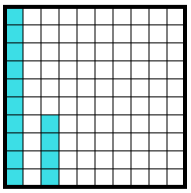 B 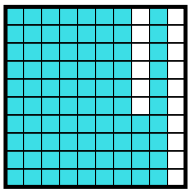 C 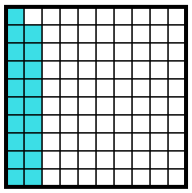 D 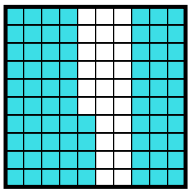

5) Что нужно прибавить в решетке 10 × 10, которая представляет десятичную дробь, чтобы после прибавления 0,14, ответ получился 1,00?

A 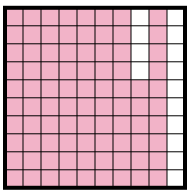 B 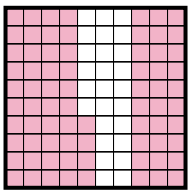 C 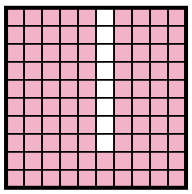 D 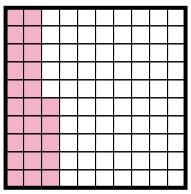

6) Что нужно прибавить в решетке 10 × 1, которая представляет десятичную дробь, чтобы после прибавления 0,3, ответ получился 1,00?

A 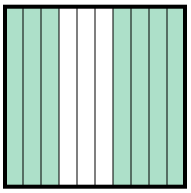 B 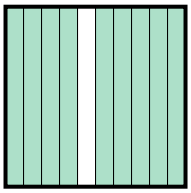 C 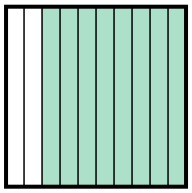 D 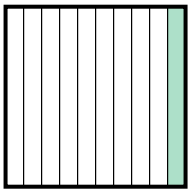

Ответы

1. _____
2. _____
3. _____
4. _____
5. _____
6. _____

1-6	83	67	50	33	17	0

Определите, под какой буквой находится правильный ответ.

1) Что нужно прибавить в решетке 10 × 1, которая представляет десятичную дробь, чтобы после прибавления 0,9, ответ получился 1,00?

A  B C  D 

2) Что нужно прибавить в решетке 10 × 10, которая представляет десятичную дробь, чтобы после прибавления 0,21, ответ получился 1,00?

A  B 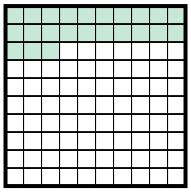 C  D 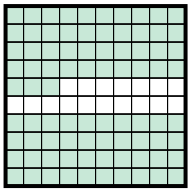

3) Что нужно прибавить в решетке 10 × 10, которая представляет десятичную дробь, чтобы после прибавления 0,87, ответ получился 1,00?

A  B 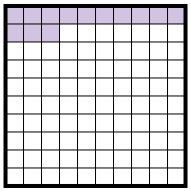 C  D 

4) Что нужно прибавить в решетке 10 × 10, которая представляет десятичную дробь, чтобы после прибавления 0,86, ответ получился 1,00?

A 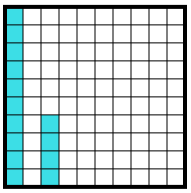 B 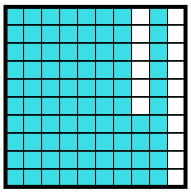 C 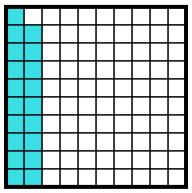 D 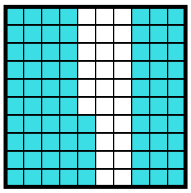

5) Что нужно прибавить в решетке 10 × 10, которая представляет десятичную дробь, чтобы после прибавления 0,14, ответ получился 1,00?

A 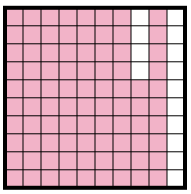 B 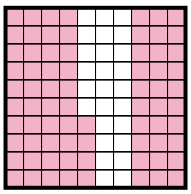 C 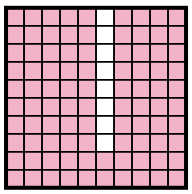 D 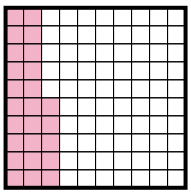

6) Что нужно прибавить в решетке 10 × 1, которая представляет десятичную дробь, чтобы после прибавления 0,3, ответ получился 1,00?

A 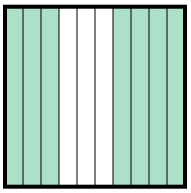 B 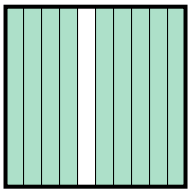 C 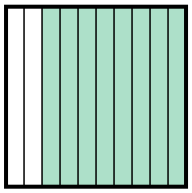 D 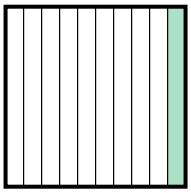

Ответы

1. **B**
2. **C**
3. **B**
4. **A**
5. **A**
6. **A**

1-6	83	67	50	33	17	0

Определите, под какой буквой находится правильный ответ.

1) Что нужно прибавить в решетке 10 × 1, которая представляет десятичную дробь, чтобы после прибавления 0,3, ответ получился 1,00?

A 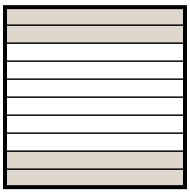 B  C 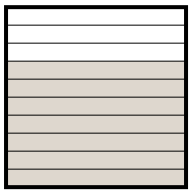 D 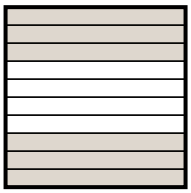

2) Что нужно прибавить в решетке 10 × 1, которая представляет десятичную дробь, чтобы после прибавления 0,4, ответ получился 1,00?

A 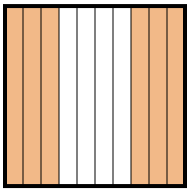 B 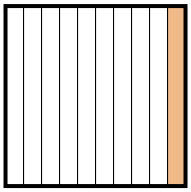 C 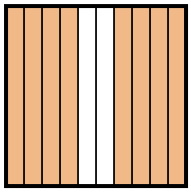 D 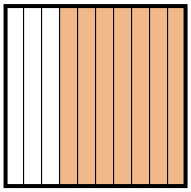

3) Что нужно прибавить в решетке 10 × 1, которая представляет десятичную дробь, чтобы после прибавления 0,6, ответ получился 1,00?

A 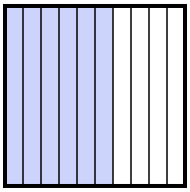 B 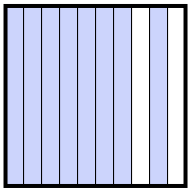 C 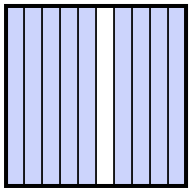 D 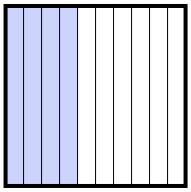

4) Что нужно прибавить в решетке 10 × 10, которая представляет десятичную дробь, чтобы после прибавления 0,65, ответ получился 1,00?

A  B  C  D 

5) Что нужно прибавить в решетке 10 × 10, которая представляет десятичную дробь, чтобы после прибавления 0,06, ответ получился 1,00?

A 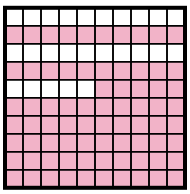 B 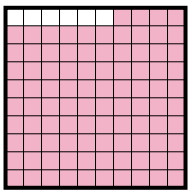 C 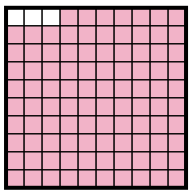 D 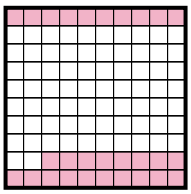

6) Что нужно прибавить в решетке 10 × 1, которая представляет десятичную дробь, чтобы после прибавления 0,9, ответ получился 1,00?

A  B C  D 

Ответы

1. _____
2. _____
3. _____
4. _____
5. _____
6. _____

1-6	83	67	50	33	17	0

Определите, под какой буквой находится правильный ответ.

1) Что нужно прибавить в решетке 10 × 1, которая представляет десятичную дробь, чтобы после прибавления 0,3, ответ получился 1,00?

A 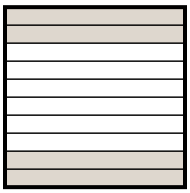 B  C 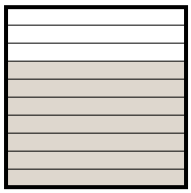 D 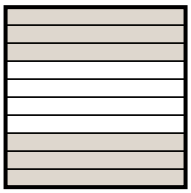

2) Что нужно прибавить в решетке 10 × 1, которая представляет десятичную дробь, чтобы после прибавления 0,4, ответ получился 1,00?

A 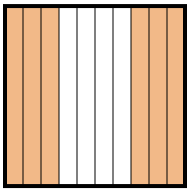 B 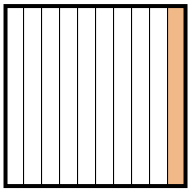 C 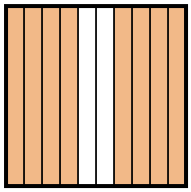 D 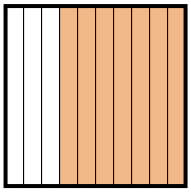

3) Что нужно прибавить в решетке 10 × 1, которая представляет десятичную дробь, чтобы после прибавления 0,6, ответ получился 1,00?

A 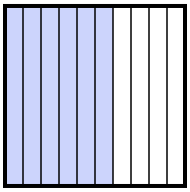 B 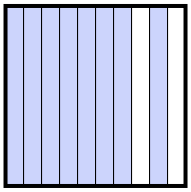 C 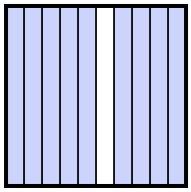 D 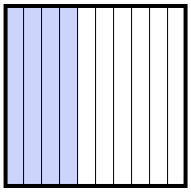

4) Что нужно прибавить в решетке 10 × 10, которая представляет десятичную дробь, чтобы после прибавления 0,65, ответ получился 1,00?

A  B  C  D 

5) Что нужно прибавить в решетке 10 × 10, которая представляет десятичную дробь, чтобы после прибавления 0,06, ответ получился 1,00?

A 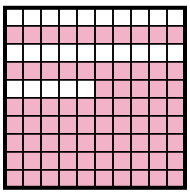 B 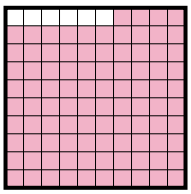 C 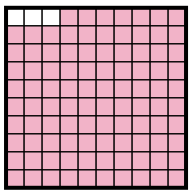 D 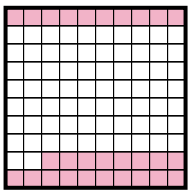

6) Что нужно прибавить в решетке 10 × 1, которая представляет десятичную дробь, чтобы после прибавления 0,9, ответ получился 1,00?

A  B C  D 

Ответы

1. C
2. A
3. D
4. D
5. B
6. B

1-6	83	67	50	33	17	0

Определите, под какой буквой находится правильный ответ.

1) Что нужно прибавить в решетке 10 × 10, которая представляет десятичную дробь, чтобы после прибавления 0,76, ответ получился 1,00?

A 
B 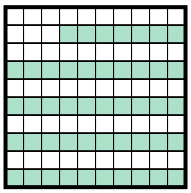
C 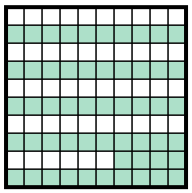
D 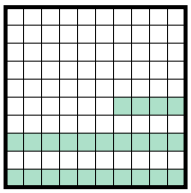

2) Что нужно прибавить в решетке 10 × 1, которая представляет десятичную дробь, чтобы после прибавления 0,5, ответ получился 1,00?

A 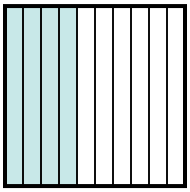
B 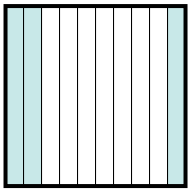
C 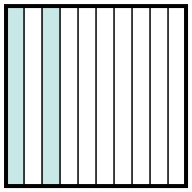
D 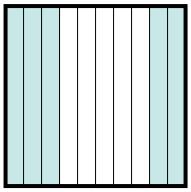

3) Что нужно прибавить в решетке 10 × 1, которая представляет десятичную дробь, чтобы после прибавления 0,1, ответ получился 1,00?

A 
B
C 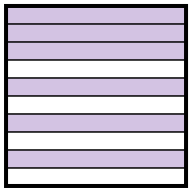
D 

4) Что нужно прибавить в решетке 10 × 10, которая представляет десятичную дробь, чтобы после прибавления 0,63, ответ получился 1,00?

A 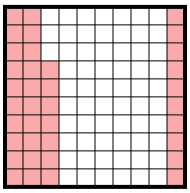
B 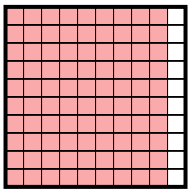
C 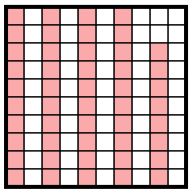
D 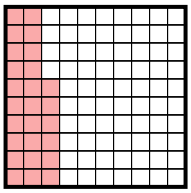

5) Что нужно прибавить в решетке 10 × 1, которая представляет десятичную дробь, чтобы после прибавления 0,3, ответ получился 1,00?

A 
B 
C 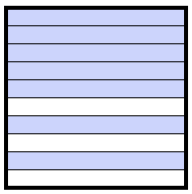
D 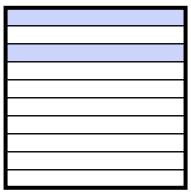

6) Что нужно прибавить в решетке 10 × 10, которая представляет десятичную дробь, чтобы после прибавления 0,75, ответ получился 1,00?

A 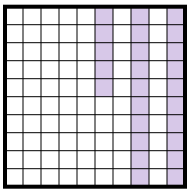
B 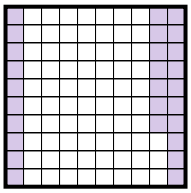
C 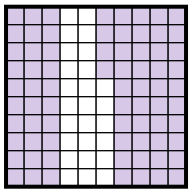
D 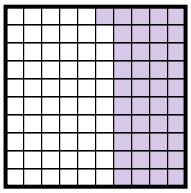

Ответы

1. _____
2. _____
3. _____
4. _____
5. _____
6. _____

1-6	83	67	50	33	17	0

Определите, под какой буквой находится правильный ответ.

1) Что нужно прибавить в решетке 10 × 10, которая представляет десятичную дробь, чтобы после прибавления 0,76, ответ получился 1,00?

A  B 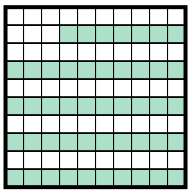 C 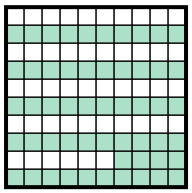 D 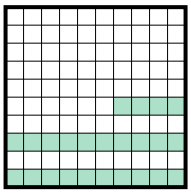

2) Что нужно прибавить в решетке 10 × 1, которая представляет десятичную дробь, чтобы после прибавления 0,5, ответ получился 1,00?

A 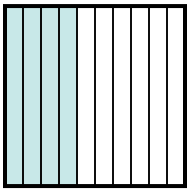 B 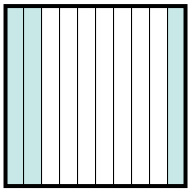 C 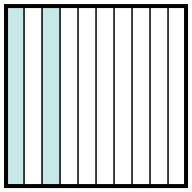 D 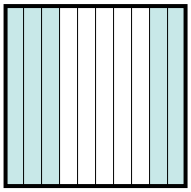

3) Что нужно прибавить в решетке 10 × 1, которая представляет десятичную дробь, чтобы после прибавления 0,1, ответ получился 1,00?

A  B C 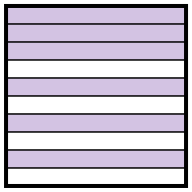 D 

4) Что нужно прибавить в решетке 10 × 10, которая представляет десятичную дробь, чтобы после прибавления 0,63, ответ получился 1,00?

A 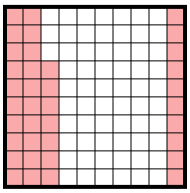 B 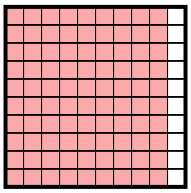 C 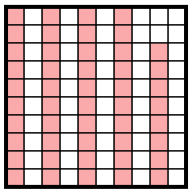 D 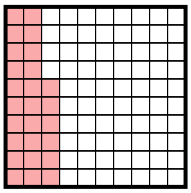

5) Что нужно прибавить в решетке 10 × 1, которая представляет десятичную дробь, чтобы после прибавления 0,3, ответ получился 1,00?

A  B  C 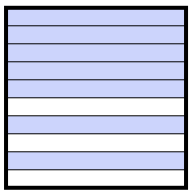 D 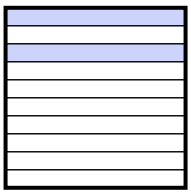

6) Что нужно прибавить в решетке 10 × 10, которая представляет десятичную дробь, чтобы после прибавления 0,75, ответ получился 1,00?

A 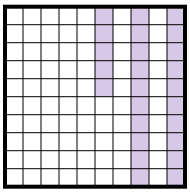 B 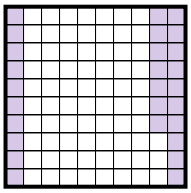 C 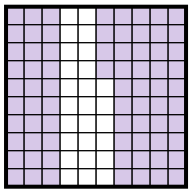 D 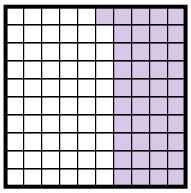

Ответы

1. D
2. D
3. A
4. A
5. C
6. A

1-6	83	67	50	33	17	0

Определите, под какой буквой находится правильный ответ.

1) Что нужно прибавить в решетке 10 × 1, которая представляет десятичную дробь, чтобы после прибавления 0,5, ответ получился 1,00?

A 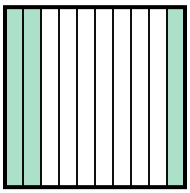 B 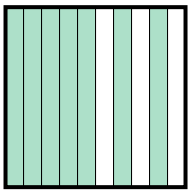 C 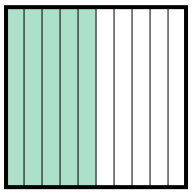 D 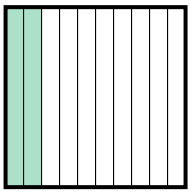

2) Что нужно прибавить в решетке 10 × 1, которая представляет десятичную дробь, чтобы после прибавления 0,6, ответ получился 1,00?

A 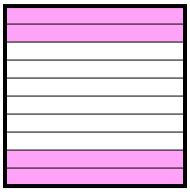 B  C 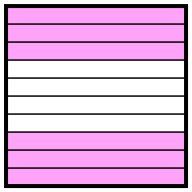 D 

3) Что нужно прибавить в решетке 10 × 10, которая представляет десятичную дробь, чтобы после прибавления 0,72, ответ получился 1,00?

A 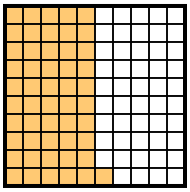 B 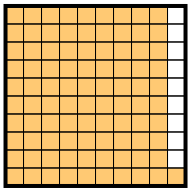 C 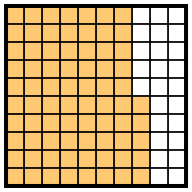 D 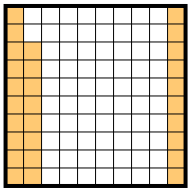

4) Что нужно прибавить в решетке 10 × 10, которая представляет десятичную дробь, чтобы после прибавления 0,59, ответ получился 1,00?

A 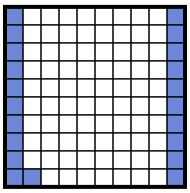 B 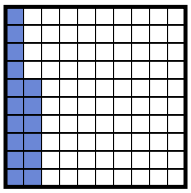 C 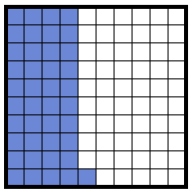 D 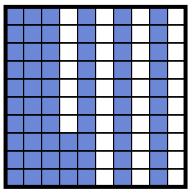

5) Что нужно прибавить в решетке 10 × 10, которая представляет десятичную дробь, чтобы после прибавления 0,32, ответ получился 1,00?

A 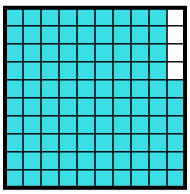 B 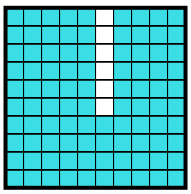 C 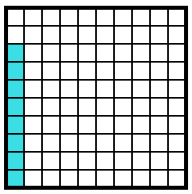 D 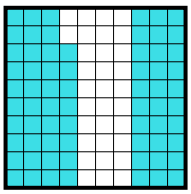

6) Что нужно прибавить в решетке 10 × 1, которая представляет десятичную дробь, чтобы после прибавления 0,4, ответ получился 1,00?

A 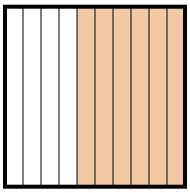 B 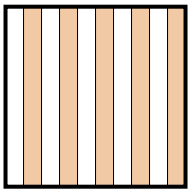 C 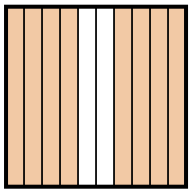 D 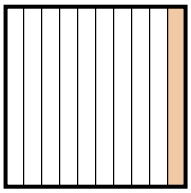

Ответы

1. _____
2. _____
3. _____
4. _____
5. _____
6. _____

1-6	83	67	50	33	17	0

Определите, под какой буквой находится правильный ответ.

1) Что нужно прибавить в решетке 10 × 1, которая представляет десятичную дробь, чтобы после прибавления 0,5, ответ получился 1,00?

A 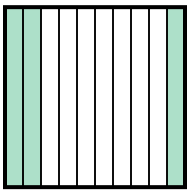 B 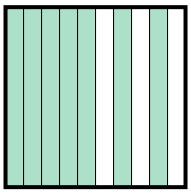 C 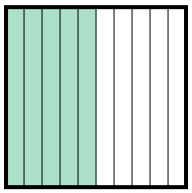 D 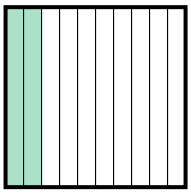

2) Что нужно прибавить в решетке 10 × 1, которая представляет десятичную дробь, чтобы после прибавления 0,6, ответ получился 1,00?

A 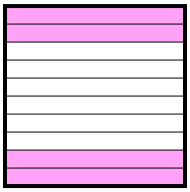 B  C 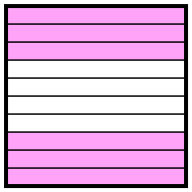 D 

3) Что нужно прибавить в решетке 10 × 10, которая представляет десятичную дробь, чтобы после прибавления 0,72, ответ получился 1,00?

A 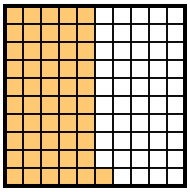 B 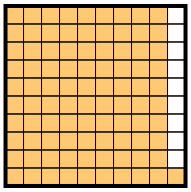 C 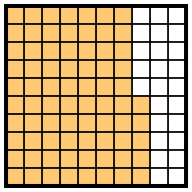 D 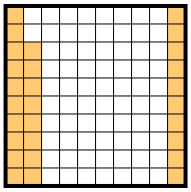

4) Что нужно прибавить в решетке 10 × 10, которая представляет десятичную дробь, чтобы после прибавления 0,59, ответ получился 1,00?

A 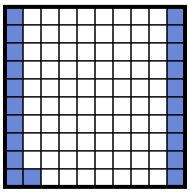 B 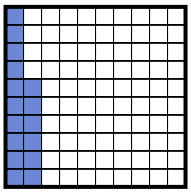 C 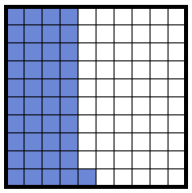 D 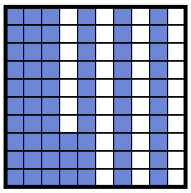

5) Что нужно прибавить в решетке 10 × 10, которая представляет десятичную дробь, чтобы после прибавления 0,32, ответ получился 1,00?

A 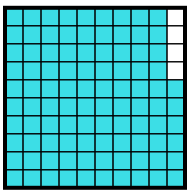 B 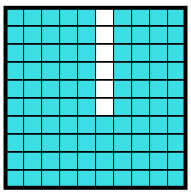 C 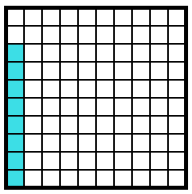 D 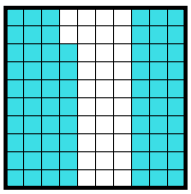

6) Что нужно прибавить в решетке 10 × 1, которая представляет десятичную дробь, чтобы после прибавления 0,4, ответ получился 1,00?

A 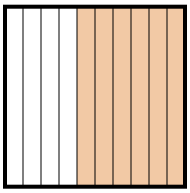 B 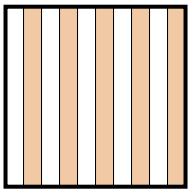 C 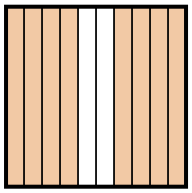 D 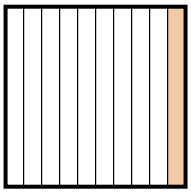

Ответы

1. C
2. A
3. D
4. C
5. D
6. A

1-6	83	67	50	33	17	0

Определите, под какой буквой находится правильный ответ.

1) Что нужно прибавить в решетке 10 × 1, которая представляет десятичную дробь, чтобы после прибавления 0,9, ответ получился 1,00?

A 
B 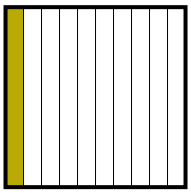
C 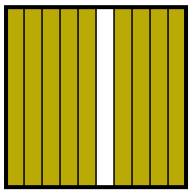
D 

2) Что нужно прибавить в решетке 10 × 10, которая представляет десятичную дробь, чтобы после прибавления 0,7, ответ получился 1,00?

A 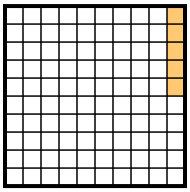
B 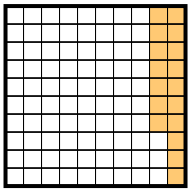
C 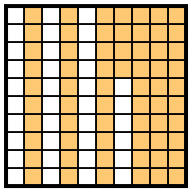
D 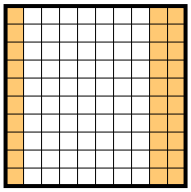

3) Что нужно прибавить в решетке 10 × 10, которая представляет десятичную дробь, чтобы после прибавления 0,21, ответ получился 1,00?

A 
B 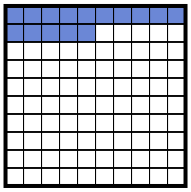
C 
D 

4) Что нужно прибавить в решетке 10 × 1, которая представляет десятичную дробь, чтобы после прибавления 0,3, ответ получился 1,00?

A 
B 
C
D 

5) Что нужно прибавить в решетке 10 × 1, которая представляет десятичную дробь, чтобы после прибавления 0,5, ответ получился 1,00?

A 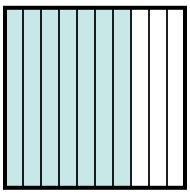
B 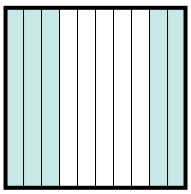
C 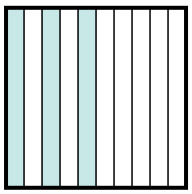
D 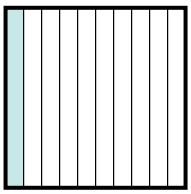

6) Что нужно прибавить в решетке 10 × 10, которая представляет десятичную дробь, чтобы после прибавления 0,07, ответ получился 1,00?

A 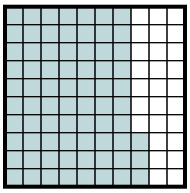
B 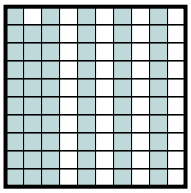
C 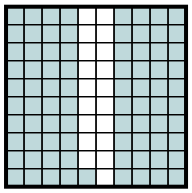
D 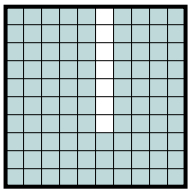

Ответы

1. _____
2. _____
3. _____
4. _____
5. _____
6. _____

1-6	83	67	50	33	17	0

Определите, под какой буквой находится правильный ответ.

1) Что нужно прибавить в решетке 10 × 1, которая представляет десятичную дробь, чтобы после прибавления 0,9, ответ получился 1,00?

A  B 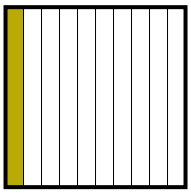 C 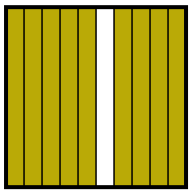 D 

2) Что нужно прибавить в решетке 10 × 10, которая представляет десятичную дробь, чтобы после прибавления 0,7, ответ получился 1,00?

A 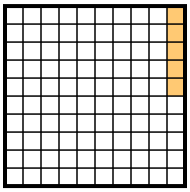 B 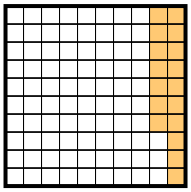 C 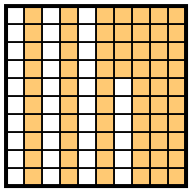 D 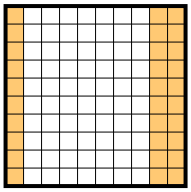

3) Что нужно прибавить в решетке 10 × 10, которая представляет десятичную дробь, чтобы после прибавления 0,21, ответ получился 1,00?

A  B 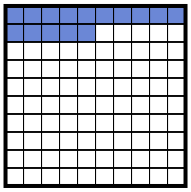 C  D 

4) Что нужно прибавить в решетке 10 × 1, которая представляет десятичную дробь, чтобы после прибавления 0,3, ответ получился 1,00?

A  B  C D 

5) Что нужно прибавить в решетке 10 × 1, которая представляет десятичную дробь, чтобы после прибавления 0,5, ответ получился 1,00?

A 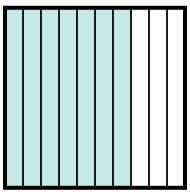 B 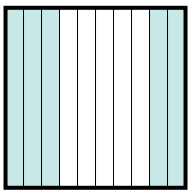 C 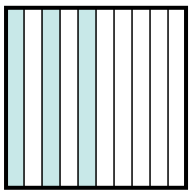 D 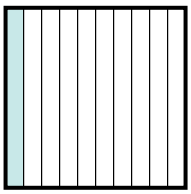

6) Что нужно прибавить в решетке 10 × 10, которая представляет десятичную дробь, чтобы после прибавления 0,07, ответ получился 1,00?

A 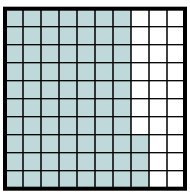 B 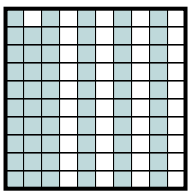 C 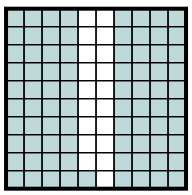 D 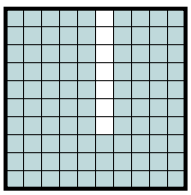

Ответы

1. B
2. D
3. A
4. A
5. B
6. D

1-6	83	67	50	33	17	0