Определите, под какой буквой находится правильный ответ.

1) Что нужно прибавить в решетке 10 × 1, которая представляет десятичную дробь, чтобы после прибавления 0,9, ответ получился 1,00?

A  B C  D 

2) Что нужно прибавить в решетке 10 × 10, которая представляет десятичную дробь, чтобы после прибавления 0,21, ответ получился 1,00?

A  B 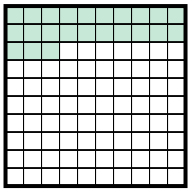 C  D 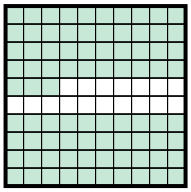

3) Что нужно прибавить в решетке 10 × 10, которая представляет десятичную дробь, чтобы после прибавления 0,87, ответ получился 1,00?

A  B 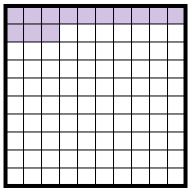 C  D 

4) Что нужно прибавить в решетке 10 × 10, которая представляет десятичную дробь, чтобы после прибавления 0,86, ответ получился 1,00?

A 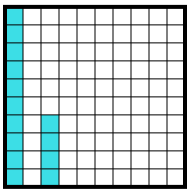 B 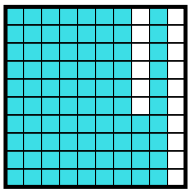 C 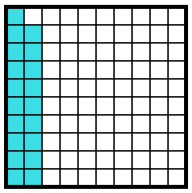 D 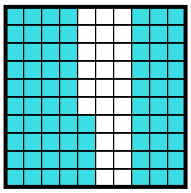

5) Что нужно прибавить в решетке 10 × 10, которая представляет десятичную дробь, чтобы после прибавления 0,14, ответ получился 1,00?

A 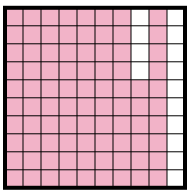 B 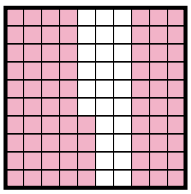 C 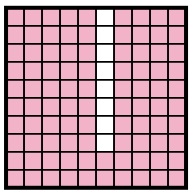 D 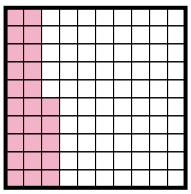

6) Что нужно прибавить в решетке 10 × 1, которая представляет десятичную дробь, чтобы после прибавления 0,3, ответ получился 1,00?

A 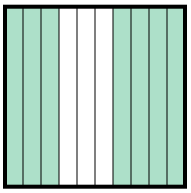 B 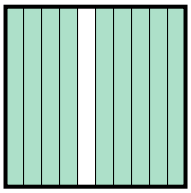 C 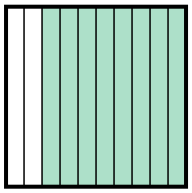 D 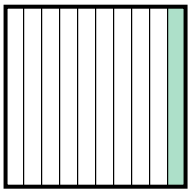

Ответы

1. _____
2. _____
3. _____
4. _____
5. _____
6. _____

1-6	83	67	50	33	17	0

Определите, под какой буквой находится правильный ответ.

1) Что нужно прибавить в решетке 10 × 1, которая представляет десятичную дробь, чтобы после прибавления 0,9, ответ получился 1,00?

A  B C  D 

2) Что нужно прибавить в решетке 10 × 10, которая представляет десятичную дробь, чтобы после прибавления 0,21, ответ получился 1,00?

A  B 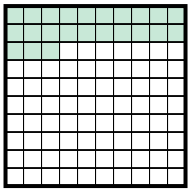 C  D 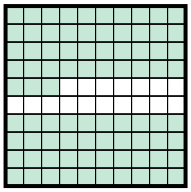

3) Что нужно прибавить в решетке 10 × 10, которая представляет десятичную дробь, чтобы после прибавления 0,87, ответ получился 1,00?

A  B 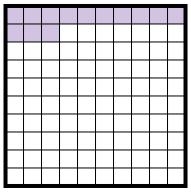 C  D 

4) Что нужно прибавить в решетке 10 × 10, которая представляет десятичную дробь, чтобы после прибавления 0,86, ответ получился 1,00?

A 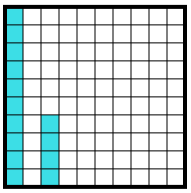 B 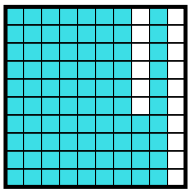 C 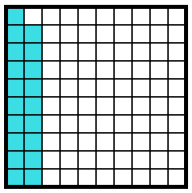 D 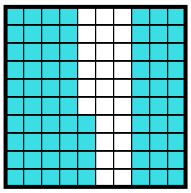

5) Что нужно прибавить в решетке 10 × 10, которая представляет десятичную дробь, чтобы после прибавления 0,14, ответ получился 1,00?

A 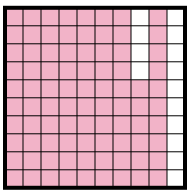 B 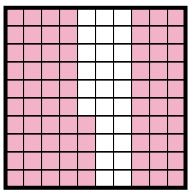 C 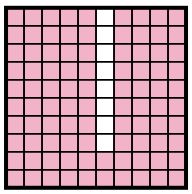 D 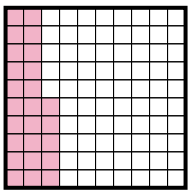

6) Что нужно прибавить в решетке 10 × 1, которая представляет десятичную дробь, чтобы после прибавления 0,3, ответ получился 1,00?

A 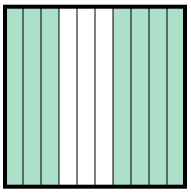 B 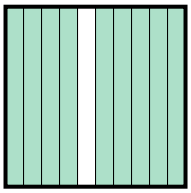 C 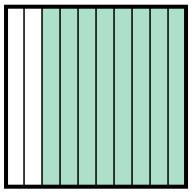 D 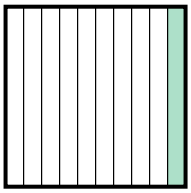

Ответы

1. **B**
2. **C**
3. **B**
4. **A**
5. **A**
6. **A**

1-6	83	67	50	33	17	0