Определите, под какой буквой находится правильный ответ.

1) Что нужно прибавить в решетке 10 × 10, которая представляет десятичную дробь, чтобы после прибавления 0,04, ответ получился 1,00?

A 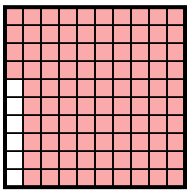 B 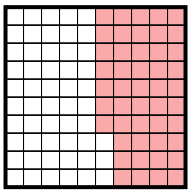 C 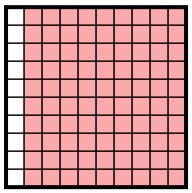 D 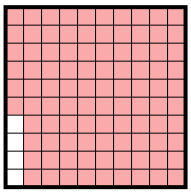

2) Что нужно прибавить в решетке 10 × 1, которая представляет десятичную дробь, чтобы после прибавления 0,5, ответ получился 1,00?

A 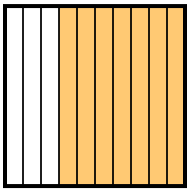 B 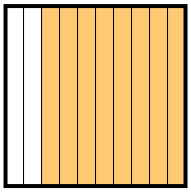 C 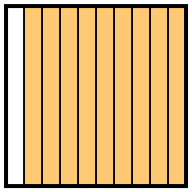 D 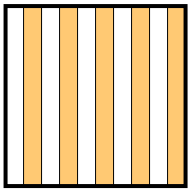

3) Что нужно прибавить в решетке 10 × 10, которая представляет десятичную дробь, чтобы после прибавления 0,88, ответ получился 1,00?

A 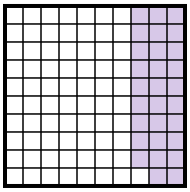 B 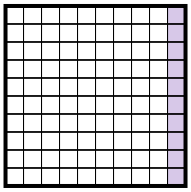 C 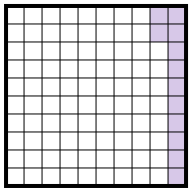 D 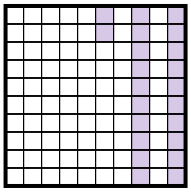

4) Что нужно прибавить в решетке 10 × 1, которая представляет десятичную дробь, чтобы после прибавления 0,6, ответ получился 1,00?

A  B  C D

5) Что нужно прибавить в решетке 10 × 10, которая представляет десятичную дробь, чтобы после прибавления 0,96, ответ получился 1,00?

A  B  C  D 

6) Что нужно прибавить в решетке 10 × 1, которая представляет десятичную дробь, чтобы после прибавления 0,3, ответ получился 1,00?

A 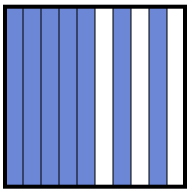 B  C 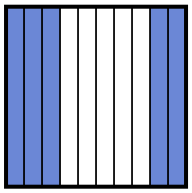 D 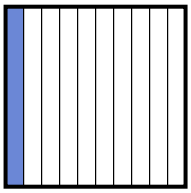

Ответы

1. _____
2. _____
3. _____
4. _____
5. _____
6. _____

1-6	83	67	50	33	17	0

Определите, под какой буквой находится правильный ответ.

1) Что нужно прибавить в решетке 10 × 10, которая представляет десятичную дробь, чтобы после прибавления 0,04, ответ получился 1,00?

A 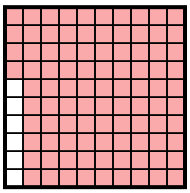 B 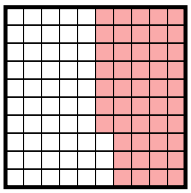 C 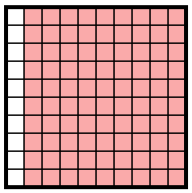 D 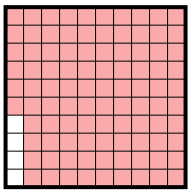

2) Что нужно прибавить в решетке 10 × 1, которая представляет десятичную дробь, чтобы после прибавления 0,5, ответ получился 1,00?

A 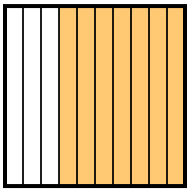 B 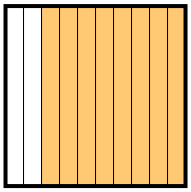 C 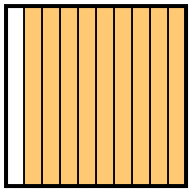 D 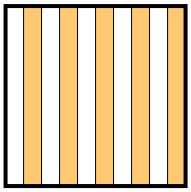

3) Что нужно прибавить в решетке 10 × 10, которая представляет десятичную дробь, чтобы после прибавления 0,88, ответ получился 1,00?

A 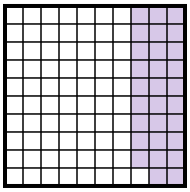 B 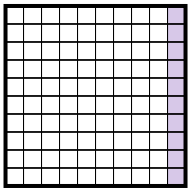 C 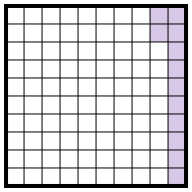 D 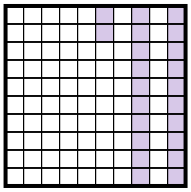

4) Что нужно прибавить в решетке 10 × 1, которая представляет десятичную дробь, чтобы после прибавления 0,6, ответ получился 1,00?

A  B  C D

5) Что нужно прибавить в решетке 10 × 10, которая представляет десятичную дробь, чтобы после прибавления 0,96, ответ получился 1,00?

A  B  C  D 

6) Что нужно прибавить в решетке 10 × 1, которая представляет десятичную дробь, чтобы после прибавления 0,3, ответ получился 1,00?

A 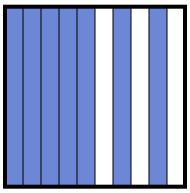 B  C 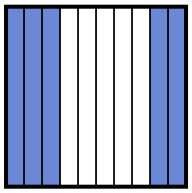 D 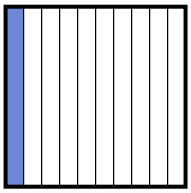

Ответы

1. D
2. D
3. C
4. D
5. C
6. A

1-6	83	67	50	33	17	0