Нахождение веса

Имя:

Используйте весы, показывающие ответ на вопрос.

1)

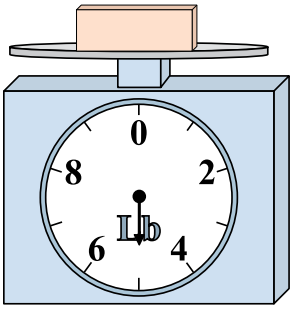

Если данный блок на 3 фунтов(та) легче, то какой вес получится?

2)



Если данный блок на 5 унций(ии) легче, то какой вес получится?

3)



Каков вес блоков в единицах (в фунтов(та))?

4)



Каков вес блоков в единицах (в унций(ии))?

5)



Если данный блок на 7 фунтов(та) тяжелее, то каков вес получится?

6)

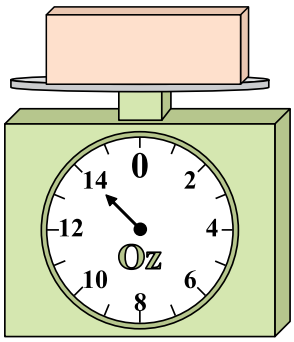

Если у Вас имеется 10 блоков одинакового веса, сколько общий вес в унций(ии) данных блоков?

7)

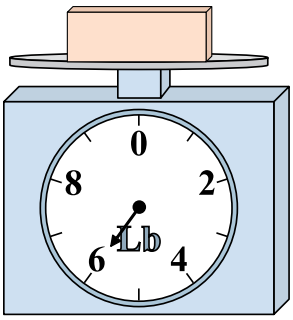

Если данный блок на 6 фунтов(та) тяжелее, то каков вес получится?

8)



Каков вес блоков в единицах (в унций(ии))?

9)



Если у Вас имеется 6 блоков одинакового веса, сколько общий вес в фунтов(та) данных блоков?

Ответы

1. _____
2. _____
3. _____
4. _____
5. _____
6. _____
7. _____
8. _____
9. _____

1-9	89	78	67	56	44	33	22	11	0

Нахождение веса

Имя: Ключ к правильным ответам

Используйте весы, показывающие ответ на вопрос.

1)

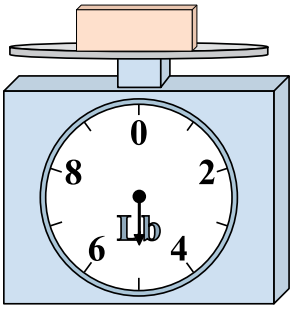

Если данный блок на 3 фунтов(та) легче, то какой вес получится?

2)



Если данный блок на 5 унций(ии) легче, то какой вес получится?

3)



Каков вес блоков в единицах (в фунтов(та))?

4)



Каков вес блоков в единицах (в унций(ии))?

5)



Если данный блок на 7 фунтов(та) тяжелее, то каков вес получится?

6)

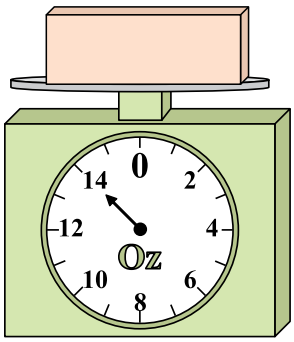

Если у Вас имеется 10 блоков одинакового веса, сколько общий вес в унций(ии) данных блоков?

7)

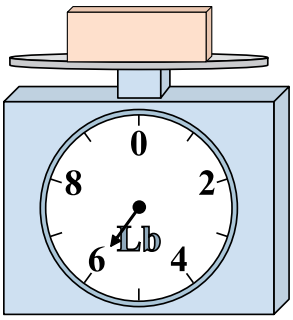

Если данный блок на 6 фунтов(та) тяжелее, то каков вес получится?

8)



Каков вес блоков в единицах (в унций(ии))?

9)



Если у Вас имеется 6 блоков одинакового веса, сколько общий вес в фунтов(та) данных блоков?

Ответы

1. 2
2. 3
3. 8
4. 8
5. 15
6. 140
7. 12
8. 15
9. 24

1-9	89	78	67	56	44	33	22	11	0

Нахождение веса

Имя:

Используйте весы, показывающие ответ на вопрос.

1)



Если у Вас имеется 5 блоков одинакового веса, сколько общий вес в фунтов(та) данных блоков?

2)



Каков вес блоков в единицах (в унций(ии))?

3)



Если данный блок на 8 фунтов(та) тяжелее, то каков вес получится?

4)

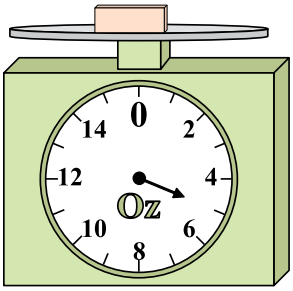

Если данный блок на 9 унций(ии) тяжелее, то каков вес получится?

5)

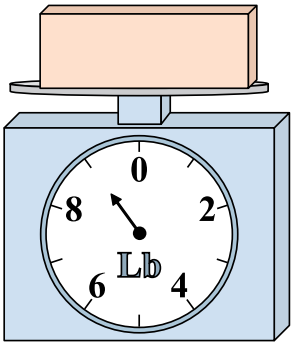

Если данный блок на 6 фунтов(та) легче, то какой вес получится?

6)



Каков вес блоков в единицах (в унций(ии))?

7)



Каков вес блоков в единицах (в фунтов(та))?

8)



Если данный блок на 13 унций(ии) легче, то какой вес получится?

9)

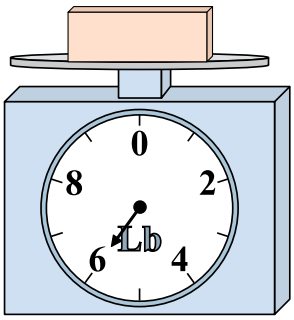

Если у Вас имеется 3 блоков одинакового веса, сколько общий вес в фунтов(та) данных блоков?

Ответы

1. _____
2. _____
3. _____
4. _____
5. _____
6. _____
7. _____
8. _____
9. _____

1-9	89	78	67	56	44	33	22	11	0

Нахождение веса

Имя: **Ключ к правильным ответам**

Используйте весы, показывающие ответ на вопрос.

1)



Если у Вас имеется 5 блоков одинакового веса, сколько общий вес в фунтов(та) данных блоков?

2)



Каков вес блоков в единицах (в унций(ии))?

3)



Если данный блок на 8 фунтов(та) тяжелее, то каков вес получится?

4)

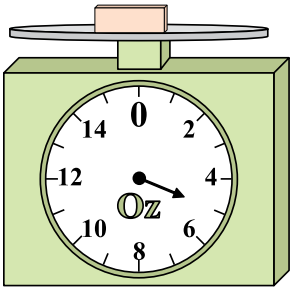

Если данный блок на 9 унций(ии) тяжелее, то каков вес получится?

5)

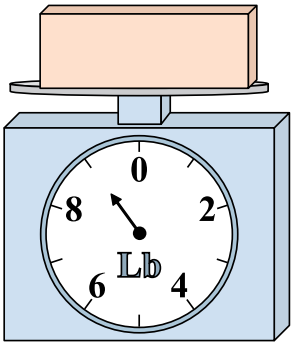

Если данный блок на 6 фунтов(та) легче, то какой вес получится?

6)



Каков вес блоков в единицах (в унций(ии))?

7)



Каков вес блоков в единицах (в фунтов(та))?

8)



Если данный блок на 13 унций(ии) легче, то какой вес получится?

9)

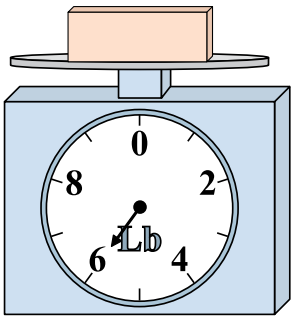

Если у Вас имеется 3 блоков одинакового веса, сколько общий вес в фунтов(та) данных блоков?

Ответы

1. **45**
2. **9**
3. **9**
4. **14**
5. **3**
6. **6**
7. **1**
8. **2**
9. **18**

1-9	89	78	67	56	44	33	22	11	0

Нахождение веса

Имя:

Используйте весы, показывающие ответ на вопрос.

1)

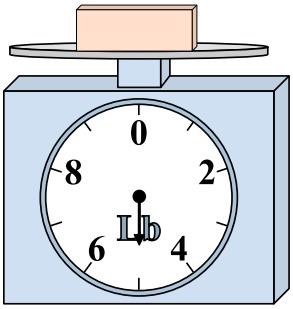

Если данный блок на 10 фунтов(та) тяжелее, то каков вес получится?

2)



Каков вес блоков в единицах (в унций(ии))?

3)

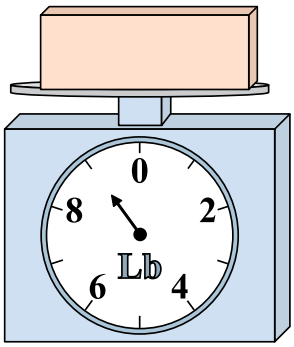

Если у Вас имеется 3 блоков одинакового веса, сколько общий вес в фунтов(та) данных блоков?

4)



Каков вес блоков в единицах (в унций(ии))?

5)

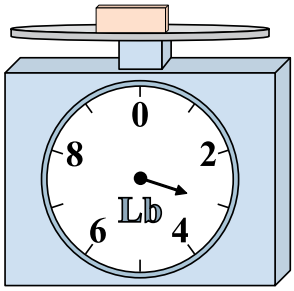

Если данный блок на 2 фунтов(та) легче, то какой вес получится?

6)

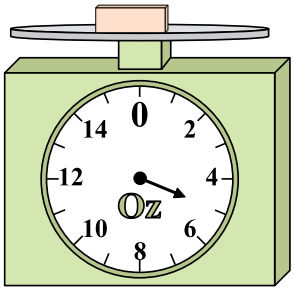

Если у Вас имеется 5 блоков одинакового веса, сколько общий вес в унций(ии) данных блоков?

7)



Если данный блок на 2 фунтов(та) легче, то какой вес получится?

8)



Если у Вас имеется 10 блоков одинакового веса, сколько общий вес в унций(ии) данных блоков?

9)

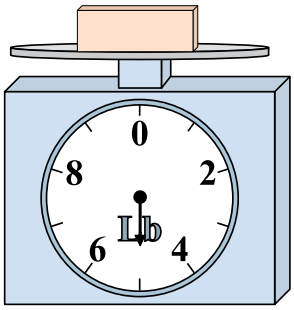

Если данный блок на 9 фунтов(та) тяжелее, то каков вес получится?

Ответы

1. _____
2. _____
3. _____
4. _____
5. _____
6. _____
7. _____
8. _____
9. _____

1-9	89	78	67	56	44	33	22	11	0

Нахождение веса

Имя: Ключ к правильным ответам

Используйте весы, показывающие ответ на вопрос.

1)

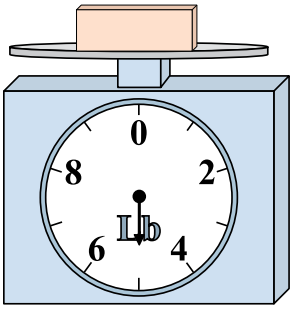

Если данный блок на 10 фунтов(та) тяжелее, то каков вес получится?

2)



Каков вес блоков в единицах (в унций(ии))?

3)

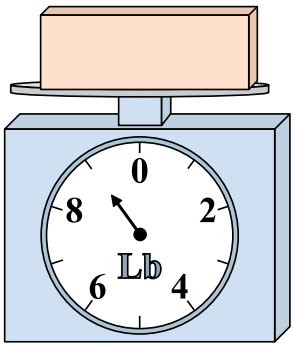

Если у Вас имеется 3 блоков одинакового веса, сколько общий вес в фунтов(та) данных блоков?

4)



Каков вес блоков в единицах (в унций(ии))?

5)

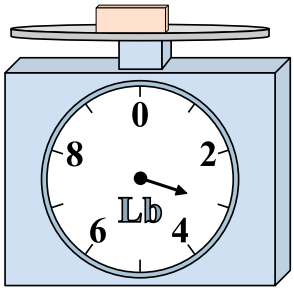

Если данный блок на 2 фунтов(та) легче, то какой вес получится?

6)

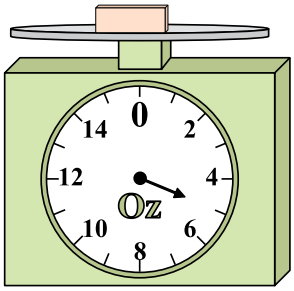

Если у Вас имеется 5 блоков одинакового веса, сколько общий вес в унций(ии) данных блоков?

7)



Если данный блок на 2 фунтов(та) легче, то какой вес получится?

8)



Если у Вас имеется 10 блоков одинакового веса, сколько общий вес в унций(ии) данных блоков?

9)

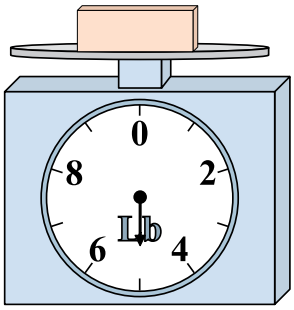

Если данный блок на 9 фунтов(та) тяжелее, то каков вес получится?

Ответы

1. 15
2. 8
3. 27
4. 2
5. 1
6. 25
7. 1
8. 150
9. 14

1-9	89	78	67	56	44	33	22	11	0

Используйте весы, показывающие ответ на вопрос.

1)



Если данный блок на 4 фунтов(та) легче, то какой вес получится?

2)



Каков вес блоков в единицах (в унций(ии))?

3)



Каков вес блоков в единицах (в фунтов(та))?

4)

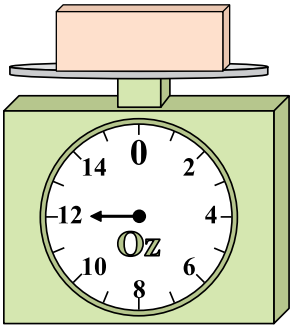

Если у Вас имеется 2 блоков одинакового веса, сколько общий вес в унций(ии) данных блоков?

5)

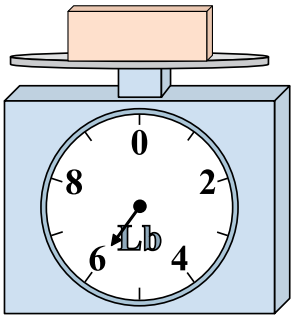

Если данный блок на 2 фунтов(та) легче, то какой вес получится?

6)



Если у Вас имеется 5 блоков одинакового веса, сколько общий вес в унций(ии) данных блоков?

7)



Если данный блок на 2 фунтов(та) тяжелее, то каков вес получится?

8)



Если у Вас имеется 6 блоков одинакового веса, сколько общий вес в унций(ии) данных блоков?

9)



Если данный блок на 4 фунтов(та) тяжелее, то каков вес получится?

Ответы

1. _____
2. _____
3. _____
4. _____
5. _____
6. _____
7. _____
8. _____
9. _____

1-9	89	78	67	56	44	33	22	11	0

Нахождение веса

Имя: Ключ к правильным ответам

Используйте весы, показывающие ответ на вопрос.

1)



Если данный блок на 4 фунтов(та) легче, то какой вес получится?

2)



Каков вес блоков в единицах (в унций(ии))?

3)



Каков вес блоков в единицах (в фунтов(та))?

4)

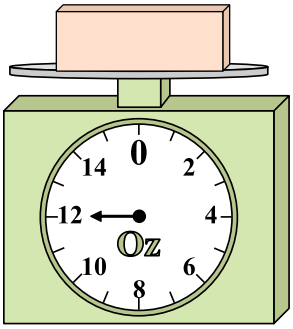

Если у Вас имеется 2 блоков одинакового веса, сколько общий вес в унций(ии) данных блоков?

5)

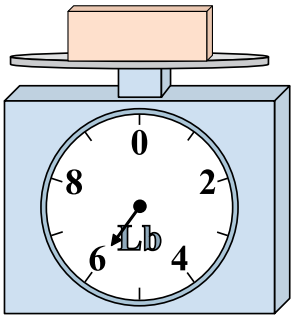

Если данный блок на 2 фунтов(та) легче, то какой вес получится?

6)



Если у Вас имеется 5 блоков одинакового веса, сколько общий вес в унций(ии) данных блоков?

7)



Если данный блок на 2 фунтов(та) тяжелее, то каков вес получится?

8)



Если у Вас имеется 6 блоков одинакового веса, сколько общий вес в унций(ии) данных блоков?

9)



Если данный блок на 4 фунтов(та) тяжелее, то каков вес получится?

Ответы

1. 5
2. 9
3. 4
4. 24
5. 4
6. 40
7. 9
8. 6
9. 5

1-9	89	78	67	56	44	33	22	11	0

Нахождение веса

Имя:

Используйте весы, показывающие ответ на вопрос.

1)



Если у Вас имеется 7 блоков одинакового веса, сколько общий вес в фунтов(та) данных блоков?

2)

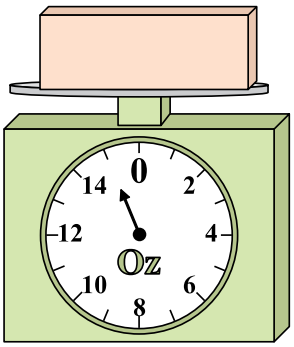

Если данный блок на 7 унций(ии) тяжелее, то каков вес получится?

3)

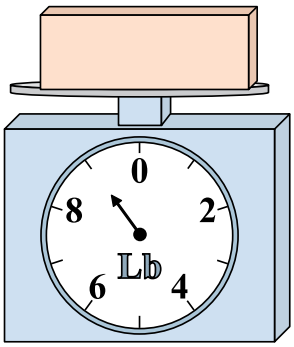

Каков вес блоков в единицах (в фунтов(та))?

4)

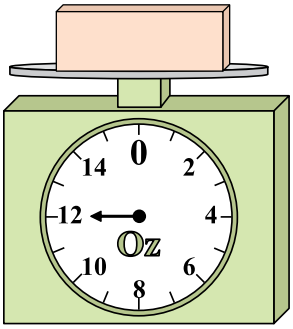

Если данный блок на 10 унций(ии) легче, то какой вес получится?

5)



Если данный блок на 6 фунтов(та) тяжелее, то каков вес получится?

6)



Если данный блок на 4 унций(ии) легче, то какой вес получится?

7)



Каков вес блоков в единицах (в фунтов(та))?

8)



Если у Вас имеется 7 блоков одинакового веса, сколько общий вес в унций(ии) данных блоков?

9)



Каков вес блоков в единицах (в фунтов(та))?

Ответы

1. _____
2. _____
3. _____
4. _____
5. _____
6. _____
7. _____
8. _____
9. _____

1-9	89	78	67	56	44	33	22	11	0

Нахождение веса

Имя: Ключ к правильным ответам

Используйте весы, показывающие ответ на вопрос.

1)



Если у Вас имеется 7 блоков одинакового веса, сколько общий вес в фунтов(та) данных блоков?

2)

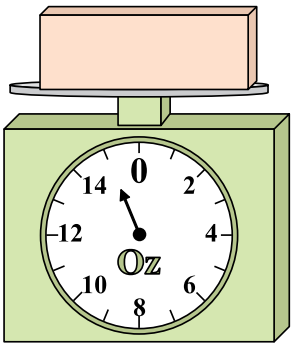

Если данный блок на 7 унций(ии) тяжелее, то каков вес получится?

3)

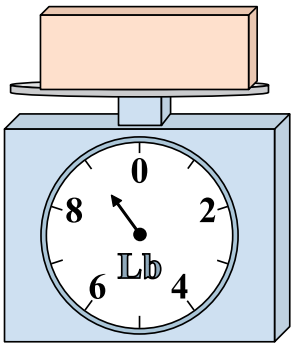

Каков вес блоков в единицах (в фунтов(та))?

4)

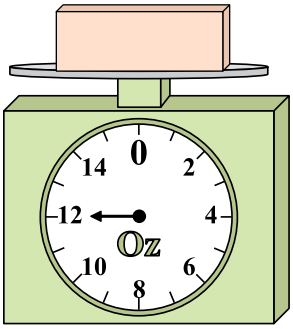

Если данный блок на 10 унций(ии) легче, то какой вес получится?

5)



Если данный блок на 6 фунтов(та) тяжелее, то каков вес получится?

6)



Если данный блок на 4 унций(ии) легче, то какой вес получится?

7)



Каков вес блоков в единицах (в фунтов(та))?

8)



Если у Вас имеется 7 блоков одинакового веса, сколько общий вес в унций(ии) данных блоков?

9)



Каков вес блоков в единицах (в фунтов(та))?

Ответы

1. 63
2. 22
3. 9
4. 2
5. 8
6. 5
7. 4
8. 70
9. 4

1-9	89	78	67	56	44	33	22	11	0

Нахождение веса

Имя:

Используйте весы, показывающие ответ на вопрос.

1)



Если данный блок на 6 фунтов(та) легче, то какой вес получится?

2)



Если данный блок на 8 унций(ии) легче, то какой вес получится?

3)



Если у Вас имеется 2 блоков одинакового веса, сколько общий вес в фунтов(та) данных блоков?

4)



Если данный блок на 2 унций(ии) тяжелее, то каков вес получится?

5)



Если у Вас имеется 8 блоков одинакового веса, сколько общий вес в фунтов(та) данных блоков?

6)



Если данный блок на 2 унций(ии) тяжелее, то каков вес получится?

7)



Каков вес блоков в единицах (в фунтов(та))?

8)

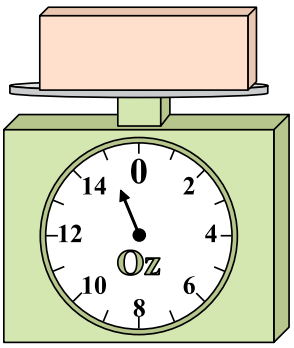

Каков вес блоков в единицах (в унций(ии))?

9)



Если данный блок на 3 фунтов(та) легче, то какой вес получится?

Ответы

1. _____
2. _____
3. _____
4. _____
5. _____
6. _____
7. _____
8. _____
9. _____

1-9	89	78	67	56	44	33	22	11	0

Нахождение веса

Имя: Ключ к правильным ответам

Используйте весы, показывающие ответ на вопрос.

1)



Если данный блок на 6 фунтов(та) легче, то какой вес получится?

2)



Если данный блок на 8 унций(ии) легче, то какой вес получится?

3)



Если у Вас имеется 2 блоков одинакового веса, сколько общий вес в фунтов(та) данных блоков?

4)



Если данный блок на 2 унций(ии) тяжелее, то каков вес получится?

5)



Если у Вас имеется 8 блоков одинакового веса, сколько общий вес в фунтов(та) данных блоков?

6)



Если данный блок на 2 унций(ии) тяжелее, то каков вес получится?

7)



Каков вес блоков в единицах (в фунтов(та))?

8)

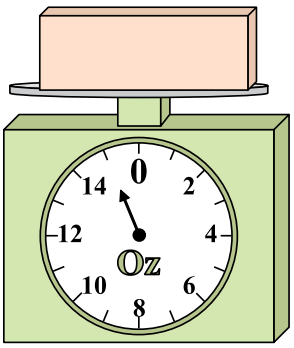

Каков вес блоков в единицах (в унций(ии))?

9)



Если данный блок на 3 фунтов(та) легче, то какой вес получится?

Ответы

1. 2
2. 1
3. 14
4. 8
5. 24
6. 4
7. 9
8. 15
9. 4

1-9	89	78	67	56	44	33	22	11	0

Нахождение веса

Имя:

Используйте весы, показывающие ответ на вопрос.

1)



Каков вес блоков в единицах (в фунтов(та))?

2)



Если данный блок на 8 унций(ии) тяжелее, то каков вес получится?

3)



Если у Вас имеется 2 блоков одинакового веса, сколько общий вес в фунтов(та) данных блоков?

4)

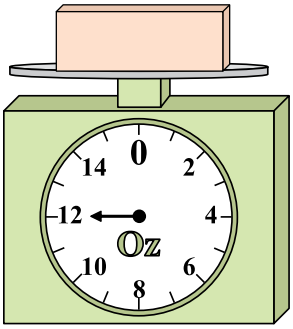

Если у Вас имеется 8 блоков одинакового веса, сколько общий вес в унций(ии) данных блоков?

5)



Если данный блок на 2 фунтов(та) тяжелее, то каков вес получится?

6)

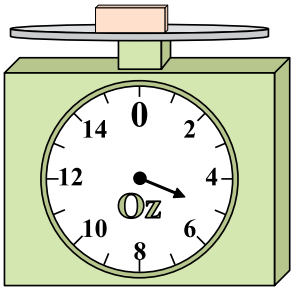

Если данный блок на 4 унций(ии) легче, то какой вес получится?

7)

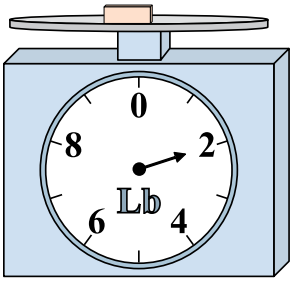

Если у Вас имеется 8 блоков одинакового веса, сколько общий вес в фунтов(та) данных блоков?

8)



Каков вес блоков в единицах (в унций(ии))?

9)



Если данный блок на 3 фунтов(та) легче, то какой вес получится?

Ответы

1. _____
2. _____
3. _____
4. _____
5. _____
6. _____
7. _____
8. _____
9. _____

1-9	89	78	67	56	44	33	22	11	0

Нахождение веса

Имя: Ключ к правильным ответам

Используйте весы, показывающие ответ на вопрос.

1)



Каков вес блоков в единицах (в фунтов(та))?

2)



Если данный блок на 8 унций(ии) тяжелее, то каков вес получится?

3)



Если у Вас имеется 2 блоков одинакового веса, сколько общий вес в фунтов(та) данных блоков?

4)

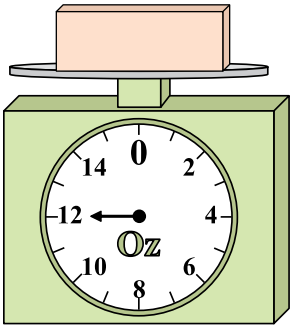

Если у Вас имеется 8 блоков одинакового веса, сколько общий вес в унций(ии) данных блоков?

5)



Если данный блок на 2 фунтов(та) тяжелее, то каков вес получится?

6)

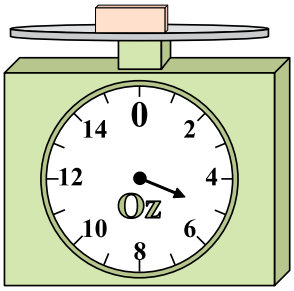

Если данный блок на 4 унций(ии) легче, то какой вес получится?

7)

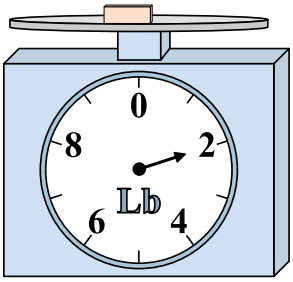

Если у Вас имеется 8 блоков одинакового веса, сколько общий вес в фунтов(та) данных блоков?

8)



Каков вес блоков в единицах (в унций(ии))?

9)



Если данный блок на 3 фунтов(та) легче, то какой вес получится?

Ответы

1. 7
2. 22
3. 8
4. 96
5. 9
6. 1
7. 16
8. 10
9. 5

1-9	89	78	67	56	44	33	22	11	0

Нахождение веса

Имя:

Используйте весы, показывающие ответ на вопрос.

1)

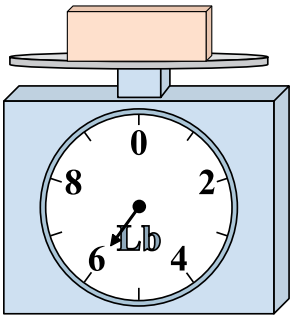

Каков вес блоков в единицах (в фунтов(та))?

2)



Каков вес блоков в единицах (в унций(ии))?

3)



Если данный блок на 3 фунтов(та) легче, то какой вес получится?

4)



Если данный блок на 7 унций(ии) тяжелее, то каков вес получится?

5)

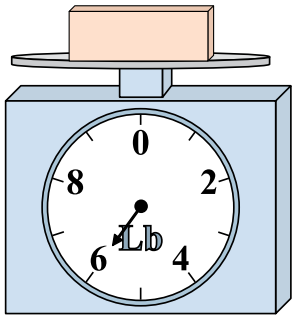

Если данный блок на 4 фунтов(та) тяжелее, то каков вес получится?

6)



Если у Вас имеется 9 блоков одинакового веса, сколько общий вес в унций(ии) данных блоков?

7)



Если у Вас имеется 10 блоков одинакового веса, сколько общий вес в фунтов(та) данных блоков?

8)

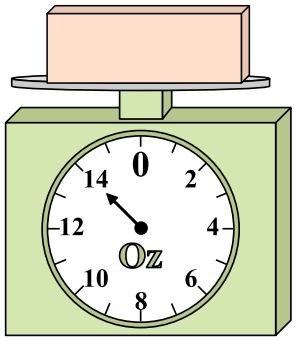

Если данный блок на 5 унций(ии) легче, то какой вес получится?

9)



Если данный блок на 6 фунтов(та) легче, то какой вес получится?

Ответы

1. _____
2. _____
3. _____
4. _____
5. _____
6. _____
7. _____
8. _____
9. _____

1-9	89	78	67	56	44	33	22	11	0

Используйте весы, показывающие ответ на вопрос.

1)

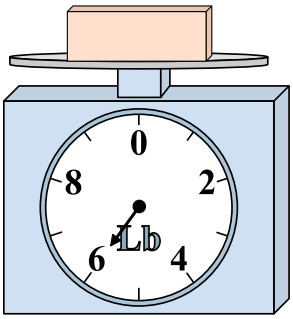

Каков вес блоков в единицах (в фунтов(та))?

2)



Каков вес блоков в единицах (в унций(ии))?

3)



Если данный блок на 3 фунтов(та) легче, то какой вес получится?

4)



Если данный блок на 7 унций(ии) тяжелее, то каков вес получится?

5)

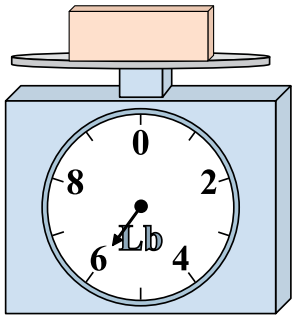

Если данный блок на 4 фунтов(та) тяжелее, то каков вес получится?

6)



Если у Вас имеется 9 блоков одинакового веса, сколько общий вес в унций(ии) данных блоков?

7)



Если у Вас имеется 10 блоков одинакового веса, сколько общий вес в фунтов(та) данных блоков?

8)

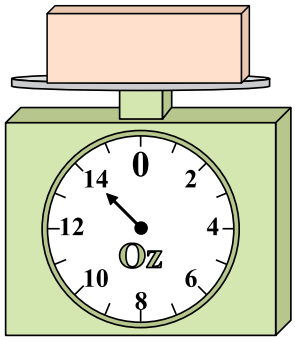

Если данный блок на 5 унций(ии) легче, то какой вес получится?

9)



Если данный блок на 6 фунтов(та) легче, то какой вес получится?

Ответы

1. 6
2. 8
3. 1
4. 21
5. 10
6. 108
7. 30
8. 9
9. 2

1-9	89	78	67	56	44	33	22	11	0

Нахождение веса

Имя:

Используйте весы, показывающие ответ на вопрос.

1)



Если данный блок на 3 фунтов(та) легче, то какой вес получится?

2)



Если данный блок на 3 унций(ии) легче, то какой вес получится?

3)

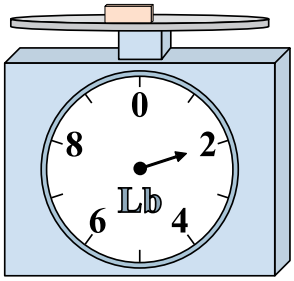

Если данный блок на 7 фунтов(та) тяжелее, то каков вес получится?

4)

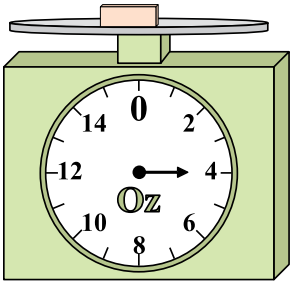

Каков вес блоков в единицах (в унций(ии))?

5)

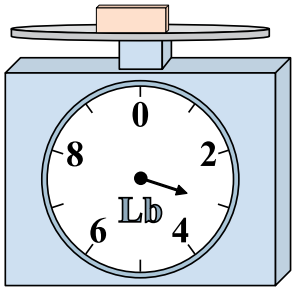

Если данный блок на 2 фунтов(та) легче, то какой вес получится?

6)



Каков вес блоков в единицах (в унций(ии))?

7)



Если у Вас имеется 9 блоков одинакового веса, сколько общий вес в фунтов(та) данных блоков?

8)



Если у Вас имеется 10 блоков одинакового веса, сколько общий вес в унций(ии) данных блоков?

9)

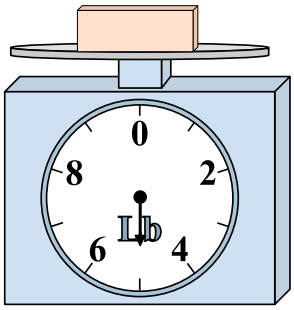

Если данный блок на 9 фунтов(та) тяжелее, то каков вес получится?

Ответы

1. _____
2. _____
3. _____
4. _____
5. _____
6. _____
7. _____
8. _____
9. _____

1-9	89	78	67	56	44	33	22	11	0

Используйте весы, показывающие ответ на вопрос.

1)



Если данный блок на 3 фунтов(та) легче, то какой вес получится?

2)



Если данный блок на 3 унций(ии) легче, то какой вес получится?

3)

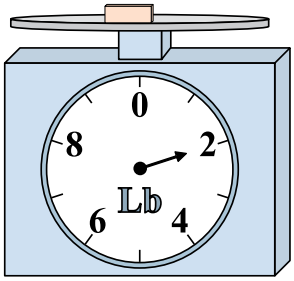

Если данный блок на 7 фунтов(та) тяжелее, то каков вес получится?

4)

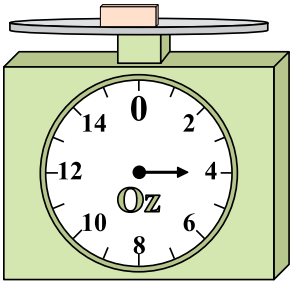

Каков вес блоков в единицах (в унций(ии))?

5)

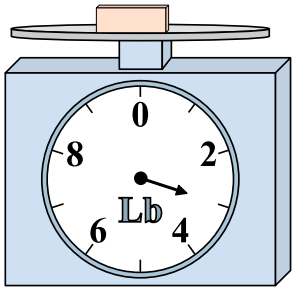

Если данный блок на 2 фунтов(та) легче, то какой вес получится?

6)



Каков вес блоков в единицах (в унций(ии))?

7)



Если у Вас имеется 9 блоков одинакового веса, сколько общий вес в фунтов(та) данных блоков?

8)



Если у Вас имеется 10 блоков одинакового веса, сколько общий вес в унций(ии) данных блоков?

9)

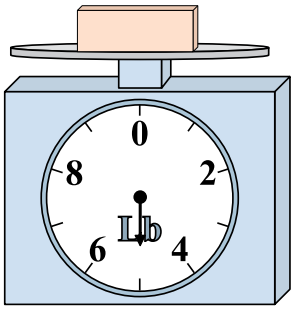

Если данный блок на 9 фунтов(та) тяжелее, то каков вес получится?

Ответы

1. 1
2. 3
3. 9
4. 4
5. 1
6. 13
7. 81
8. 70
9. 14

1-9	89	78	67	56	44	33	22	11	0

Нахождение веса

Имя:

Используйте весы, показывающие ответ на вопрос.

1)



Каков вес блоков в единицах (в фунтов(та))?

2)

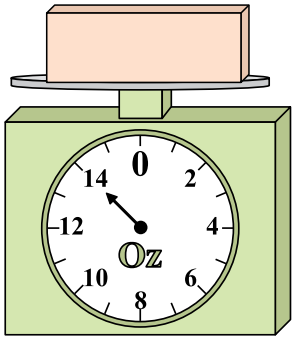

Если данный блок на 5 унций(ии) тяжелее, то каков вес получится?

3)



Если данный блок на 5 фунтов(та) легче, то какой вес получится?

4)



Если данный блок на 8 унций(ии) легче, то какой вес получится?

5)



Если у Вас имеется 10 блоков одинакового веса, сколько общий вес в фунтов(та) данных блоков?

6)

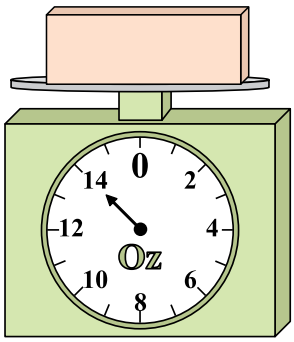

Если данный блок на 2 унций(ии) тяжелее, то каков вес получится?

7)



Если у Вас имеется 9 блоков одинакового веса, сколько общий вес в фунтов(та) данных блоков?

8)



Если данный блок на 3 унций(ии) тяжелее, то каков вес получится?

9)



Каков вес блоков в единицах (в фунтов(та))?

Ответы

1. _____
2. _____
3. _____
4. _____
5. _____
6. _____
7. _____
8. _____
9. _____

1-9	89	78	67	56	44	33	22	11	0

Нахождение веса

Имя: Ключ к правильным ответам

Используйте весы, показывающие ответ на вопрос.

1)



Каков вес блоков в единицах (в фунтов(та))?

2)

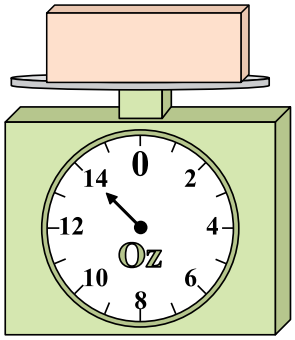

Если данный блок на 5 унций(ии) тяжелее, то каков вес получится?

3)



Если данный блок на 5 фунтов(та) легче, то какой вес получится?

4)



Если данный блок на 8 унций(ии) легче, то какой вес получится?

5)



Если у Вас имеется 10 блоков одинакового веса, сколько общий вес в фунтов(та) данных блоков?

6)

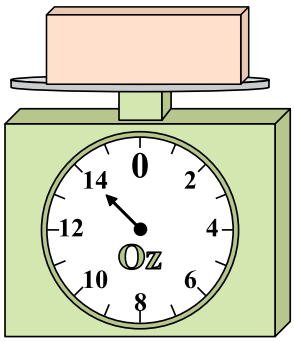

Если данный блок на 2 унций(ии) тяжелее, то каков вес получится?

7)



Если у Вас имеется 9 блоков одинакового веса, сколько общий вес в фунтов(та) данных блоков?

8)



Если данный блок на 3 унций(ии) тяжелее, то каков вес получится?

9)



Каков вес блоков в единицах (в фунтов(та))?

Ответы

1. 9
2. 19
3. 3
4. 5
5. 80
6. 16
7. 27
8. 6
9. 9

1-9	89	78	67	56	44	33	22	11	0