Нахождение веса

Имя:

**Используйте весы, показывающие ответ на вопрос.**

**1)**




Если данный блок на 3 фунтов(та) легче, то какой вес получится?

**2)**




Если данный блок на 3 унций(ии) легче, то какой вес получится?

**3)**

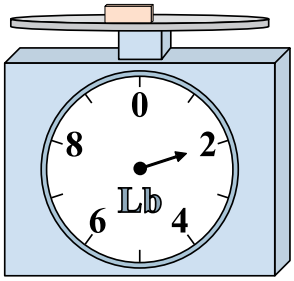


Если данный блок на 7 фунтов(та) тяжелее, то каков вес получится?

**4)**

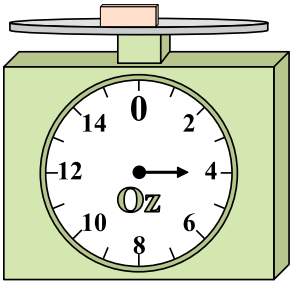


Каков вес блоков в единицах (в унций(ии))?

**5)**

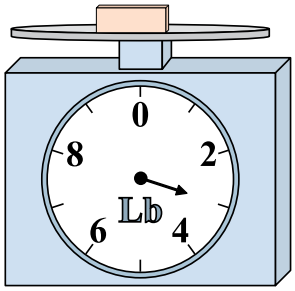


Если данный блок на 2 фунтов(та) легче, то какой вес получится?

**6)**




Каков вес блоков в единицах (в унций(ии))?

**7)**




Если у Вас имеется 9 блоков одинакового веса, сколько общий вес в фунтов(та) данных блоков?

**8)**




Если у Вас имеется 10 блоков одинакового веса, сколько общий вес в унций(ии) данных блоков?

**9)**

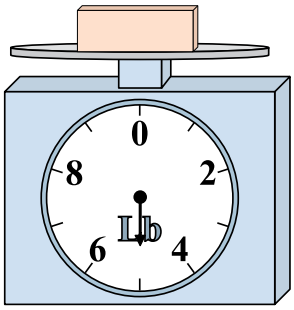


Если данный блок на 9 фунтов(та) тяжелее, то каков вес получится?

**Ответы**

1. _____
2. _____
3. _____
4. _____
5. _____
6. _____
7. _____
8. _____
9. _____



| 1-9 | 89 | 78 | 67 | 56 | 44 | 33 | 22 | 11 | 0 |
|---|---|---|---|---|---|---|---|---|---|

**Используйте весы, показывающие ответ на вопрос.**

**1)**




Если данный блок на 3 фунтов(та) легче, то какой вес получится?

**2)**




Если данный блок на 3 унций(ии) легче, то какой вес получится?

**3)**

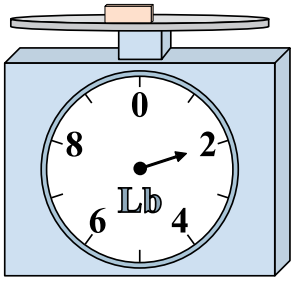


Если данный блок на 7 фунтов(та) тяжелее, то каков вес получится?

**4)**

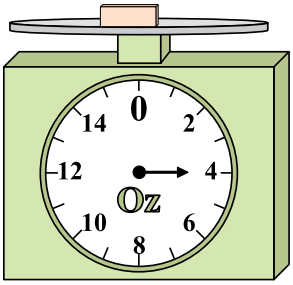


Каков вес блоков в единицах (в унций(ии))?

**5)**

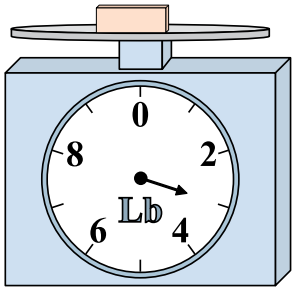


Если данный блок на 2 фунтов(та) легче, то какой вес получится?

**6)**




Каков вес блоков в единицах (в унций(ии))?

**7)**




Если у Вас имеется 9 блоков одинакового веса, сколько общий вес в фунтов(та) данных блоков?

**8)**




Если у Вас имеется 10 блоков одинакового веса, сколько общий вес в унций(ии) данных блоков?

**9)**

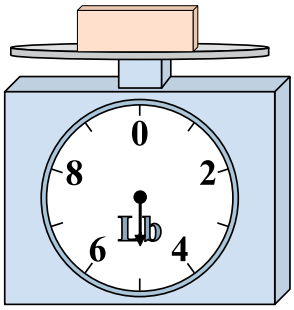


Если данный блок на 9 фунтов(та) тяжелее, то каков вес получится?

## Ответы

1. 1
2. 3
3. 9
4. 4
5. 1
6. 13
7. 81
8. 70
9. 14



| 1-9 | 89 | 78 | 67 | 56 | 44 | 33 | 22 | 11 | 0 |
|---|---|---|---|---|---|---|---|---|---|