Нахождение веса

Имя:

Используйте весы, показывающие ответ на вопрос.

1)



Если у Вас имеется 7 блоков одинакового веса, сколько общий вес в фунтов(та) данных блоков?

2)

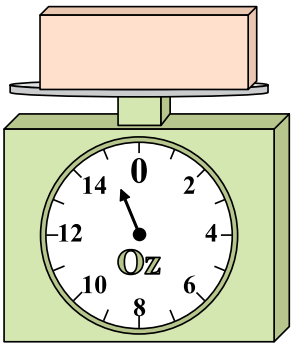

Если данный блок на 7 унций(ии) тяжелее, то каков вес получится?

3)

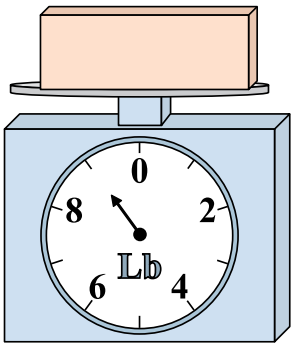

Каков вес блоков в единицах (в фунтов(та))?

4)

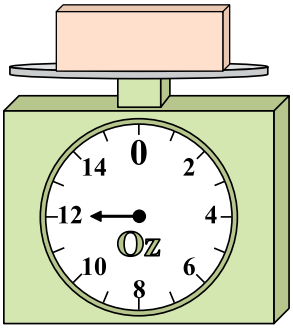

Если данный блок на 10 унций(ии) легче, то какой вес получится?

5)



Если данный блок на 6 фунтов(та) тяжелее, то каков вес получится?

6)



Если данный блок на 4 унций(ии) легче, то какой вес получится?

7)



Каков вес блоков в единицах (в фунтов(та))?

8)



Если у Вас имеется 7 блоков одинакового веса, сколько общий вес в унций(ии) данных блоков?

9)



Каков вес блоков в единицах (в фунтов(та))?

Ответы

1. _____
2. _____
3. _____
4. _____
5. _____
6. _____
7. _____
8. _____
9. _____

1-9	89	78	67	56	44	33	22	11	0

Нахождение веса

Имя: Ключ к правильным ответам

Используйте весы, показывающие ответ на вопрос.

1)



Если у Вас имеется 7 блоков одинакового веса, сколько общий вес в фунтов(та) данных блоков?

2)

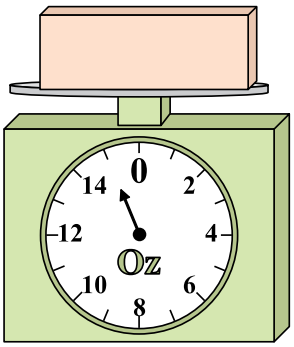

Если данный блок на 7 унций(ии) тяжелее, то каков вес получится?

3)

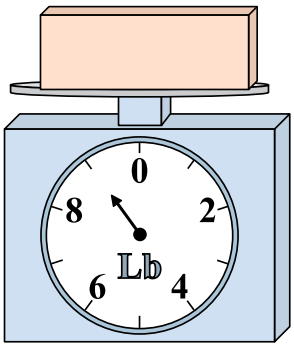

Каков вес блоков в единицах (в фунтов(та))?

4)

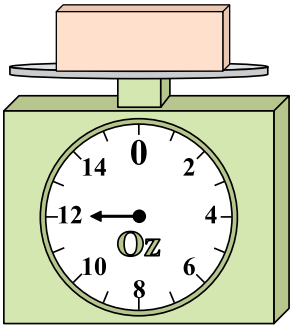

Если данный блок на 10 унций(ии) легче, то какой вес получится?

5)



Если данный блок на 6 фунтов(та) тяжелее, то каков вес получится?

6)



Если данный блок на 4 унций(ии) легче, то какой вес получится?

7)



Каков вес блоков в единицах (в фунтов(та))?

8)



Если у Вас имеется 7 блоков одинакового веса, сколько общий вес в унций(ии) данных блоков?

9)



Каков вес блоков в единицах (в фунтов(та))?

Ответы

1. 63
2. 22
3. 9
4. 2
5. 8
6. 5
7. 4
8. 70
9. 4

1-9	89	78	67	56	44	33	22	11	0