Используйте весы, показывающие ответ на вопрос.

1)



Если данный блок на 4 фунтов(та) легче, то какой вес получится?

2)



Каков вес блоков в единицах (в унций(ии))?

3)



Каков вес блоков в единицах (в фунтов(та))?

4)

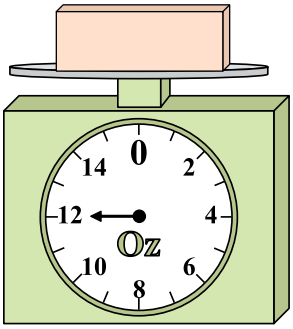

Если у Вас имеется 2 блоков одинакового веса, сколько общий вес в унций(ии) данных блоков?

5)

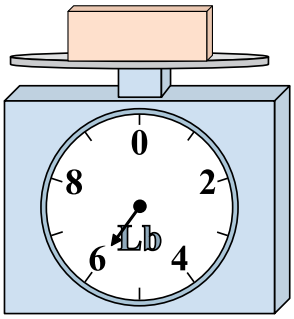

Если данный блок на 2 фунтов(та) легче, то какой вес получится?

6)



Если у Вас имеется 5 блоков одинакового веса, сколько общий вес в унций(ии) данных блоков?

7)



Если данный блок на 2 фунтов(та) тяжелее, то каков вес получится?

8)



Если у Вас имеется 6 блоков одинакового веса, сколько общий вес в унций(ии) данных блоков?

9)



Если данный блок на 4 фунтов(та) тяжелее, то каков вес получится?

Ответы

1. _____
2. _____
3. _____
4. _____
5. _____
6. _____
7. _____
8. _____
9. _____

1-9	89	78	67	56	44	33	22	11	0

Нахождение веса

Имя: Ключ к правильным ответам

Используйте весы, показывающие ответ на вопрос.

1)



Если данный блок на 4 фунтов(та) легче, то какой вес получится?

2)



Каков вес блоков в единицах (в унций(ии))?

3)



Каков вес блоков в единицах (в фунтов(та))?

4)

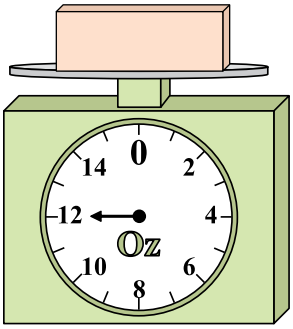

Если у Вас имеется 2 блоков одинакового веса, сколько общий вес в унций(ии) данных блоков?

5)

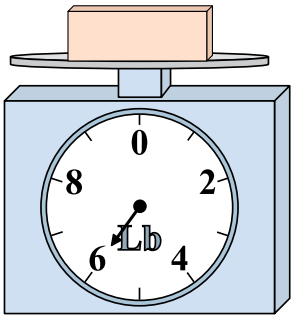

Если данный блок на 2 фунтов(та) легче, то какой вес получится?

6)



Если у Вас имеется 5 блоков одинакового веса, сколько общий вес в унций(ии) данных блоков?

7)



Если данный блок на 2 фунтов(та) тяжелее, то каков вес получится?

8)



Если у Вас имеется 6 блоков одинакового веса, сколько общий вес в унций(ии) данных блоков?

9)



Если данный блок на 4 фунтов(та) тяжелее, то каков вес получится?

Ответы

1. 5
2. 9
3. 4
4. 24
5. 4
6. 40
7. 9
8. 6
9. 5

1-9	89	78	67	56	44	33	22	11	0