Визуальное деление

Имя:

Используйте фигуры, чтобы получить ответ на вопрос.

Ex) Сколько групп по 6 вы можете выделить из 18 данных фигур?

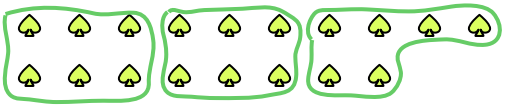

1) Сколько групп по 9 вы можете выделить из 36 данных фигур?



2) Сколько групп по 9 вы можете выделить из 18 данных фигур?

3) Сколько групп по 4 вы можете выделить из 40 данных фигур?



4) Сколько групп по 5 вы можете выделить из 25 данных фигур?

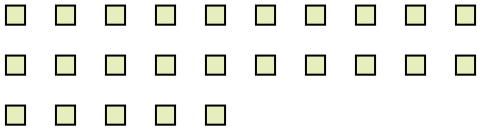

5) Сколько групп по 8 вы можете выделить из 32 данных фигур?



6) Сколько групп по 9 вы можете выделить из 18 данных фигур?

7) Сколько групп по 7 вы можете выделить из 14 данных фигур?

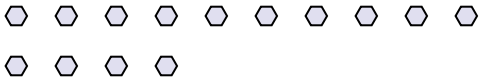

8) Сколько групп по 4 вы можете выделить из 20 данных фигур?

9) Сколько групп по 4 вы можете выделить из 12 данных фигур?

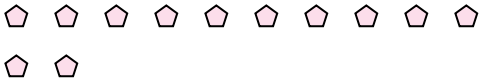

10) Сколько групп по 9 вы можете выделить из 18 данных фигур?

11) Сколько групп по 9 вы можете выделить из 18 данных фигур?

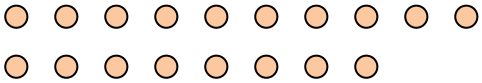

Ответы

Ex. 3

1. _____
2. _____
3. _____
4. _____
5. _____
6. _____
7. _____
8. _____
9. _____
10. _____
11. _____

1-10	91	82	73	64	55	45	36	27	18	9
11	0									

Визуальное деление

Имя:

Ключ к правильным ответам

Используйте фигуры, чтобы получить ответ на вопрос.

Ex) Сколько групп по 6 вы можете выделить из 18 данных фигур?

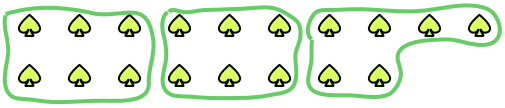

1) Сколько групп по 9 вы можете выделить из 36 данных фигур?



2) Сколько групп по 9 вы можете выделить из 18 данных фигур?

3) Сколько групп по 4 вы можете выделить из 40 данных фигур?



4) Сколько групп по 5 вы можете выделить из 25 данных фигур?

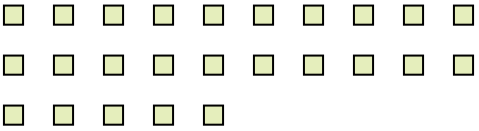

5) Сколько групп по 8 вы можете выделить из 32 данных фигур?



6) Сколько групп по 9 вы можете выделить из 18 данных фигур?

7) Сколько групп по 7 вы можете выделить из 14 данных фигур?

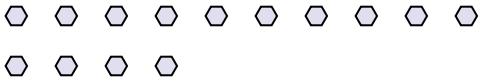

8) Сколько групп по 4 вы можете выделить из 20 данных фигур?

9) Сколько групп по 4 вы можете выделить из 12 данных фигур?

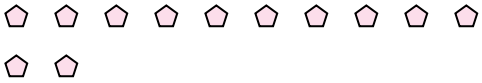

10) Сколько групп по 9 вы можете выделить из 18 данных фигур?

11) Сколько групп по 9 вы можете выделить из 18 данных фигур?

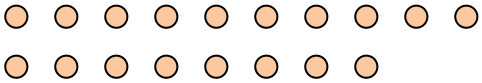

Ответы

Ex.	3
1.	4
2.	2
3.	10
4.	5
5.	4
6.	2
7.	2
8.	5
9.	3
10.	2
11.	2

1-10	91	82	73	64	55	45	36	27	18	9
11	0									